目　录

类比推理.....3
类比推理（一）.....4
类比推理（二）.....5
类比推理（三）.....6
类比推理（四）.....7
类比推理（五）.....8
类比推理（六）.....9
类比推理（七）.....10
类比推理（八）.....11
定义判断.....30
定义判断（一）.....13
定义判断（二）.....15
定义判断（三）.....17
定义判断（四）.....20
定义判断（五）.....22
定义判断（六）.....25
定义判断（七）.....27
定义判断（八）.....29
图形推理.....31
图形推理（一）.....34
图形推理（二）.....36
图形推理（三）.....37
图形推理（四）.....39
图形推理（五）.....41
图形推理（六）.....43
图形推理（七）.....45
图形推理（八）.....47
逻辑判断.....47
逻辑判断（一）.....51
逻辑判断（二）.....53
逻辑判断（三）.....55
逻辑判断（四）.....57
逻辑判断（五）.....60

逻辑判断（六）.....62
逻辑判断（七）.....64
逻辑判断（八）.....66
参考答案及解析.....70
【答案】类比推理（一）.....70
【答案】类比推理（二）.....70
【答案】类比推理（三）.....71
【答案】类比推理（四）.....72
【答案】类比推理（五）.....72
【答案】类比推理（六）.....73
【答案】类比推理（七）.....74
【答案】类比推理（八）.....74
【答案】定义判断（一）.....75
【答案】定义判断（二）.....76
【答案】定义判断（三）.....77
【答案】定义判断（四）.....78
【答案】定义判断（五）.....79
【答案】定义判断（六）.....80
【答案】定义判断（七）.....81
【答案】定义判断（八）.....82
【答案】图形推理（一）.....83
【答案】图形推理（二）.....84
【答案】图形推理（三）.....85
【答案】图形推理（四）.....85
【答案】图形推理（五）.....86
【答案】图形推理（六）.....86
【答案】图形推理（七）.....87
【答案】图形推理（八）.....87
【答案】逻辑判断（一）.....88
【答案】逻辑判断（二）.....89
【答案】逻辑判断（三）.....90
【答案】逻辑判断（四）.....91
【答案】逻辑判断（五）.....92
【答案】逻辑判断（六）.....94
【答案】逻辑判断（七）.....95
【答案】逻辑判断（八）.....96

类比推理

类比推理（一）

1.汗青：史册

A.干戈：玉帛　　B.狼烟：烽火

C.茱萸：重阳　　D.桑梓：故乡

2.风雨：风霜雪雨

A.伶俐：伶牙俐齿　　B.酸辣：酸甜苦辣

C.文武：文韬武略　　D.生死：生老病死

3.共产党员：模范

A.矛盾：统一　　B.文凭：智商

C.企业家：MBA　　D.新陈代谢：生命

4.自驾游　对于　（　　）　相当于　广场舞　对于　（　　）

A.健身　锻炼　　B.汽车　广场

C.导航仪　音乐　　D.男性　女性

5.超速：违章：车祸

A.成本：降低：盈利　　B.研发：品质：提升

C.量产：成本：下降　　D.降息：宽松：通胀

6.限购：观望

A.降价：甩卖　　B.升温：加热

C.责骂：抑郁　　D.挫折：坚强

7.飞碟　对于　（　　）　相当于　（　　）　对于　神话

A.飞行　哪吒　　B.科幻　风火轮

C.科技　西游记　　D.外星人　蒲松龄

8.赶尽杀绝：斩草除根

A.出类拔萃：青出于蓝　　B.空穴来风：无中生有

C.风声鹤唳：草木皆兵　　D.耳熟能详：历历在目

9.企业：股东：监管

A.学生：老师：交流　　B.事业：单位：改制

C.国家：军队：保卫　　D.专家：公众：服务

10.书籍：纸浆：纸张

A.雷雨：水汽：天气　　B.钢材：生铁：钢水

C.汉字：语言：字形　　D.核弹：原子：辐射

类比推理（二）

1.长安：西安

A.汴梁：开封　　B.上都：北京

C.洛阳：镐京　　D.金陵：杭州

2.投票：抽签

A.联系：沟通　　B.管理：服务

C.劝说：争辩　　D.推荐：号召

3.党员：干部：青年

A.化合反应：氧化反应：化学反应　　B.芦苇：吊兰：鸢尾

C.检察官：检察长：检察员　　D.处长：教授：博士

4.论证：证据

A.统治：权力　　B.决策：民主

C.咨询：建议　　D.谈判：风险

5.贪小：失大

A.因噎：废食　　B.贪得：无厌

C.按图：索骥　　D.节衣：缩食

6.单价：数量：总额

A.质量：密度：体积　　B.动能：速度：时间

C.电流：电压：功率　　D.长度：宽度：周长

7.坚定：犹豫不决

A.紧张：临危不惧　　B.沉默：滔滔不绝

C.安静：鸡犬不宁　　D.留恋：恋恋不舍

8.西施：鱼

A.赵飞燕：月亮　　B.杨贵妃：大雁

C.左思：纸　　D.曹娥：鱼

9.桃红：柳绿

A.天蓝：水碧　　B.金黄：银灰

C.鹅黄：土褐　　D.乌云：白雪

10.（　　）　对于　治理　相当于　学业　对于　（　　）

A.污染　攻读　　B.顽症　学习

C.清理　功课　　D.整顿　作业

类比推理（三）

1.刑法：民法：法律

A.黑色：白色：灰色　　B.北京：上海：广州

C.男人：女人：人类　　D.红茶：绿茶：茶叶

2.（　　）　对于　心花怒放　相当于　勤奋　对于　（　　）

A.心情　一曝十寒　　B.激动　妄自菲薄

C.高兴　废寝忘食　　D.难受　指日可待

3.口罩：唇膏

A.电源：电线　　B.布：颜料

C.油纸：雨伞　　D.化肥：犁头

4.玉石：雕琢：玉器

A.蚕丝：织造：丝绸　　B.粮食：酿造：美酒

C.生铁：冶炼：钢材　　D.蚊香：点燃：烟雾

5.印花布：印花税

A.迷魂汤：迷魂阵　　B.黄金矿：黄金周

C.热水瓶：热水袋　　D.方向舵：方向盘

6.黄豆：黄豆芽

A.蝴蝶：蝴蝶斑　　B.山药：山药蛋

C.马尾：马尾松　　D.虎骨：虎骨酒

7.桂花：木樨

A.菊花：幽草　　B.梅花：黄花

C.荷花：菡萏　　D.兰花：木兰

8.钻石：石墨：碳原子

A.氧气：氮气：空气　　B.山谷：河流：大海

C.米饭：大米粥：米粒　　D.树叶：枝干：大树

9.生产：供给

A.刮风：下雨　　B.立法：执法

C.骄傲：落后　　D.创新：创业

10.超速：交警：处罚

A.犯规：裁判员：禁赛　　B.超载：路政：卸货

C.故障：工程师：维修　　D.作弊：学生：重修

类比推理（四）

1.海水：盐分：细胞脱水

A.树木砍伐：沙尘暴：植树造林　　B.碳酸饮料：二氧化碳：骨质疏松

C.汽车运输：二氧化碳：气温升高　　D.温室效应：臭氧层破坏：皮肤癌

2.浙江：西湖：雷峰塔

A.甘肃：黄河：母亲河　　B.北京：长城：八达岭

C.江西：长江：滕王阁　　D.安徽：黄山：迎客松

3.往事：旧闻

A.阶级：政党　　B.风俗：习惯

C.志向：抱负　　D.偏见：异议

4.相得益彰：相形见绌

A.相敬如宾：相见恨晚　　B.相提并论：相映成趣

C.相辅相成：相反相成　　D.相煎太急：相依为命

5.鸽子：和平

A.硕鼠：聪明　　B.火炬：奥运

C.舵手：航海　　D.家犬：忠诚

6.图书：印刷

A.唱片：演唱　　B.会议：筹备

C.文字：书写　　D.蓝图：设想

7.站台：码头：停机坪

A.现金：支票：银行卡　　B.软件：硬件：互联网

C.外套：婚纱：羽绒服　　D.演员：群众：主持人

8.无边落木：不尽长江

A.千里冰封：万里雪飘　　B.晴川历历：芳草萋萋

C.映阶碧草：隔叶黄鹂　　D.山穷水复：柳暗花明

9.风媒花：风：授粉

A.蔬菜：温室：育苗　　B.果树：雨水：增产

C.小麦：雪：丰收　　D.绿色植物：阳光：光合作用

10.泥土：煅烧：陶瓷

A.煤炭：燃烧：热能　　B.玉石：雕刻：饰品

C.学生：学习：人才　　D.粮食：发酵：白酒

类比推理（五）

1.云汉：天河

A.火星：地球　　B.牛郎：织女

C.金乌：玉兔　　D.启明：长庚

2.碧螺春：茶叶：江苏

A.大熊猫：动物：中国　　B.火锅：川菜：重庆

C.胡萝卜：蔬菜：营养　　D.木兰：植物：四川

3.青春痘：痤疮：慢性

A.蛐蛐儿：蟋蟀：直翅目　　B.上元节：元宵：赏灯猜谜

C.兰花豆：蚕豆：豆科草本　　D.芙蓉花：木莲：喜光照

4.牙膏：刷牙

A.丝线：刺绣　　B.中国：国家

C.山脉：山峦　　D.课本：读书

5.地震：损失

A.火灾：消防　　B.违法：犯罪

C.燃煤：污染　　D.开车：车祸

6.失误：提醒：改正

A.存在：遗留：保持　　B.牵连：戒除：抛弃

C.取证：审理：判决　　D.通知：推荐：出面

7.秋裤：棉袄

A.内衣：袜子　　B.衬衣：领带

C.内裤：羽绒服　　D.皮鞋：棉裤

8.相敬如宾：举案齐眉

A.一见如故：一言难尽　　B.不劳而获：无功受禄

C.难分难舍：难能可贵　　D.因难见巧：因势利导

9.休戚相关：唇齿相依

A.日新月异：一成不变　　B.苦心孤诣：苦口婆心

C.养精蓄锐：竭尽全力　　D.鞭辟入里：入木三分

10.兴致：意兴阑珊

A.礼貌：彬彬有礼　　B.高兴：闷闷不乐

C.故意：吹毛求疵　　D.胆识：骁勇善战

类比推理（六）

1.唐诗：宋词

A.秦腔：清唱　　B.汉赋：元曲

C.唐宗：宋祖　　D.秦砖：汉瓦

2.花椒：生姜

A.蔬菜：菠菜　　B.盆子：浴缸

C.胸针：外套　　D.八角：茴香

3.（　　）　对于　害怕　相当于　侧目而视　对于　（　　）

A.胆战心惊　愤恨　　B.杯弓蛇影　轻视

C.草木皆兵　惊恐　　D.瞠目结舌　紧张

4.监督：人大：媒体

A.教育：小学：中学　　B.融资：借贷：赞助

C.增收：加薪：优惠　　D.惩罚：死刑：徒刑

5.石灰：石灰石

A.啤酒：啤酒花　　B.油灰：桐油灰

C.绢丝：绢丝纺　　D.山鸡：山鸡椒

6.方便面：小麦

A.电风扇：凉快　　B.日光灯：墙壁

C.千张结：黄豆　　D.矿泉水：营养

7.油　对于　（　　）　相当于　（　　）　对于　车

A.炒　开　　B.香　快

C.锅　人　　D.水　马

8.杂货店：百货公司：电子商城

A.玉石：宝石：水晶　　B.快餐店：餐馆：酒店

C.白炽灯：节能灯：LED灯　　D.钢笔：铅笔：圆珠笔

9.不塞：不流

A.不蔓：不枝　　B.不伦：不类

C.不折：不扣　　D.不止：不行

10.制定：公众参与：公共政策

A.国家：协议购买：公共服务　　B.推进：社会协同：国家治理

C.坚持：中国政府：改革开放　　D.人民：深切期望：社会稳定

类比推理（七）

1.学生：男学生：女学生

A.旋转：顺时针：逆时针　　B.整数：正数：负数

C.餐具：盘子：筷子　　D.词语：实词：虚词

2.研究生：硕士：博士

A.青少年：少年：青年　　B.妇孺：儿童：妇女

C.建筑：平房：高楼　　D.图形：直线：三角形

3.呐喊：鲁迅全集

A.物理：物理学　　B.商店：王府井社区

C.雷锋：解放军　　D.木材：大兴安岭林场

4.小麦：麦穗：麦粒

A.车子：车轮：轮胎　　B.棋类：围棋：棋子

C.学校：教室：学生　　D.房子：房间：卧室

5.（　　）　对于　入学　相当于　驾照　对于　（　　）

A.学生　司机　　B.通知书　开车

C.课堂　培训　　D.迟到　违章

6.纠纷：调解：和谐

A.矛盾：化解：正义　　B.病毒：消灭：健康

C.合同：签订：履行　　D.破产：重组：效益

7.差之毫厘：谬以千里

A.一着不慎：满盘皆输　　B.智者千虑：必有一失

C.宁为鸡口：毋为牛后　　D.以子之矛：攻子之盾

8.水滴：石穿

A.月黑：风高　　B.风起：云涌

C.唇亡：齿寒　　D.绿肥：红瘦

9.诗仙：李白

A.诗鬼：李贺　　B.诗魔：杜甫

C.诗圣：陆游　　D.诗狂：陈子昂

10.望梅止渴：曹操

A.鞠躬尽瘁：岳飞　　B.四面楚歌：刘邦

C.指鹿为马：赵括　　D.东窗事发：秦桧

类比推理（八）

1.字母：单词

A.省：国家　　B.宁波人：宁波

B.秒：分　　D.细胞：生物

2.树木：森林

A.水蒸气：云雾　　B.粮食：稻田

C.观众：球场　　D.零件：机器

3.奏折：公文：官吏

A.里弄：胡同：街道　　B.学堂：书院：教授

C.绝句：诗歌：诗人　　D.庙宇：住宅：僧人

4.想象思维　对于　（　　）　相当于　（　　）　对于　社交能力

A.认知能力　言语沟通　　B.创造能力　艺术表现

C.操作能力　信息储存　　D.模仿能力　体育运动

5.科技：创新：人才

A.食物：种子：农民　　B.文章：灵感：作者

C.流感：卫生：医生　　D.宗教：信仰：信徒

6.竞争：共赢

A.博弈：和棋　　B.判决：和解

C.买卖：互惠　　D.球赛：平局

7.长城：长江：中国

A.自由女神像：白金汉宫：美国　　B.金字塔：木乃伊：埃及

C.尼罗河：苏伊士运河：刚果　　D.大本钟：青瓦台：英国

8.安徽省：天长市

A.山东省：临汾市　　B.辽宁省：烟台市

C.浙江省：义乌市　　D.江苏省：南通市

9.李白：低头思故乡

A.苏轼：危楼高百尺　　B.杜甫：野火烧不尽

C.李清照：不肯过江东　　D.辛弃疾：白毛浮绿水

10.点石成金：涉笔成趣

A.无事生非：胆大妄为　　B.集腋成裘：聚沙成塔

C.阴差阳错：迷途知返　　D.无中生有：沽名钓誉

定义判断

定义判断（一）

1.加害给付，是指因债务人的履行行为有瑕疵，使债权人的其他利益受到损害。在加害给付中，债权人受到的损害，可能是财产利益，也可能是人身利益。

根据以上定义，下列属于加害给付的是（　　）。

A.商场售卖的家电质量不合格，致使消费者不能正常使用

B.租房客在租期届满时未及时将房屋交还房东，致使房东利益受损

C.甲将患有禽流感的鸡苗卖给乙，致使乙农场饲养的鸡鸭大量死亡

D.看病时医生业务不熟练，导致病人的病情未得到缓解

2.预付费陷阱：指商家以打折促销手段吸引顾客预付服务费用，但在后续服务中不能按照约定内容提供服务的现象。

假设这个定义是正确的、不容置疑的，则下列不属于预付费陷阱的是（　　）。

A.陈女士为儿子报了 10 次暑期英语培训课程，上了 3 次后因要外出旅游便要求退还剩余 7 次课程的费用，但培训机构拒绝退还

B.李女士在某美容店购买了一张价值 1000 元的会员卡，但过几天李女士再去该店做美容时却被告知，她买的会员卡不能使用，因为该美容店已换了老板

C.孟先生办理了 20 元/次的洗车年卡，但春节期间来洗车却被告知，洗车卡不能使用，洗车费用调到 50 元/次。洗车店老板解释说，过年嘛，肯定跟平时不一样

D.熊先生在一家健身中心教练的热情推荐下，当场刷卡 2 万元办理了原价 3 万元的健身年卡，半月之后，当熊先生再去健身中心时，发现那里早已人去楼空

3.临时救助制度，是指国家对遭遇突发事件、意外伤害、重大疾病或其他特殊原因导致基本生活陷入困境，其他社会救助制度暂时无法覆盖或救助之后基本生活暂时仍有严重困难的家庭或个人给予的应急性、过度性的救助。

根据上述定义，下列属于临时救助制度的是（　　）。

A.某企业派驻海外的员工被恐怖主义组织绑架，中国外交部与当事国政府交涉，请求协助解救人质

B.某地发生地震后，当地民政部门对因灾生活困难的群众每人每天发放一定标准的补助金

C.某街道办事处对家庭成员人均收入低于当地城市居民最低生活保障标准的家庭提供最低生活保障

D.某报社与社会各界爱心人士启动一对一阳光助学活动，资助贫困大学生入学费用和生活费用

4.三权分立：立法权、行政权和司法权相互独立、互相制衡。三权分立具体到做法上，即为行政、司法、立法三大权力分属三个地位相等的不同政府机构，防止专制和独裁。

根据以上定义，下列哪项不属于三权分立思想？（　　）

A.美国 1787 年宪法立国时规定，行政权属于总统，立法权属于参议院和众议院，司法权属于最高法院

B.中华民国成立后，颁布了《中华民国临时约法》，临时大总统、临时参议院和法院分享权力，互

相制衡

C.唐代改一人任宰相的局面，推行三省六部制，三省长官皆为宰相，三个宰相之间互相牵制，又分工合作，提高了工作效率

D.美国宪法之父麦迪逊认为，三个互相制约的魔鬼要强于一个没有制约的天使

5.学习迁移：是指一种学习对另一种学习的影响，指在一种情境中获得的技能、知识或态度对另一种情境中技能、知识或态度的获得形成的影响。

根据上述定义，以下不属于学习迁移的是（　　）。

A.触类旁通　　B.照本宣科　　C.闻一知十　　D.举一反三

6.抱团养老：指一些老同事、老同学或老朋友主动结伴生活在一起的一种新型养老模式。

假设这个定义是正确的、不容置疑的，则下列属于抱团养老的是（　　）。

A.小李平时上班很忙，但每逢节假日他喜欢约上几位好友一块出游，他的理念是既要工作，更要玩乐，因为再不抓紧玩，很快就老了

B.张大爷几年前从农村搬到城市与儿子同住，但儿子媳妇均很忙，无暇照顾他，他只好跑到附近的老年服务站，结识了不少与他有同样经历的老人

C.孙先生是东北人，早就与几个好友约定退休后一起去海南生活。现在他们都是三亚某楼盘的住户，经常一起聊天、下棋

D.年近八旬的王某，得知老同学最近丧偶，就盛情邀请老同学来自己家小住几日散散心，两位老人在一起畅叙旧日往事，不胜感慨

7.社会工作：是一种以帮助人和解决社会问题为职业工作，它是专职的社会工作者或社会工作单位以专业的技能与手法，秉承助人自助的理念，帮助社会上的贫困者、老弱者、身心残障者和其他不幸者，使其达到自我潜能的发挥，获得分析与解决问题的能力，最终得到问题的解决或改善。

根据以上定义，下列属于社会工作的是（　　）。

A.中国红十字会为非洲某国提供一批药品，并组织力量帮助该国培养医务人员

B.浙江省民政系统工作人员在汶川大地震后向灾区捐钱捐物

C.张大妈原是福利院工作人员，上个月退休后，一直在帮助社区居委会照顾社区中活动不便的残疾人

D.王某是一名社会工作者，他一直运用自己掌握的心理学技能鼓励身患绝症的妻子要勇敢地面对生活

8.增强现实技术，它是一种将真实世界信息和虚拟世界信息“无缝”集成的新技术，是把原本在现实世界的一定时间空间范围内很难体验到的实体信息（视觉、声音、味道、触觉等），通过电脑等科学技术，模拟仿真后再叠加，将虚拟的信息应用到真实世界，被人类感官所感知，从而达到超越现实的感官体验。

根据上述定义，下列选项不属于增强现实技术的是（　　）。

A.某海底漫游系统通过交互体验设备让用户与虚拟场景中的海洋生物互动、嬉戏

B.某游戏运动追踪器侦测用户运动，并通过头盔显示器为用户提供包括虚拟景观的视野

C.某艺术家引导用户在物理空间中遵循播放器的指令行动进而成为其所设计情境的参与者

D.某科学家研制的智能隐形眼镜通过无线技术接收手机数据，并将手机上的图像投射到眼睛上

9.文化震惊：生活在某一文化中的人，当他（她）初次接触到另一文化模式时所产生的思想上的迷惑、混乱与心理上的震撼。

根据上述定义，下列属于文化震惊的是（　　）。

A.王老先生是一位著名的科学家，当有一个12岁的孩子用一个简单算式来质疑他最近公布的一项研究成果时，王老先生对此感觉非常震惊

B.小李大学毕业后，基层工作中遇到的一些事，觉得好像和在学校时差不多，感到惊讶

C.明明高中毕业后就出国了，当他读完文学硕士归国，发觉国内的新兴小说发展非常快，内心很是震惊

D.露西是中外交换生，第一次来到中国，对中国的传统礼节很不熟悉，觉得中国礼节非常奇怪

10.定义：

①犯罪预备：为了犯罪而准备工具、创造条件的行为。

②犯罪未遂：已经着手实行犯罪，由于犯罪分子意志以外的原因而未得逞的行为。

③犯罪中止：在犯罪过程中，自动中止犯罪或自动有效地防止犯罪结果发生的行为。

典型例证：

（1）贾某计划用安眠药害死李老太，故到药店购买了大量安眠药。

（2）老刘外地打工回来，听说妻子与同村老李有奸情，老刘欲寻仇杀死老李。

（3）某小偷半夜潜入某老人家中行窃，发现老人是抗战老兵，遂放弃行窃，悄悄离开。

上述典型例证与定义存在对应关系的数目有（　　）个。

A.0　　B.1　　C.2　　D.3

定义判断（二）

1.我国刑法规定，抢劫罪是指以非法占有为目的，对他人人身采取暴力、暴力威胁或者其他方法，强行获取公私财物的行为。

根据上述定义，下列行为不构成抢劫罪的是（　　）。

A.王某趁张某不备，抢走其价值10000元的背包

B.洪某在火车上将安眠药注入饮料罐让张某喝下，趁其昏睡盗走其现金10000元

C.李某夜晚入户盗窃，取走张某衣服中的5000元现金。张某被惊醒，李某持刀威胁张某后携财物逃走

D.张某欠刘某5000元不还，刘某将张某骗至家中，威逼张某交出其银行卡并说出密码，刘某到银行取走10000元后，将张某放回

2.行政许可，是指行政机关根据公民、法人或者其他组织提出的申请，经依法审查，准予其从事特定活动的行为，但有关行政机关对其他机关或者其直接管理的事业单位的人事、财务、外事等事项的审批，不属于行政许可。行政许可的目的在于维护公共利益和社会秩序，保障和监督行政机关有效实施行政管理。

根据上述定义，下列审批属于行政许可的是（　　）。

A.某市公安局鼓楼分局向市公安局申请有关“刑事侦查技术创新”的课题并获得批准

B.乙某向某市司法局递交律师执业申请得到批准，获颁律师执业证

C.某高校向上级主管机关报告请求追加年度预算500万元并获得批准

D.某市公安局拟录用丙某为该局民警而报送上级主管机关审批，获得批准

3.土地增值税：是指转让国有土地使用权、地上的建筑物及其附着物并取得收入的单位和个人，以转让所取得的收入包括货币收入、实物收入和其他收入为计税依据向国家缴纳的一种税赋，不包括以继承、赠予方式无偿转让房地产的行为。

下列应该缴纳土地增值税的是（　　）。

A.老张在市中心有一间平房，他答应了开发商提出的土地与房屋置换方案，搬进了新家

B.农业厅将老办公楼租给某企业，在另一个地方新建了办公大楼

C.小王在地震中救了富翁马某，马某十分感激，送了一套房子给他

D.余明的父亲过世了，他取得了其父亲房产的所有权

4.绿色推广：是指通过绿色营销人员的绿色推销和营业推广，直接向消费者宣传、推广产品绿色信息，讲解、示范产品的绿色功能，回答消费者绿色咨询，宣讲绿色营销的各种环境现状和发展趋势，激励消费者的消费欲望。

根据上述定义，下列属于绿色推广的是（　　）。

A.市自来水因某化工厂污水排放泄露受污染，化工厂设立咨询台，向当地居民解释并赔偿经济损失

B.某发电厂自行提高排污标准，创建绿色厂区、花园厂区

C.某汽车营销公司为雷诺的塔菲克系列轻客在亚运村汽车交易市场举办了“还首都一片蓝天——塔菲克汽车环保行动月”活动

D.某市移动公司组织“保绿色、献爱心”公益大赛，筹集青海地震善款

5.同类群体影响力：是指人们对他人（尤其是类似群体）的行为总会作出某种反应；类似程度越高，影响力越大。比如对某种良好行为规范大力宣传，往往会形成所谓的“磁心”，吸引人们仿效。

根据上述定义，下列不属于同类群体影响力的是（　　）。

A.某市要求养宠物的市民必须到定点单位办理相关手续

B.某市政府对见义勇为的人员进行了大力精神和物质奖励，该市见义勇为的情形越来越多

C.小强自从普通班调到实验班后，在周围同学的带领下，学习的积极性明显提升

D.论文抄袭是一种学术欺诈行为，在一些高校抄袭之风越演越烈

6.注意分为内源性注意和外源性注意。内源性注意是指个体根据自己的目标或意图来分配注意、支配行为，是主动注意；外源性注意是指由个体外部信息引起的个体注意，是被动注意。

根据上述定义，下列属于内源性注意的是（　　）。

A.基于对客户喜好的判断，某家居装潢设计师特别收集了大量简欧风格的装修素材

B.“轰”的一声响，大家不由地都回头看了一眼

C.某小区临街的住宅楼安装了大量的霓虹灯，晚上该楼的很多居民因窗外的灯光太亮而失眠

D.某广告公司的大型飞艇在城市上空巡弋，引起了行人的注目

7.互助游是指有旅游意向的双方利用互联网等媒介中的人脉关系交换旅游资源，相互提供帮助而实现旅游的方式，达到双方都能降低旅游成本、实现深入体验旅游的目的。

根据上述定义，下列涉及互助游的是（　　）。

A.小张在北京读书，利用暑假时间到同学所在的城市旅游，期间住在同学的宿舍

B.小王家住南京，准备到西藏旅游，邀请家住西安的网友同行，分摊支出，旅途中互相帮助

C.小刘住在北京，在桂林旅游期间住在网友家里，对方到北京旅游时，自己也向对方提供住宿

D.小赵住在上海，到海南旅行，食宿与行程均由朋友安排负责，小赵返沪后邀请朋友到上海玩

8.互惠法则：指人们在交往过程中尽量采用相同或对等方式回报他人的行为准则。

假设这个定义是正确的、不容置疑的，则下列属于互惠法则的是（　　）。

A.爱屋及乌　　B.同病相怜　　C.李代桃僵　　D.投桃报李

9.海洋能，是指依附在海水中的可再生能源，海洋通过各种物理过程接收、储存和激发能量，这些能量以潮汐、波浪、温度差、盐度梯度、海流等形式存在于海洋之中。

根据上述定义，下列不属于利用海洋能的是（　　）。

A.甲海洋工程公司利用海水的日夜温差为工程机械提供电力

B.乙船舶公司利用海水盐度差为轮船提供照明

C.丙能源公司利用海面上气流为居民提供照明

D.丁发电厂利用潮汐为造船厂提供电力

10.体验式教学法是指在教学过程中为了达到既定的教学目的，从教学需要出发，引入、创造或创设与教学内容相适应的具体场景或氛围，以引起学生的情感体验，帮助学生迅速而正确地理解教学内容，促进他们的心理机能全面和谐发展的一种教学方法。

根据上述定义，下列没有采用体验式教学法的是（　　）。

A.在刑法课堂上，由学生扮演老师进行案例分析

B.在模拟法庭上，学生充当律师对证人进行直接询问和交叉询问

C.法律诊所中，学生们直接会见当事人，教师通过视频指导和督导学生

D.在民事诉讼法课堂上，教师给学生分配角色，分别担任当事人、律师和法官

定义判断（三）

1.物证和书证是刑事诉讼证据的两种主要形式。物证是指以其外部特征、存在场所、物质属性证明案件真实情况的一切物品和痕迹；书证是能够根据其表达的意思和记载的内容查明案件事实情况的一切物品。一个物品即使是记载文字、符号、图画等，如果不是以其记载的内容或表达的思想来证明案件事实，它也不是书证而是物证；如果一个物品不仅能以其记载的内容或表达的思想来证明案件事实，而且也能以其外部特征、存在场所、物质属性证明案件真实，这个物品既是物证又是书证。侦查人员在案发现场收集到一封信和一张纸条，信的内容与案件无关，但根据通信对方的姓名和地址找到了犯罪分子；

字条的内容也与案件无关，但根据笔迹鉴定找到字条的书写人从而发现了犯罪分子。

根据上述定义，下列说法正确的是（　　）。

A.信件是物证，字条是物证　　B.信件是物证，字条是书证

C.信件是书证，字条是物证　　D.信件是书证，字条是书证

2.人格权是法律赋予民事主体以人格利益为内容的，作为一个独立的法律人格所必须享有且与其主体人身不可分离的权利。人格权作为基于人的存在而须臾不分的权利，只要自然人出生、法人成立，无需任何意思表示或经过特别授权，就当然取得并受到法律保护。身份权是民事主体基于某种特定的身份享有的民事权利，它不是每个民事主体都享有的权利，只有当民事主体从事某种行为或因婚姻、家庭关系而取得某种身份时才能享有。

根据上述定义，下列各项子定义所界定的概念属于身份权的是（　　）。

A.身体权，是指自然人对其肢体、器官和其他组织的完整依法享有的权利

B.亲权，是指父母对未成年子女人身、财产方面管理和保护的权利

C.姓名权，是指自然人依法享有的决定、使用、改变自己姓名并排除他人侵害的权利

D.肖像权，是指公民通过各种形式在客观上再现自己形象而享有的专有权

3.财政支出，是指政府为了履行职能，取得所需商品和劳务而进行的资金支付。按照交易的经济性质，财政支出可以分为购买性支出（或消耗性支出）和转移性支出。转移性支出是指政府向受益对象拨付资金但并不要求获得相应物品和劳务，主要目的是为了提高受益对象的购买力和实现社会财富在各个社会主体之间的重新公平分配。

根据上述定义，下列属于转移性支出的是（　　）。

A.政府向军工企业拨付专项款项，用于研发新一代战斗机

B.政府向地震灾区拨付专项资金，用于受灾倒塌住房的重建

C.政府向节假日上班的工作人员发放三倍工资津贴

D.政府扩建高速铁路网，以满足客流量和货物吞吐量不断扩大的需求

4.青蛙效应：如果把一只青蛙放在沸水中，它便会纵身而出；如果把一只青蛙放进温水中，它会感到比较舒服。然后再慢慢升温，即使水温升至80℃，青蛙也仍会若无其事地待在水里，随着水温继续上升至90～100℃时，青蛙就会变得越来越虚弱，在此情况下，青蛙已经失去自我脱险的能力，直至把它煮熟为止。

根据上述定义，下列不属于青蛙效应的是（　　）。

A.当前，父母往往舍不得批评子女，总认为子女做错事后会改正，使得很多孩子不能正确认识自己，在成长中变得非常脆弱，缺乏成长的持续性

B.某企业在进入某行业时，并未一开始就和该行业龙头企业叫板，而是从组分市场、空白市场逐步推进，起初龙头企业因其规模太小未加以重视，等发现时两者市场占有率已经相差无几了

C.环境污染总是在人们毫无察觉时出现，当污染慢慢加重，人们也依旧浑然不觉，若不加以控制，环境污染可能会给人类带来灾难性后果

D.只要功夫深，铁棒磨成针

5.职业基因是指每个人的职业方向都与自己的某种气质相匹配，这种气质是在人际交往中潜移默化而形成的一种带有强烈个人色彩的心理修养。

根据上述定义，下列现象中符合职业基因理论的是（　　）。

A.小明的父母都是教师，最终小明也选择了教师职业

B.小红从小爱看动画片，长大后成为一名动漫设计师

C.性格开朗、活泼好动的小丁应聘为某商城销售人员

D.快言快语的小李毕业当了两年医生变得慢条斯理

6.同群效应，是指处于社会中的个体的行为不仅会受个体自身特质的影响，同时也会受周围与他具有相同或相似的地位、经历或背景的人的影响，从而改变个体单独存在时可能采取的行为。

根据上述定义，以下属于同群效应的是（　　）。

A.小江在超市看到很多人在排队购买打折的鸡蛋，她想起家里的鸡蛋快要吃完了，于是跟别人一起去排队了

B.小娜原计划大学毕业就参加工作，但宿舍同学都积极准备考研，小娜认为考研也不错，也加入了考研的行列

C.小赵腿部有残疾，但他并不消沉，他用张海迪等人的事迹鼓励自己，身体残疾的人通过努力也可以为社会创造价值

D.小方认为人都应该建立家庭、生儿育女，后来她认识了一些独身主义者，认识到人有多种生活方式可以选择

7.网络集群行为，指一定数量的相对无组织的网民，在网络环境中或在网络传播影响下，针对某一共同影响或刺激产生的群体性行为。

根据上述定义，下列属于网络集群行为的是（　　）。

A.网友们为抵制非理智追星而发起的“69”圣战

B.为调查网上热传的“陈易卖身救母”事件，一名深圳网友前往四川调查真相

C.某高校要求学生通过教室微信扫二维码完成签到工作

D.暴雪公司开发的“魔兽世界”游戏中的公会成员线下不定期聚会

8.预期社会化，是一种指向未来角色的社会学习过程。在这一过程中，人们要学习的不是现在要扮演的角色，而是将来要扮演的角色。

根据上述定义，下列属于预期社会化的是（　　）。

A.为了能出国读大学，中学生小李努力学习英语准备托福考试

B.初为人母的小张开始学习给婴儿喂奶、洗澡、换纸尿布等

C.为了更好地适应今后的生活，退休后的老赵开始学习太极拳和书法

D.小明的理想是当一名厨师，刚上初中就开始钻研菜谱

9.感知综合障碍是指病人在感知某一现实事物时，作为一个客观存在的整体来说是正确的，但对该事物的个别属性，如大小、形状、颜色、空间距离等产生与该事物不相符合的感知。

根据上述定义，下列属于感知综合障碍的是（　　）。

A.王某由于沉迷于游戏而经常出现幻觉，眼前浮现游戏中打斗的场景

B.张某最近一段时间以来经常觉得正在摆动着的钟摆停止了摆动

C.由于眼睛高度近视，李某在大街上经常会认错人，心里非常苦闷

D.孙某对颜色的辨别能力差，经医生检查发现这是色弱的表现

10.泛化是指当某一反应与某种刺激形成条件联系后，这一反应也会与其他类似的刺激形成某种程度的条件联系。心理学上的解释是指引起求助者目前不良的心理和行为反映的刺激事件不再是最初的事件，同最初刺激事件相类似、相关联的事件，甚至同最初刺激事件不类似、无关联的事件，也能引起这些心理和行为反应。

根据上述定义，下列属于泛化现象的是（　　）。

A.风声鹤唳　　B.惊弓之鸟　　C.四面楚歌　　D.疑神疑鬼

定义判断（四）

1.经济分析法学派认为，法律的根本宗旨在于通过法律的参与使社会财富达到效益的极大化，也就是以价值极大化的方式分配和使用资源。因此，不但所有法律法规都有其经济根源，而且一切法律问题归结起来都是经济问题。

根据上述定义，下列学者的观点中，属于经济分析法学派的是（　　）。

A.对于罪犯而言，由于犯罪对他的预期收益大大超过其预期成本，所以，其才会实施犯罪

B.法律进化的根本性动力是社会不断增进的复杂性，随着社会复杂性的增进，法律也会相应发生改变

C.法律作为社会工程或社会控制的手段，任务就在于满足人们的各种要求和愿望

D.法律是人类为达到一定目的而有意识地创造出来的规则，其目的就是利益，包括个人利益和社会利益

2.超越因果关系，是指侵害人的行为导致受害人损害的发生，然而即使没有该侵害行为，同样的损害也会因为其他独立于该侵害行为的事由发生。这里的其他事由既包括可归责于他人的侵害行为，也包括非可归责于他人的自然事件、受害人或客体自身的特殊情况。

根据上述定义，下列不属于超越因果关系情形的是（　　）。

A.赵某打球时不小心打碎了G酒店的玻璃，但不久后，该酒店的玻璃因为王某制造的爆炸事件全部破碎了

B.李某给自己的玉米地喷药，药水飘到张某的西瓜地，导致张某的西瓜大面积受损。在双方争执期间，洪水将李某的玉米和张某的西瓜都冲得无影无踪

C.林某出差前两天，在路上行走时被醉酒的王某误以为是仇人而被打死，后得知林某预定的航班发生空难，机上无一人生还

D.患者因医生的医疗过失行为而失明，然而即使不存在医生的医疗过失行为，该患者也会因其特殊体质而失明

3.周期性行业，是指行业的景气度与外部宏观经济环境高度正相关，并呈现周期性循环的行业。其

特点是产品价格、需求以及产能呈现周期性波动的，行业景气度高峰期来临时，产品需求上升，价格上涨，为满足突然膨胀的需求，产能大幅度扩张，而在萧条期时则相反。

根据上述定义，下列属于周期性行业的是（　　）。

A.电力行业　　B.教育行业　　C.餐饮行业　　D.医药行业

4.宏观经济调控政策主要包括财政政策和货币政策。其中货币政策是指国家为实现宏观经济目标而采取的控制和调节货币数量、信贷规模和利率水平及稳定币值的一种经济政策。货币政策工具主要有利率、法定存款准备金率、公开市场业务、再贴现率等，一般由中央银行来制定和执行。

根据上述定义，下列各项中不属于货币政策的是（　　）。

A.扩大对“三农”领域信贷发行规模

B.为降低房地产库存，国家出台政策降低房地产交易税率

C.下调存贷款利率

D.实行人民币自由浮动汇率制

5.职业认同感是指个体对其所从事的职业的肯定性评价。

根据上述定义，下列人员具有职业认同感的是（　　）。

A.小王，军人，他常为自己足球踢得好而自豪

B.小刘，公司文员，多次被自己上司周经理表扬其秘书工作做得好

C.小魏，大学生，准备大学毕业后回到偏僻的家乡去教书，因为他觉得老师这个职业很伟大

D.小李，医生，工作特别努力，他觉得国家给自己这么高的薪酬，能为他人解除痛苦是一种快乐

6.例外管理指的是最高管理层将日常发生的例行工作，拟就处理意见，使之规范化（标准化、程序化），然后授权给下级管理人员处理，而自己主要去处理那些没有或者不能规范化的例外工作，并且保留监督下级人员工作的权力的一种管理制度或原则。

根据上述定义，以下哪项属于例外管理？（　　）

A.某公司为了应对突发事件，聘请专家到公司调研，制定了突发事件处理预案

B.某日，李局长听到单位门前人声鼎沸，立即放下手中的工作，带领办公室人员去一探究竟

C.汉代一丞相初春外出巡视，遇到杀人事件没有处理，但看见在路边的牛喘气异常，认为是天气异常的征兆，立即停下来，仔细询问农人

D.张某是一大学分管后勤工作的副校长，同学问他是否管理后勤，他回答说：不是，我管理那些管理后勤的人

7.投射测验是指采用某种方法绕过受测者的心理防御，在他们不防备的情况下探测其真实想法。在实际测验中，测试者往往会给受测者一些模糊刺激，观察他们对这些模糊刺激作出的反应，进而得出测试结论。

根据上述定义，下列属于投射测验的是（　　）。

A.为了选拔合唱队员，音乐课上老师让每位同学唱一首歌

B.饭店老板临时外出，让顾客自行将钱放在柜台的盒子里

C.在考生面试进场前，考官故意将一些散乱的书堆在考场入口

D.老张想考察几个年轻人，下班前故意将钱包落在办公桌上

8.从众，是指个体在群体的压力下，不由自主地改变个人意见而与多数人取得一致思想和行为的现象。

以下不属于从众的是（　　）。

A.日本地震引起核泄漏，吃碘盐可以防辐射的谣言一出，超市碘盐脱销

B.新生入校，大学随机安排宿舍，一年后，每个寝室都形成了各自的学习氛围

C.在公司调研会上，小李说服多数与会者作出了一个后来被证明是正确的决定

D.当人凑多了，某人跟着人群一起闯红灯过马路

9.随意注意，是指有预定目的、需要一定意志努力的注意；不随意注意是事先没有预定的目的，也不需要作意志努力的注意；随意后注意是在随意注意之后发生的，既有一定的目的任务，又不需要意志努力的注意。

根据上述定义，下列属于随意后注意的是（　　）。

A.小林在看杂志时发现了一幅插画，他觉得很不错就用照相机拍了下来

B.某射箭运动员比赛时过度紧张，致使射第一箭时角度出现了严重偏差，只获得 2 环的成绩

C.小林在窗前读书时，突然听到了外面有一些声响，他抬头一看发现有两只小鸟停在了树上

D.小王刚学开车时必须全神贯注，熟练后，上班途中可以边开车边听广播

10.漂二代：指在故乡出生后又离开故乡，随父母一起在外漂泊的人。

假设这个定义是正确的、不容置疑的，则下列属于漂二代的是（　　）。

A.张某在国外打拼了 10 年，找到了稳定的工作，为了尽孝，把国内年老的父母接到身边照顾

B.王某离开偏僻的小山村，在某大城市当快递员，两年后遇到心上人，闪婚后生了一个胖小子

C.程某小学刚毕业，老家拆迁，他父母到北京打工，他则在北京五环外的一所民工子弟学校读书

D.小江的妈妈调到南方的某高校任教，小江自己则考上北方的一所大学

定义判断（五）

1.转继承，是指继承人在继承开始后，遗产分割之前死亡，其应继承的遗产转由他的合法继承人继承的制度。

根据上述定义，下列行为符合转继承制度的是（　　）。

A.小刚在继承父亲的遗产后明确表示自己继承的这些遗产将归其女儿继承

B.李爷爷在刚刚决定由其大儿子继承遗产后大儿子意外死亡，只好改由二儿子继承

C.张军在其爷爷刚去世，其父亲刚接受这笔遗产时暗害了其父亲，从而继承了遗产

D.陈某在接受其丈夫留下的遗产后突然遭遇车祸身亡，因此其儿子依法继承了她的这一份遗产

2.承诺是指受要约人同意要约的意思表示，承诺由受要约人作出，对要约未作出实质性改变，在要约确定的期限内作出并到达要约人。

以下构成承诺的是（　　）。

A.袁某根据某体育用品厂要约的价格在其确定的期限内同意购买体育用品，但要求修改要约中的原

产地

B.何某向刘某发出要约，要求 10 天内给予答复，刘某未能如期答复

C.甲向乙发出要约，丙得知后表示接受甲的要约

D.丙向丁发出要约，丁考虑后向戊表示同意甲的要约

3.农业干旱是指作物生育期内，由于土壤水分不足而造成作物体内水分亏缺，影响作物正常生长发育。水文干旱是指由于降水的长期短缺而造成某段时间内地表水或地下水收支不平衡，出现水分短缺，使江河流量、湖泊水位、水库蓄水等减少的现象。社会经济干旱是指自然系统与人类社会经济系统中水资源供需不平衡造成的异常水分短缺现象，如果需大于供，就会发生社会经济干旱。

根据上述定义，下列选项属于社会经济干旱范畴的是（　　）。

A.一月未雨，某著名河流流域出现大规模的河床裸露现象

B.地铁建设施工队不慎挖破水管，导致几个小区停水一天

C.常年少雨导致某工业区推行按时段浮动征收水费的方法

D.半月不曾下雨，某区水稻出现穗长缩短、穗粒减少现象

4.价格需求弹性：指需求对价格变动的反应程度或敏感程度，其大小以系数 Ep=需求变动（%）÷价格变动（%）的绝对值来表示。

根据上述定义，下列哪一种说法是正确的？（　　）

A.当需求价格弹性系数 Ep＞1 时，表示价格的变化会引起需求量较大幅度的变化

B.当 Ep=1 时，表明价格变动对需求量变动的影响很小，因而可以尽可能提价销售

C.Ep 的大小实际上反映了需求对成本变动的敏感程度

D.根据供求规律，不可能存在 Ep＜1 的商品

5.行政比例原则是指行政主体实施行政行为应当兼顾行政目标的实现和相对人权益的保护。如果初始行政目标可能对相对人权益造成某种不利影响，应使这种不利影响限制在尽可能小的范围和限度内，保持二者处于适度的比例。

根据上述定义，下列选项符合行政比例原则的是（　　）。

A.王某因在商业区摆地摊，被城市管理部门以无证经营为由罚款 5 万元

B.谭某在批准建设的三层楼房上加盖二层，被责令拆除加盖的二层楼房

C.马某醉酒驾车，酒精含量为 300mg/100ml，被处 3 个月拘役、缓刑一年

D.张某和李某互殴，张某将李某打成轻微伤，被处罚款 500 元并拘留 15 天

6.污名化，是指一个群体将人性的低劣强加在另一个群体之上并加以维持的动态过程，它是将群体偏向负面的特征刻板印象化，并由此掩盖其他特征，成为在本质意义上与群体特征对应的指标物，在这个过程中，处于强势且不具污名的一方最常采用的策略是“贴标签”。

根据上述定义，下列不属于污名化的是（　　）。

A.国外某旅游景区在醒目位置用中文标注“中国人不准随地吐痰”

B.许多企业、组织在招聘启事中明确“不招收有犯罪记录的人员”

C.在城市生活多年的小李认为农村妇女“土气、没文化”

D.某地盛行“好男不娶福州女，好女不嫁莆田男”的说法

7.维特效应即自杀模仿现象，是指自杀行为具有一定的模仿性和传染性。即在一个团体中，如果成员共同存在某一种情绪（通常是负面的情绪），但缺乏正确的应对手段和宣泄渠道，此时有个体选择一种方式发泄，其他个体就会倾向于模仿。

根据上述定义，下列属于维特效应的是（　　）。

A.高三学生小李为了释放高考压力每天坚持长跑，带动其班上的同学纷纷加入跑步运动

B.某高校频繁出现学生集体旷课的情况，校方为了阻止事态蔓延，出台了相应的管理政策

C.幼儿园老师每天给表现优秀的小朋友发一颗五角星，小朋友们纷纷模仿，折五角星送给自己喜欢的小伙伴

D.某公司工作压力过大，导致员工小吴因无法承受压力而选择离职，于是其他员工也纷纷产生离职的想法

8.白日梦指一种适度的意识状态的改变形式，注意力不再诉诸对环境刺激的反应，而是转向对内在刺激的反应。思维报告反映出注意偏离了现时要求的任务，不指向任何现时的外部刺激。一般来说，白日梦是人独处和放松休息时普遍的一种活动，在人们入睡前的短暂时刻里最多见，清醒时、就餐时、性生活时最少见。

根据上述定义，下列属于白日梦现象的是（　　）。

A.在看韩剧的时候她经常把自己想象成剧中的女主角

B.中午午睡的时候他做梦自己成了百万富翁

C.小明患有精神分裂症，常常说自己是玉皇大帝

D.恍惚中，她觉得日夜思念的爱人就在眼前

9.生物节律是一种生物内在的、复杂而精细的生理调节系统，它使动植物得以根据外界环境的周期性变化来协调自身新陈代谢及各种生理过程，从而与环境保持同步。

根据上述定义，下列哪项不属于生物节律的范畴？（　　）

A.银汉鱼只在涨潮时在岸上产卵

B.蜜蜂通过比较太阳与自身的位置关系来辨别方向

C.蒲公英每天以半小时为周期绽放、凋落

D.旅客乘飞机到国外需要休息一两天倒时差

10.软新闻：是指富有人情味、纯知识、纯趣味的新闻，向受众提供娱乐，使其开阔眼界，增长见识，陶冶情操，或作为人们茶余饭后的谈资，它和人们的切身利益并无直接关系。

根据上述定义，下列属于软新闻的是（　　）。

A.某世界著名足球运动员儿时被父母丢弃，在孤儿院长大

B.长江今年第二次洪峰昨日凌晨已过汉口，百里长堤巍然屹立

C.拉登昨晚遇刺

D.国家出台房地产市场调控政策

定义判断（六）

1.行政强制执行，是指公民、法人或其他组织不履行法律规定的义务或不履行行政机关作出的行政处理决定中规定的义务时，有关国家机关依法强制其履行义务或达到与履行义务相同状态的行为。

根据上述定义，下列不属于行政强制执行的是（　　）。

A.某“钉子户”无理由拒不搬迁，当地人民政府在反复教育无效的情形下，与有关部门配合拆除其房屋

B.某市工商行政管理局发现某公司产品涉嫌侵犯某著名注册商标专用权，遂对该产品实施扣押强制措施

C.某市人民法院委托拍卖机构拍卖了一家小型企业的财产，保证与之相关的行政处罚决定得以执行

D.某市社会保障部门对未按时足额缴纳社会保障费且逾期未改的用人单位，申请强制划拨银行存款

2.资源民族主义，是指基于国家对自然资源的合法管辖，通过控制和支配资源，以及市场干预行为，实现为政治服务和国家特定发展等目标。

根据上述定义，下列属于资源民族主义的是（　　）。

A.某国发展与石油资源国的合作，持续推进原油进口来源多元化

B.某国加强了某稀有金属开矿许可，并为外资企业投资设立高门槛

C.某公司研发的特色旅游纪念品在市面上广受欢迎，不得不限量发售

D.政府组织商科技企业生产高质量钢铁并依靠出口获得利润

3.多数人暴政，是指在公共生活中，人们往往难以就某一个涉及公共领域的问题达成完全一致意见，为了追求一致同意的结果，人们确立了多数决定原则。但是，在多数决定原则下，与多数人利益不一致甚至是相对立的少数人利益，由于无法获得多数票，就遭到了忽视甚至侵害。

根据上述定义，下列属于多数人暴政的是（　　）。

A.某地方政府因媒体舆论压力放弃某大型石化项目

B.纳粹德国的立法机关通过歧视、驱逐、屠杀犹太人的法律

C.某国民众就黑人青年被枪击事件举行大规模抗议活动

D.某垃圾焚烧场因污染空气引发周边居民冲击被迫关闭

4.狭义的行政管理，是指各级国家行政机关以公共利益为目的，依据宪法及法律的规定，通过科学及时地制定和准确有效地执行公共政策、管理公共事务、维护公共秩序、保证公共安全、提供公共产品、实施公共服务的活动。

根据上述定义，下列属于狭义的行政管理的是（　　）。

A.居民委员会号召社区居民进行垃圾分类投放

B.为应对寨卡病毒的入侵，海关加强了对入境物品的检测

C.省委党校要求行政班第六期学员按时缴纳学费

D.律师协会向律师事务所发文征集年度实务研讨会论文

5.卡瑞尔公式是指唯有强迫自己面对最坏的情况，在精神上接受它以后，才会使我们处在一个可以

集中精力解决问题的地位上。

根据上述定义，下列选项涉及卡瑞尔公式的是（　　）。

A.一商人因经营不善而欠下一大笔债务，心灰意冷地来到亲戚的农庄，想在此度过余生，却在瓜农的鼓励下，最终重新崛起

B.A 君炒股被套十分苦恼，后来想通了，学习当鸵鸟，不看股票，专心工作，几年后，他事业取得成功

C.一个卖花老太太衣着破旧却满是喜悦，她说："耶稣星期五被钉在十字架上死去，可三天后不就是复活节了吗？所以我总是心怀喜悦。"

D.阿 Q 和小 D 打架吃亏，心想："我总算被儿子打了，现在这社会真不像样，儿子居然打起老子来了。"于是他心满意足，俨然胜利似的

6.硬新闻是关系到国计民生以及人们切身利益的新闻，包括党和国家的重大方针、政策的制定和改变、市场行情、疾病流行、天气变化、重大灾难事故等。硬新闻为人们的政治、经济、工作、日常生活的决策提供依据。

根据上述定义，下列不属于硬新闻的是（　　）。

A.中国对外投资全面提速，欧洲成为中企海外并购第一大市场

B."笑翻""酷""霾"等大量新词入现代汉语词典

C.我国遥感卫星地面站全面建成，"高分一号"发布首批清晰影像

D.今年上半年江西南昌公务接待费同比降七成

7.反证法指的是为了证明一个命题成立，首先假设该命题不成立，由此推出错误，从而得出该命题成立；归谬法指的是为了反驳一个命题，首先假设该命题成立，由此推出错误，从而得出该命题不成立。

根据上述定义，下列属于归谬法的是（　　）。

A.都说干坏事不得好死，他活得好好的，可见他没有干什么坏事

B.太阳是围绕地球运转的，因为如果太阳不是围绕地球运转的，那么我们将不能看到太阳东升西落，所以，太阳是围绕地球运转的

C.你说人死后是有灵魂存在的，假定人死后是有灵魂存在的，那么从古至今地球上早就"灵满为患"了，所以，人死后是没有灵魂存在的

D.他认为人不是由猴子进化而来的，因为人如果是由猴子进化而来的，那么在猴子与人之间应该存在一个过渡的生物序列，但是事实并非如此

8.权力商品化，是指握有公权者以权力为筹码谋求获取自身经济利益的一种非生产性活动。即通常所说的权物交易、权钱交易、权权交易等等。像物质形态的土地、产业、资本那样，权力也被物化了，转化为商品货币，进入消费和财富增值环节。

根据上述定义，下列不属于权力商品化的是（　　）。

A.某市消防支队支队长从其战友所开发的房地产项目中以低于成本价购置了一套商品房

B.某区区长在该区人民文化广场工程招标期间收受某投标建筑公司经理的礼物

C.某高校采购部门负责人在批量采购笔记本电脑过程中向商家索要巨额回扣

D.某互联网行业协会会长利用自己的人脉筹资开了一家网络游戏运营公司

9.三段论推理是演绎推理中的一种简单推理判断，它包含：一个一般性的原则（大前提），一个附属于前面大前提的特殊化陈述（小前提），以及由此引申出的特殊化陈述符合一般性原则的结论。

根据以上定义，下列推理过程正确的是（　　）。

A.骄兵必败，我们胜利，所以我们是骄兵

B.勇者无畏，我无畏，所以我是勇者

C.英雄难过美人关，我是英雄，所以我难过美人关

D.狭路相逢勇者胜，我们胜利，所以勇者胜

10.代理是代理人依据被代理人的委托或法律规定以及人民法院或有关单位指定，以被代理人的名义，在代理权限内所实施的民事法律行为，这种行为产生的法律后果直接由被代理人承受。

根据上述定义，下列行为属于代理行为的是（　　）。

A.传达室的老陈将李某寄给董事长张某的信送给董事长

B.某公司的董事长以公司的名义对外签约

C.李某将自己8岁儿子的压岁钱1000元以儿子的名义存入中国银行

D.红旗汽车经销商以自己的名义卖出该品牌汽车制造商委托出卖的红旗汽车

定义判断（七）

1.连续犯是指行为人基于同一的或者概括的犯罪故意，连续实施数个独立的犯罪行为，触犯同一罪名的情况。概括的犯罪故意是指行为人对于认识的具体内容并不明确，但明知自己的行为会发生危害社会的结果，而希望或者放任这种结果发生的心理态度，包括对行为本身、行为对象和行为结果认识不明确三种。

根据上述定义，下列各项中属于连续犯的是（　　）。

A.乙欠甲一笔巨款拒不偿还，甲为讨要欠款，将乙非法拘禁半年之久

B.甲为杀死乙而不被人察觉，将毒药分三次给乙服食，最终导致乙死亡

C.甲多次入室盗窃，当发现屋内没有可以拿走的值钱财物时，就毁坏室内家具、门窗以泄愤

D.出纳员甲一次偶然发现单位的财务制度存在疏漏之处，认为有机可乘，遂将8000元公款贪污，此后甲分七次共贪污公款60000余元

2.不安抗辩权，是指当事人互负债务，有先后履行顺序的，先履行的一方有确切证据表明另一方丧失履行能力时，在对方没有恢复履行能力或没有提供担保之前，有权中止合同履行的权利。规定不安抗辩权是为了切实保护当事人的合法权益，防止借合同进行欺诈，促使对方履行义务。

根据上述定义，下列行使了不安抗辩权的是（　　）。

A.甲公司与乙公司签订服装加工合同，合同生效还未开始设计生产时甲公司就支付了10万元全款。后甲公司因经营不善倒闭，不再需要这批服装，遂请求解除合同

B.甲和乙签订房屋租赁合同，约定某日双方同时交租金和交付房屋。但时间到时，发现乙方房屋还

被占用，甲方遂拒绝支付租金

C.某公司与当红歌星甲签订演出合同，该公司应在规定日期预付演出劳务费 5 万元，后甲因重病住院治疗，该公司告知甲暂不支付该笔劳务费

D.甲、乙两公司约定由甲公司在 3 个月内分批向乙公司供货，乙公司在 5 个月内每月付款 30 万元。甲公司货物供应完毕后，乙公司声称甲公司货物不合格，拒绝支付余下货款

3.不作为犯罪是指行为人负有实施某种积极行为的特定的法律义务，并且能够施行而不施行，造成一定的法律后果，从而构成犯罪。简单概括不作为犯罪，即应为、能为、不为。就其法律特征而言则具有隐蔽性、消极性、间接性和违法性等。

根据上述定义，下列不构成不作为犯罪的是（　　）。

A.张某看见李某掉入一口深井，因与其有仇，故意若无其事地走开，后李某因无人救助死亡

B.小偷翻墙入院行窃，被主人养的藏獒围攻，主人认为小偷活该，任由藏獒撕咬，小偷被咬死

C.母亲不喜欢刚出生的女儿，故意不给喂奶，将孩子饿死

D.小李带着邻居家 10 岁的孩子打猎，不小心把孩子弄丢，认为他自己会回家，就没有寻找，第二天发现孩子被野兽攻击身亡

4.商标平行进口是指在国际货物贸易中，某一特定产品的商标已获进口国知识产权法保护，并且商标权所有人已在该国自己或授权他人制造或销售其商标权产品的情况下，进口商未经商标权人包括商标所有人或商标独占被许可人许可，擅自从国外进口该商标权产品到进口国销售的行为。

根据上述定义，下列不属于商标平行进口的是（　　）。

A.商标权人甲在A国享有商标权，并仅授权乙在A国制造、销售该商标权产品，丙在B国仿造该商标权产品，并输入到A国

B.A国的商标权人甲授权B国代理商乙在B国独家制造、销售该商标权产品，丙从B国将该商标权产品输入到A国

C.商标权人甲分别在A、B两国获得了同一商标注册，取得商标权，并且制造、销售产品，乙从A国将该商标产品输入到B国

D.商标权人甲在A国享有商标权，甲授权B国的乙为独占被许可人，甲在C国不享有该商标权，丙从C国合法购买该商标产品并输入到A国

5.互补品，是指两种商品之间存在着某种消费依存关系，即一种商品的消费必须与另一种商品的消费相配套。可以分为两类，普通互补品，是指两种商品之间没有固定的同时使用的比例；完全互补品，是指两种商品之间必须按照固定不变的比例同时被使用。

根据上述定义，下列选项正确的是（　　）。

A.薯条和汉堡属于普通互补品　　B.眼镜框和眼镜片属于完全互补品

C.毛笔和墨汁属于完全互补品　　D.数码相机和胶卷属于普通互补品

6.PPP 即公私合作模式，是指为减轻政府财政负担，在公共服务领域，政府采取竞争性方式选择具有投资、运营管理能力的社会资本，双方按照平等协商原则订立合同，由社会资本提供公共服务，政府依据公共服务绩效评价结果向社会资本支付相应对价，实现利益共享和风险共担。

根据上述定义，下列不符合 PPP 运作模式的是（　　）。

A.S 市通过 PPP 招标的方式选定某民企共同开发江北港，并委托其运营

B.T 市在某地铁 PPP 项目中，允许该企业依据成本设定票价

C.W 市发现某高速公路 PPP 项目车流量低于预期，决定给予该企业财政补贴

D.Z 市利用 PPP 模式共建污水处理厂，为财政节约资金 1 千万元人民币

7.程序化决策，是可以确定的、在以前已经做过的决策，它们有客观正确的答案而且可以使用简单的规则、政策、数学计算来解决。非程序化决策则是全新的、复杂的、无章可循的，它们有各种各样的解决方案，而且每个方案都各有优缺点。

下列属于非程序化决策的是（　　）。

A.医院接收病人的步骤　　B.企业中定期记录存货

C.制定公司发展战略　　D.建筑工人施工

8.揣摩指的是对自身以外的人和事的推测、估量、判断等，揣摩必须以良好的心态为基础，以实践经验总结为依据，以认真分析思考为前提，能够比较全面客观和准确地推测、估量、估计、判断人内心情感，是人们认识和处理复杂问题时必需的一种基本功。

根据上述定义，下列属于揣摩的是（　　）。

A.知己知彼，百战不殆　　B.凡事预则立，不预则废

C.仁者见仁，智者见智　　D.己所不欲，勿施于人

9.绝对反义词：也称互补反义词。这类反义词在意义上互相排斥，肯定甲必否定乙，肯定乙必否定甲；同时，否定甲就是肯定乙，否定乙就是肯定甲。

根据以上定义，下列属于绝对反义词的一组是（　　）。

A.黑色—白色　　B.完整—残缺　　C.美丽—丑陋　　D.优良—低劣

10.次文化是指在某个族群中不占主导地位，拥有不同行为和信仰的较小文化，或只是少数成员认同的价值观及所采取的行为方式，亦称为亚文化。

根据上述定义，下列选项在其所限定年代中属于次文化的是（　　）。

A.宋朝的儒家思想　　B.元代的戏曲艺术

C.当代社会尊老爱幼的传统　　D.2002 年后网络兴起的火星文

定义判断（八）

1.法律意义上的重大误解：是指行为人因对行为的性质、对方当事人、标的物的品种、质量、规格和数量等发生错误认识，使行为的后果与自己的意思相悖，并造成较大损失的行为。

根据上述定义，下列属于重大误解的是（　　）。

A.小张从服装摊贩处买来一条裤子，发现价格比网上同款贵了两倍

B.甲立下遗嘱，误将乙的字画分配给继承人

C.老李误将祖传的名人字画当成现代复制品，低价出售给藏友

D.房价大涨之前，为了治病，老张低价出售了一套住房

2.显失公平的合同：是指一方当事人利用优势或对方缺乏经验，在订立合同时致使双方的权利和义务明显违反公平、等价有偿原则的合同。

以下属于显失公平的是（　　）。

A.卖橘子的老农眼看天要下雨，对折出售橘子

B.张某为了还债将唯一住房对折出售给李某

C.王某以伤害对方的孩子为威胁强行低价收购对方企业

D.文物专家出价 1000 元从农户手中购买市价 10 万的明代瓷碗

3.功能价值是指消费者为满足自己基本需要时愿意给商品物理属性支付的价格部分；观念价值是指人们在消费商品物理属性的同时，因商品内在的文化属性、象征意义以及个人因消费商品所带来的感受和体验等方面的差异而愿意多支付的价格部分。

根据上述定义，下列仅涉及功能价值的是（　　）。

A.森林具有涵养水源、保育土壤、固碳释氧等多项生态服务功能，亟需受到保护

B.智能手机因其除通讯之外还能听音乐、看小说、拍照片、看电视等而备受欢迎

C.月饼在经过华丽的包装之后成为中秋的“馈赠佳品”，价格相应地也成倍上涨

D.用同样皮料做的同样式样的两个皮包，LV的包因代表高质量和高气质而价格高昂

4.老龄产业：指由老年消费市场需求增长带动而形成的特色产业，它包括所有有关满足老年人特殊需求的商品生产、销售和服务等经济活动。

假设这个定义是正确的、不容置疑的，则下列属于老龄产业的是（　　）。

A.“好再来”面馆在某地开了多年，口碑甚好，吃客盈门，到这面馆吃早餐已成为当地许多老年朋友的生活习惯

B.小王开设网店专门经营男士服装，对老年服装的销售颇有心得，最近他卖的一批羽绒服特别受到一些男性老年朋友的喜爱

C.汉唐街道最近有一家龙城养护中心开业了，虽然费用不低，但仍有不少缺乏生活自理能力或身边无人照顾陪伴的老年人报名入住

D.由于自己及丈夫工作太忙，家务无从打理，方女士聘请一位住家保姆，除了洗衣做饭、打扫卫生外，还兼照顾自己年事已高的母亲

5.社会协同治理机制是指政府出于治理需要，通过发挥其主导作用，构建制度化的沟通渠道和参与平台，在始终保护并尊重社会的主体地位以及社会自身的运作机制和规律下，加强对社会的支持培育，并与社会一起，发挥社会在自主治理、参与服务、协同管理等方面的作用，形成政府主导、社会协同、共建共享的社会治理新格局。

根据上述定义，下列属于社会协同治理的是（　　）。

A.由街道协调区工商局、城管大队等不定期开展联合执法，共同整治辖区内的经营秩序

B.市政府整合社会资源，在社区配备街道干部、民警、社工等人员，设立服务台，服务社区居民

C.由县教育局、民政局、公安局等共同在行政服务大厅为企业和个人提供一站式行政审批办证服务

D.由省工商局、高级人民法院、中国人民银行某省分行共同签署协议，对失信企业实施信用联合监管

6.威客是 the key of wisdom 的缩写，译为“智慧的钥匙”，是指通过互联网把自己的智慧、知识、能力、经验转化成实际收入的人。威客在互联网上通过解决科学、技术、工作、学习中的问题获得相应的收益，从而让知识、智慧、经验、技能体现经济价值的方式和行为，即构成威客模式。它体现了互联网按劳取酬和以人为中心的新理念。

根据上述定义，下列属于威客或威客模式的是（　　）。

A.某知名网站无需注册，即可让网友免费下载最新电影，该网站通过网上嵌入的广告获得收益

B.赵医生在互联网上创建个人网页，为心脑血管患者提供免费咨询的专业咨询，提高了他所在医院的知名度，吸引更多的患者前来求医

C.某大型家电生产企业开设了自己的网站，消费者在使用该企业所生产的家电过程中遇到故障时可在网上预约维修，企业将提供上门服务

D.教师丁某于下班后在某学校的网站上兼职做远程辅导，该学校按课程的难易程度向他支付一定的报酬

7.跨国文化管理，又称“交叉文化管理”，即在全球化经营中，对子公司所在国的文化采取包容的管理方法，在跨国文化条件下克服异质文化的冲突，并因此创造出企业独特的文化，从而形成卓有成效的管理过程。

根据上述定义，下列情形不属于跨国文化管理的是（　　）。

A.提供机会，让本国员工和子公司所在国员工一起联欢

B.公司管理者去吃子公司所在国的小吃

C.尽可能让子公司所在国的员工参与公司决策

D.让子公司所在国员工给本国员工介绍当地的文化、习俗

8.虚假记忆综合症是指一个人的认同和人际交往以一种创伤经历的记忆为中心，这种记忆在客观上是虚假的，但病人对此深信不疑，它在病人内心是非常逼真的，几乎就是一种“客观现实”。

根据上述定义，下列属于虚假记忆综合症的是（　　）。

A.甲在被蛇咬过后，看见所有像蛇一样的东西，会感到恐惧

B.乙参加婚礼不由自主回忆起自己结婚时的情景并感到幸福

C.丙看到路边可怜的乞丐会勾起痛苦的回忆而产生怜悯之心

D.丁通过反复洗手来排除内心强烈的肮脏感获得心灵的平静

9.客观唯心主义是指把客观精神（在自我外存在一个精神实体，如上帝、理念、绝对精神等）看作世界的主宰和本原，认为现实的物质世界只是这些客观精神的外化和表现。

根据上述定义，下列属于客观唯心主义的是（　　）。

A.宇宙便是吾心，吾心便是宇宙　　B.人为天命所主宰

C.我思故我在　　D.人的理性为自然界立法

10.外观设计也被称为工业品外观设计，或者简称为工业设计。它是指关于产品的形状、图案、色彩或者其结合所提供的富有美感并适用于工业上应用的新设计。它具有以下几个特点：（1）外观设计

必须以具体的产品为依托。（2）外观设计以产品的形状、图案和色彩等为要素，以美感为核心目的，而不去追求实用目的。（3）外观设计必须适用于工业应用，这里所谓的工业应用就是指该外观设计可以通过工业手段大量复制。

根据上述定义，下列各项中属于外观设计的是（　　）。

A.设计师专为某世界知名品牌的珠宝设计的绿色三叶草形包装盒

B.由某位画家手工绘制的花鸟图案的 T 恤衫

C.5 名大学生设计的能同时供多人使用的兵乓球自动发球机

D.某乐器制造厂设计并生产的以熊猫为造型的中国传统吹奏乐器——埙

图形推理

图形推理（一）

1. 从所给的四个选项中，选择最合适的一个填入问号处，使之呈现一定的规律性。

A B C D

2. 从所给的四个选项中，选择最合适的一个填入问号处，使之呈现一定的规律性。

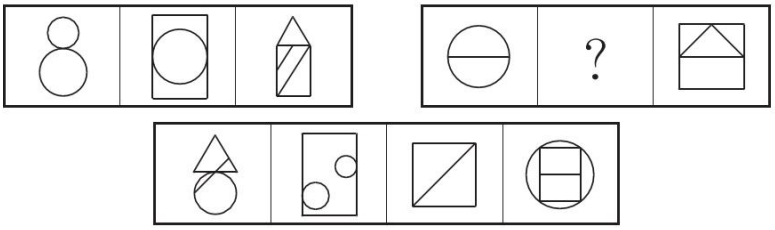

A B C D

3. 从所给的四个选项中，选择最合适的一个填入问号处，使之呈现一定的规律性。

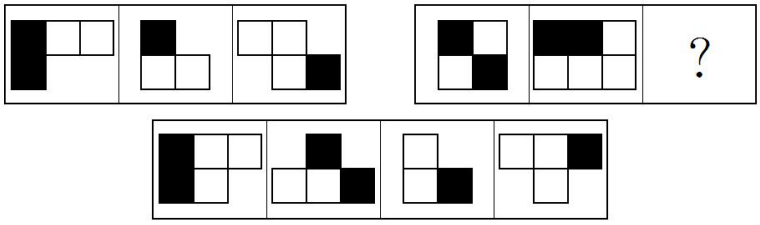

A B C D

4. 把下面的六个图形分为两类，使每一类图形都有各自的共同特征或规律，分类正确的一项是（　　）。

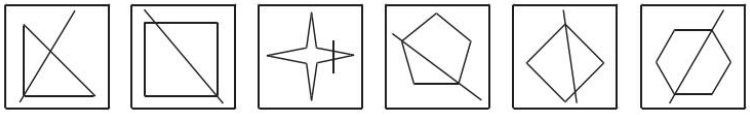

① ② ③ ④ ⑤ ⑥

A. ①②③，④⑤⑥　　B. ①③④，②⑤⑥

C. ①②⑤，③④⑥　　D. ①④⑥，②③⑤

5. 从所给的四个选项中，选出最合适的一个填入问号处，使之呈现一定的规律性。

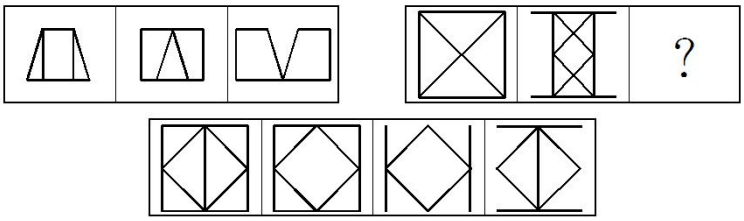

A B C D

6. 从所给的四个选项中，选择最合适的一个填入问号处，使之呈现一定的规律性。

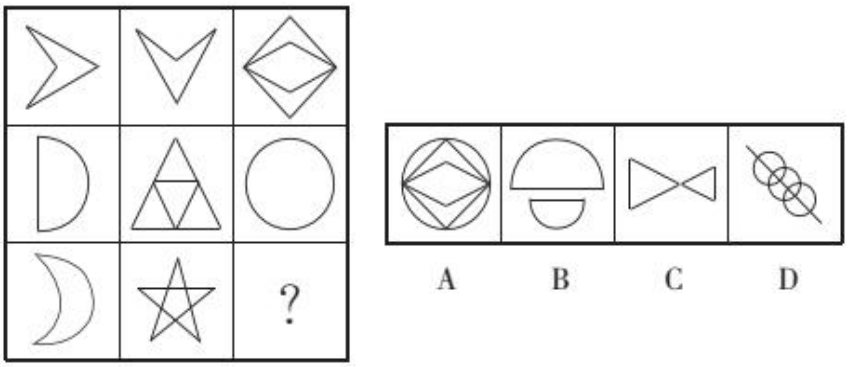

7. 从所给的四个选项中，选择最合适的一个填入问号处，使之呈现一定的规律性。

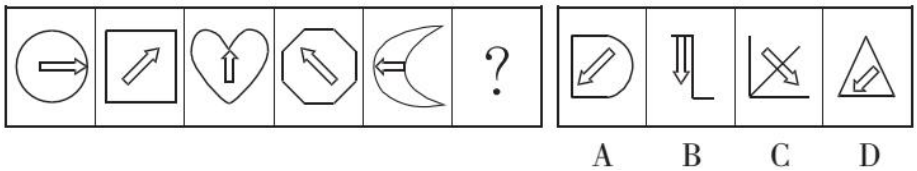

8. 左边是给定纸盒的外表面，右边哪一项能由它折叠而成？（　　）

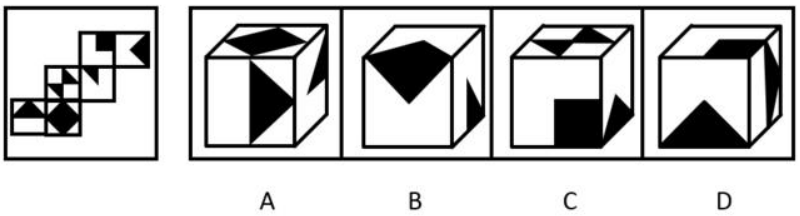

9. 从所给的四个选项中，选择最合适的一个填入问号处，使之呈现一定的规律性。

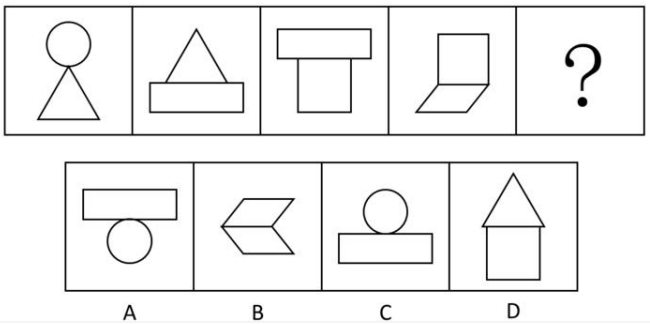

10. 把下面的六个图形分为两类，使每一类图形都有各自的共同特征或规律，分类正确的一项是（　　）。

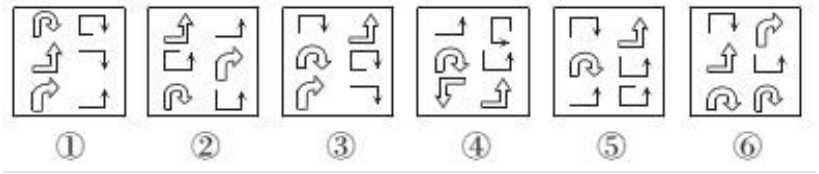

A. ①②④，③⑤⑥　　B. ①④⑥，②③⑤

C. ①③⑥，②④⑤　　D. ①③④，②⑤⑥

图形推理（二）

1.从所给的四个选项中，选择最合适的一个填入问号处，使之呈现一定的规律性。

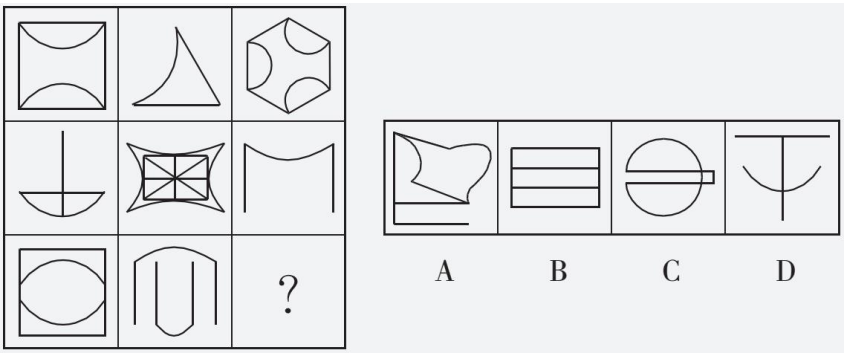

2.从所给的四个选项中，选择最合适的一个填入问号处，使之呈现一定的规律性。

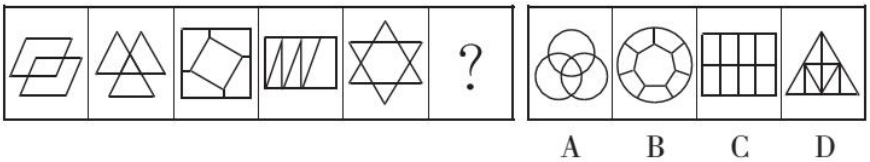

3.从所给的四个选项中，选择最合适的一个填入问号处，使之呈现一定的规律性。

4.把下面的图形分为两类，使每一类图形都有各自的共同特征或规律，分类正确的一项是（　　）。

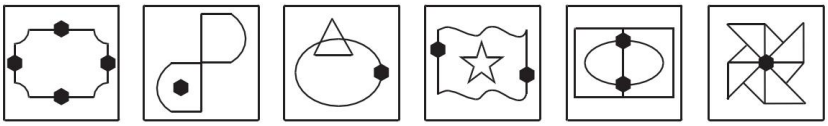

A.①②⑥，③④⑤　　B.①③④，②⑤⑥

C.①③⑤，②④⑥　　D.①②⑤，③④⑥

5.从所给的四个选项中，选择最合适的一个填入问号处，使之呈现一定的规律性。

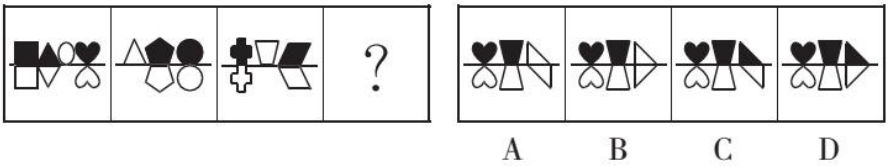

6.从所给的四个选项中，选出一个填入问号处，使之呈现一定的规律性。

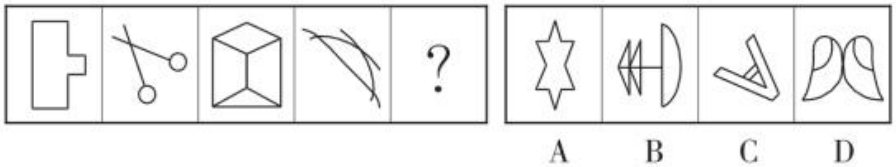

7. 从所给的四个选项中，选择最合适的一个填入问号处，使之呈现一定的规律性。



8. 从所给的四个选项中，选择最合适的一个填入问号处，使之呈现一定的规律性。

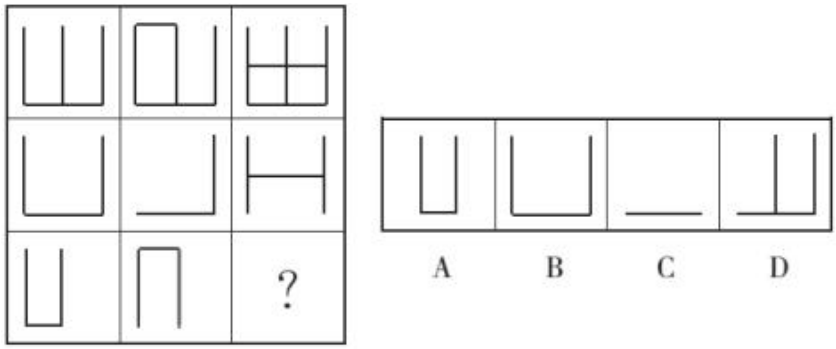

9. 右边图形哪个可以由左边图形组成？（　　）

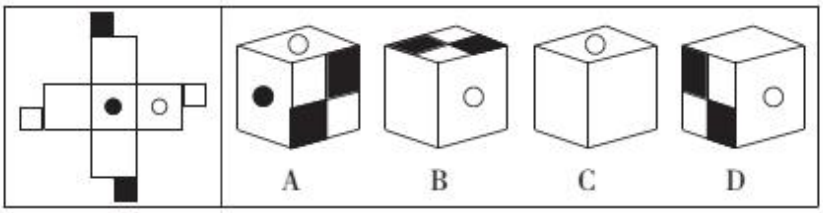

10. 下列选项中，符合所给图形的变化规律的是（　　）。

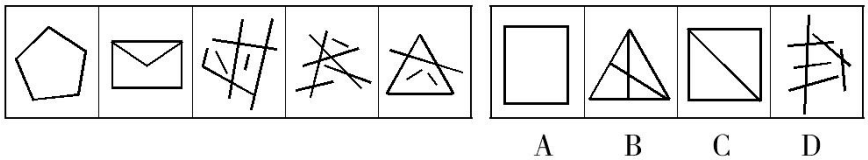

图形推理（三）

1. 从所给的四个选项中，选出最合适的一个填入问号处，使之呈现一定的规律性。

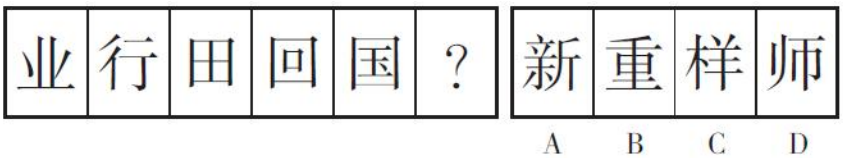

2. 从所给的四个选项中，选出最合适的一个填入问号处，使之呈现一定的规律性。

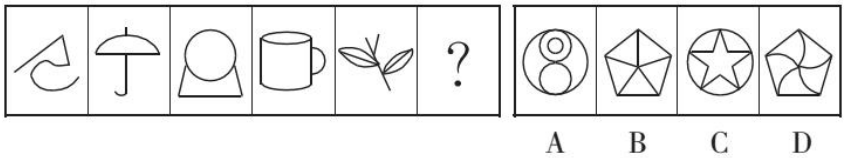

3.把下面的图形分成两类，使每一类图形都有各自的共同特征或规律，分类正确的一项是（　　）。

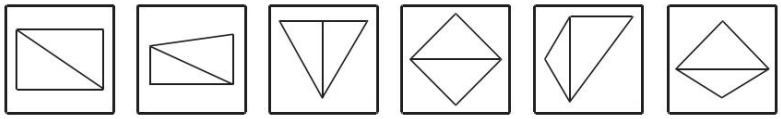

①　②　③　④　⑤　⑥

A.①③④，②⑤⑥　　B.①②④，③⑤⑥

C.①④⑥，②③⑤　　D.①②⑤，③④⑥

4.左边的立体图形如果从任一面剖开，右边哪一项不可能是该立体图形的截面？（　　）

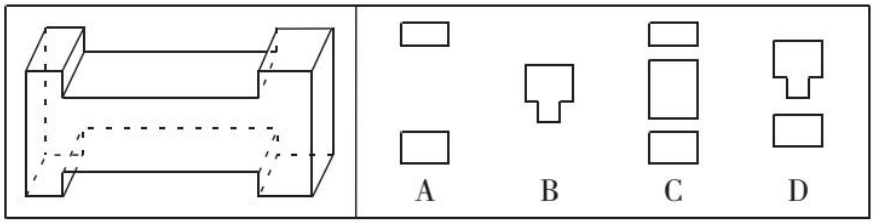

5.从所给的四个选项中，选择最合适的一个填入问号处，使之呈现一定的规律性。

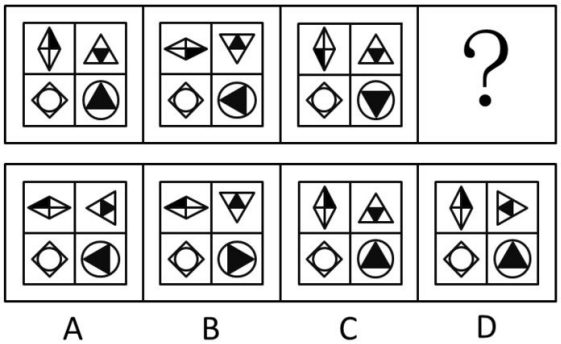

6.从所给的四个选项中，选择最合适的一个填入问号处，使之呈现一定的规律性。

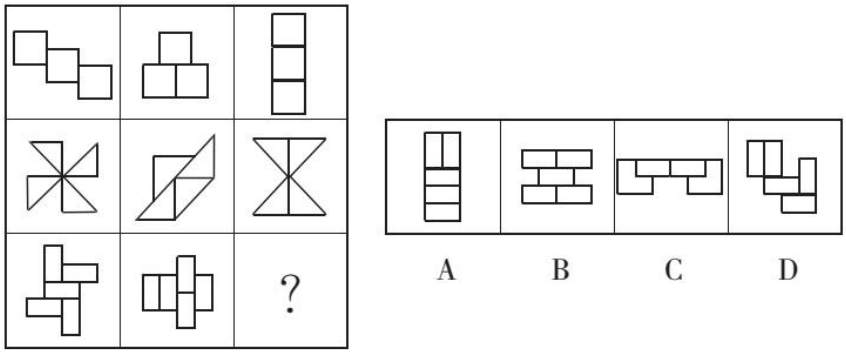

7.左边是给定纸盒的外表面，右边哪一项能由它折叠而成？（　　）

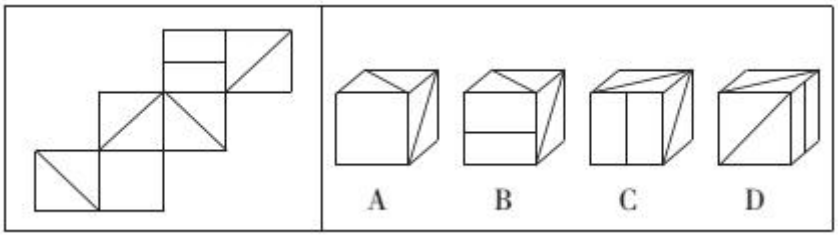

8. 从所给的四个选项中，选出最合适的一个填入问号处，使之呈现一定的规律性。

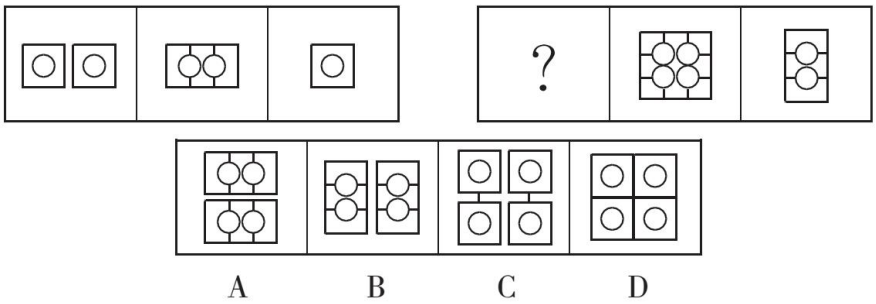

9. 从所给的四个选项中，选出最合适的一个填入问号处，使之呈现一定的规律性。

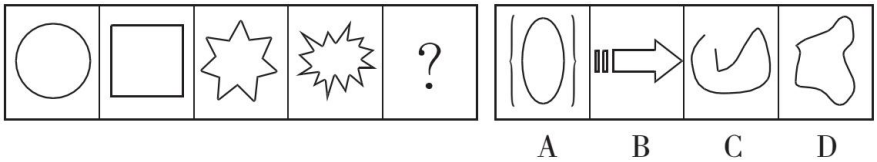

10. 从所给的四个选项中，选择最合适的一个填入问号处，使之呈现一定的规律性。

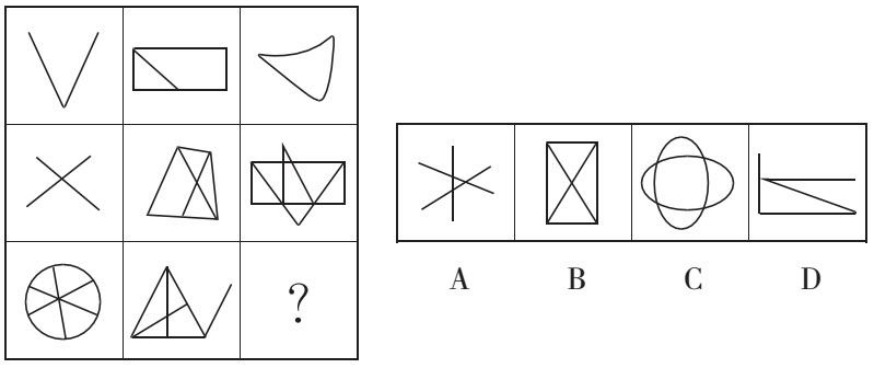

图形推理（四）

1. 从所给的四个选项中，选择最合适的一个填入问号处，使之呈现一定的规律性。

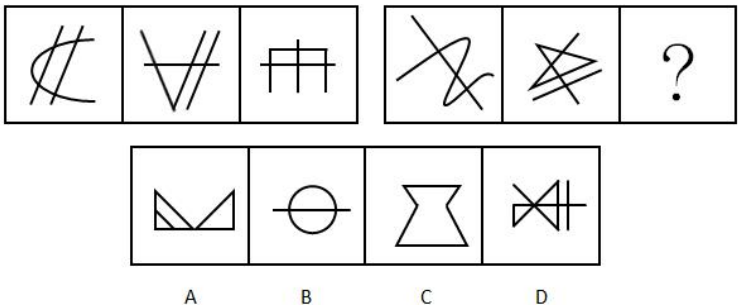

2. 从所给的四个选项中，选择最合适的一个填入问号处，使之呈现一定的规律性。

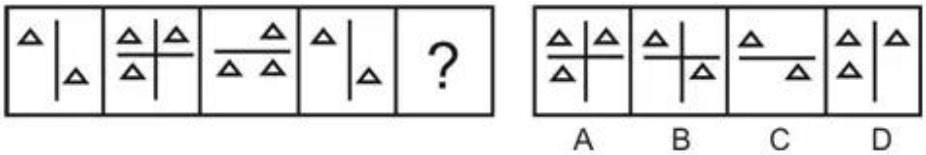

3.从所给的四个选项中，选择最合适的一个填入问号处，使之呈现一定的规律性。

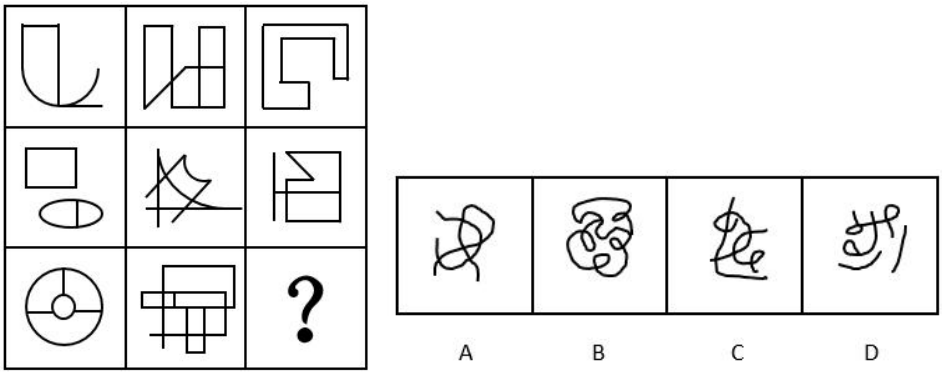

4.把下面的六个图形分为两类，使每一类图形都有各自的共同特征或规律，分类正确的一项是（　　）。

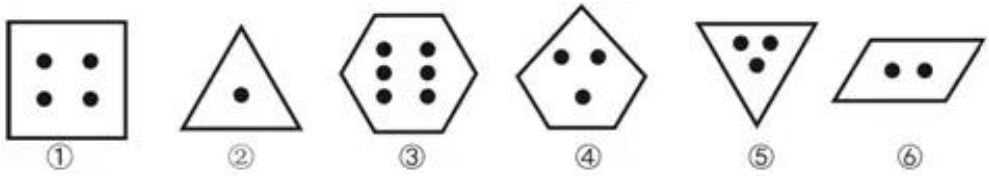

A.①③⑤，②④⑥　　B.①②④，③⑤⑥

C.①④⑤，②③⑥　　D.①③⑥，②④⑤

5.从所给的四个选项中，选出最合适的一个填入问号处，使之呈现一定的规律性。

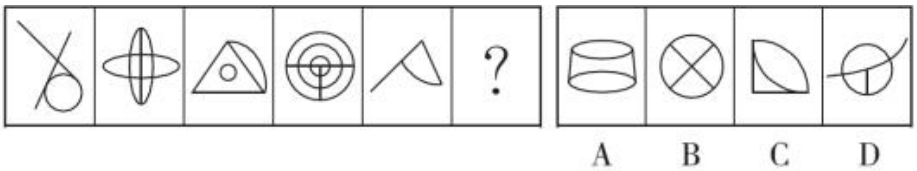

6.从所给的四个选项中，选择最合适的一个填入问号处，使之呈现一定的规律性。

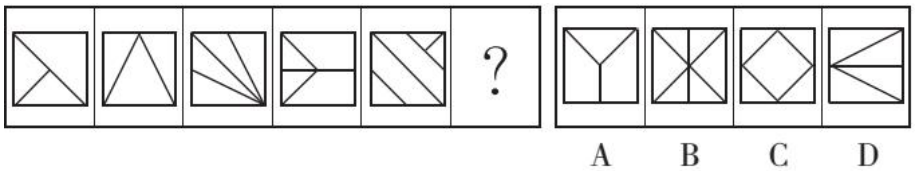

7.从所给的四个选项中，选择最合适的一个填入问号处，使之呈现一定的规律性。

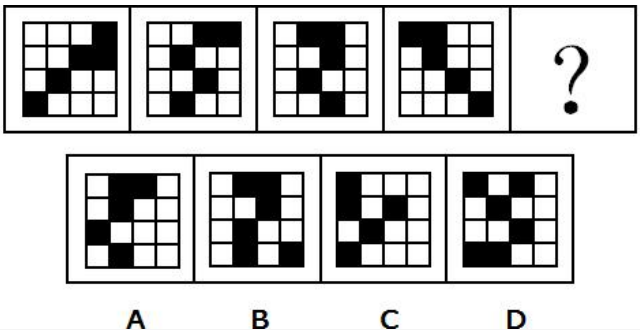

8. 从所给的四个选项中选择最合适的一个填入问号处，使之呈现一定的规律性。



A B C D

9. 如果从不同方向进行观察，下列不可能出现的剖面图为（　　）。

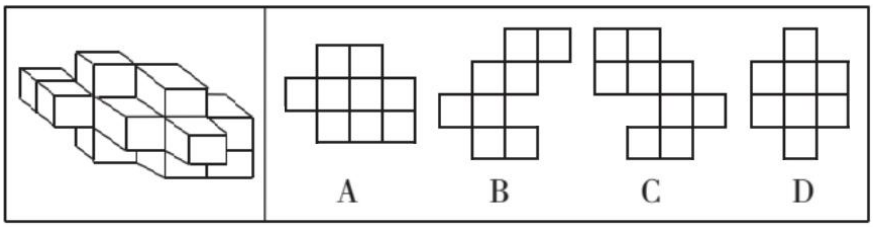

A B C D

10. 从所给的四个选项中，选择最合适的一个填入问号处，使之呈现一定的规律性。



A B C D

图形推理（五）

1. 从所给的四个选项中，选择最合适的一个填入问号处，使之呈现一定的规律性。

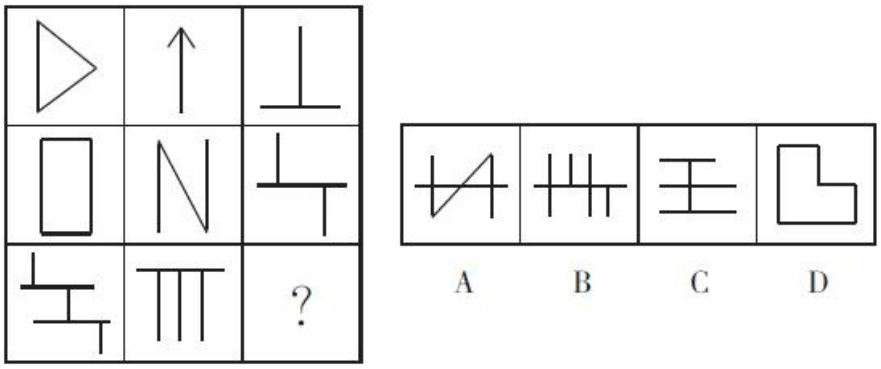

A B C D

2. 下列选项中，符合所给图形的变化规律的是（　　）。

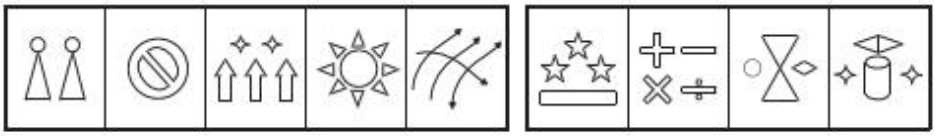

A B C D

3.把下面的 6 个图形分为两类，使每一类图形都有各自的共同规律，分类正确的是（　　）。

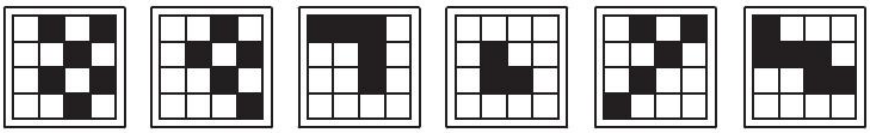

①　②　③　④　⑤　⑥

A.①④⑥，②③⑤　　B.①②⑤，③④⑥

C.①⑤⑥，②③④　　D.①③⑤，②④⑥

4.左边给定的是四面体的表面展开图，下列哪一项是由它折叠而成？（　　）

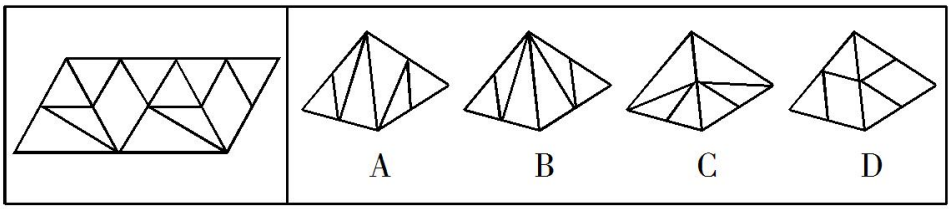

5.从所给的四个选项中，选出最合适的一个填入问号处，使之呈现一定的规律性。

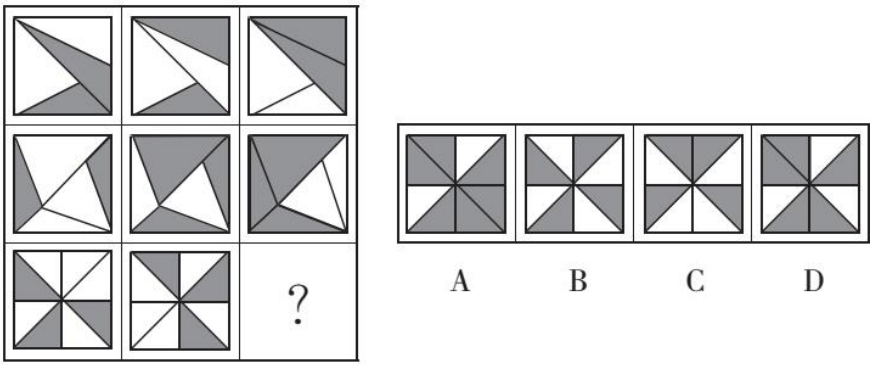

6.下列右边四个图形中最能保持左边五个图形变化规律的是（　　）。

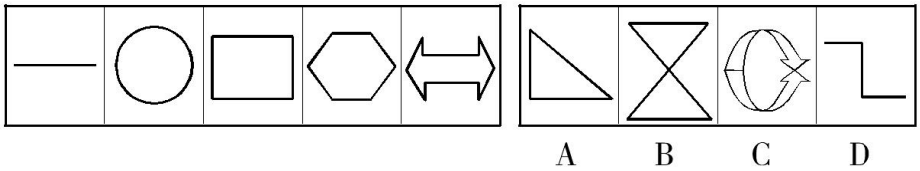

7.从所给的四个选项中，选择最合适的一个填入问号处，使之呈现一定的规律性。

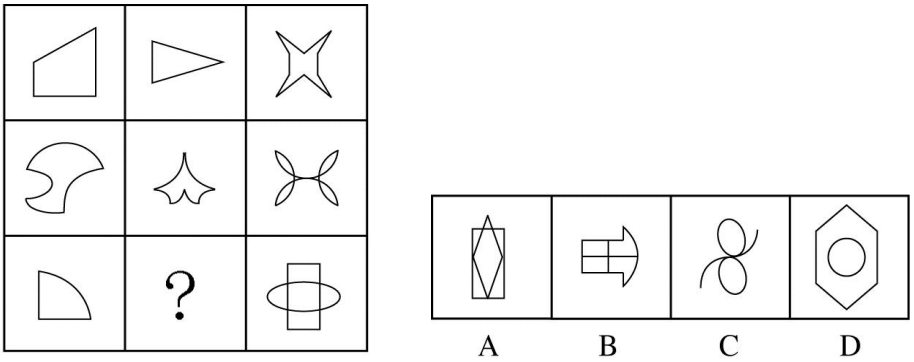

8. 从所给的四个选项中，选择最合适的一个填入问号处，使之呈现一定的规律性。

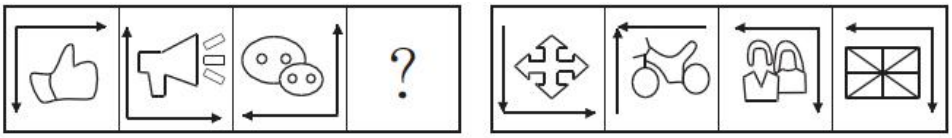

A B C D

9. 从所给的四个选项中，选择最合适的一个填入问号处，使之呈现一定的规律性。





A B C D

10. 从所给的四个选项中，选出最合适的一个填入问号处，使之呈现一定的规律性。

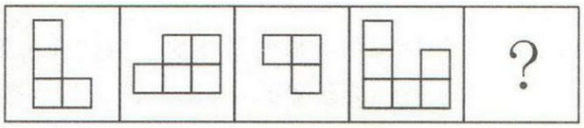

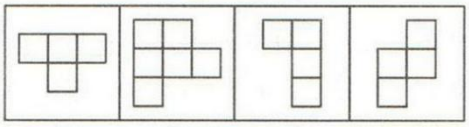

A B C D

图形推理（六）

1. 从所给的四个选项中，选出最合适的一个填入问号处，使之呈现一定的规律性。

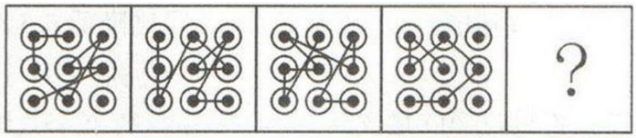

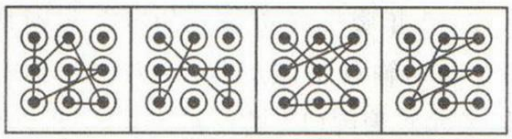

A B C D

2. 把下面的六个图形分为两类，使每一类图形都有各自的共同特征或规律，分类正确的一项是（　　）。

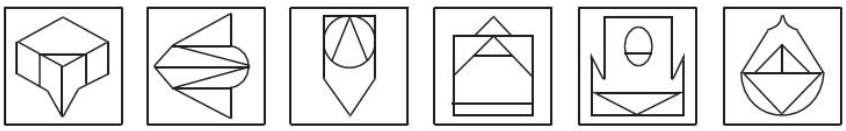

① ② ③ ④ ⑤ ⑥

A.①②⑥，③④⑤　　B.①③⑤，②④⑥

C.①②④，③⑤⑥　　D.①④⑥，②③⑤

3.左边给定的是正方体的表面展开图，下列哪一项是由它折叠而成？（　　）

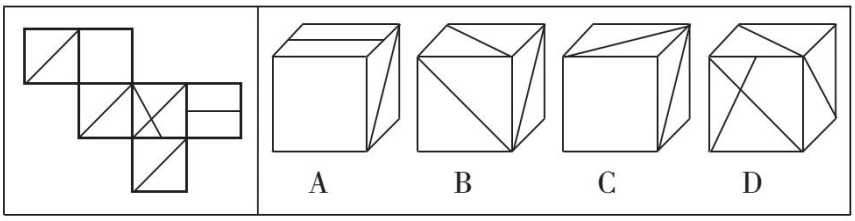

4.从所给的四个选项中，选出最合适的一个填入问号处，使之呈现一定的规律性。

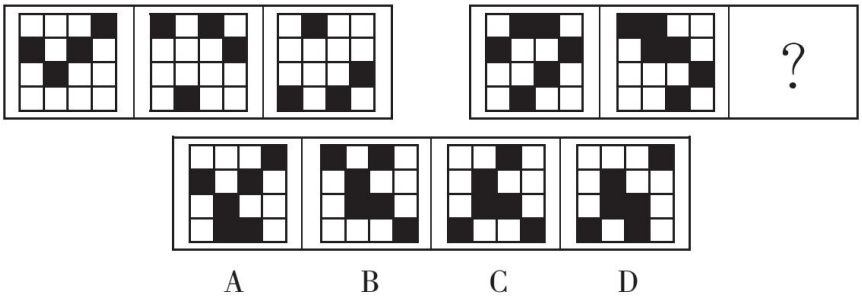

5.从所给的四个选项中，选出最合适的一个填入问号处，使之呈现一定的规律性。

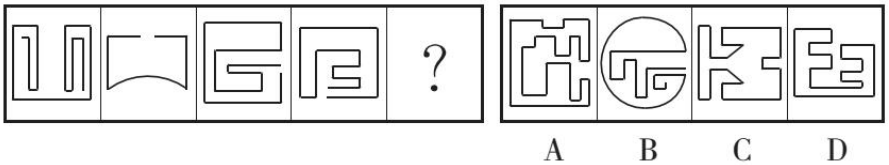

6.从所给的四个选项中，选择最合适的一个填入问号处，使之呈现一定的规律性。

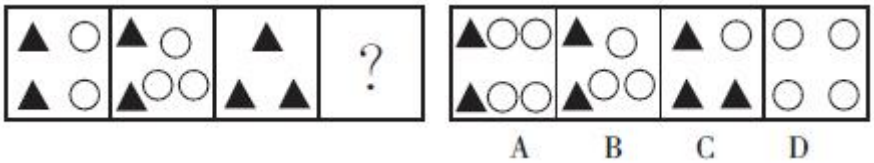

7.从所给的四个选项中，选择最合适的一个填入问号处，使之呈现一定的规律性。

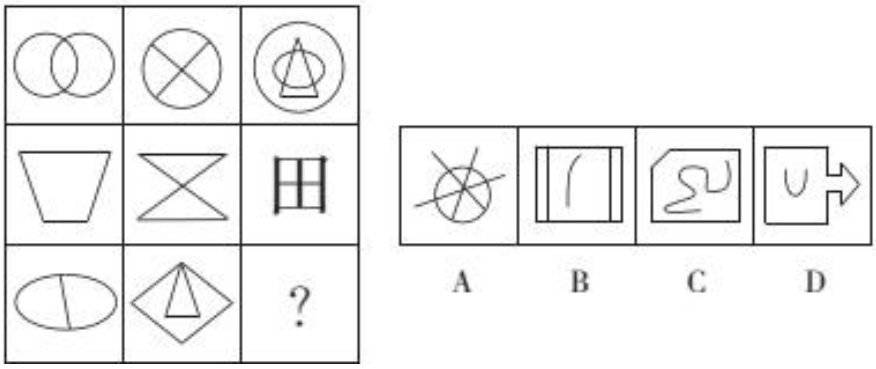

8. 从所给的四个选项中，选择最合适的一个填入问号处，使之呈现一定的规律性。

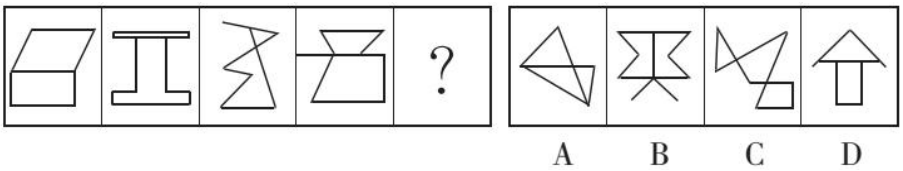

9. 从所给的四个选项中，选出最合适的一个填入问号处，使之呈现一定的规律性。

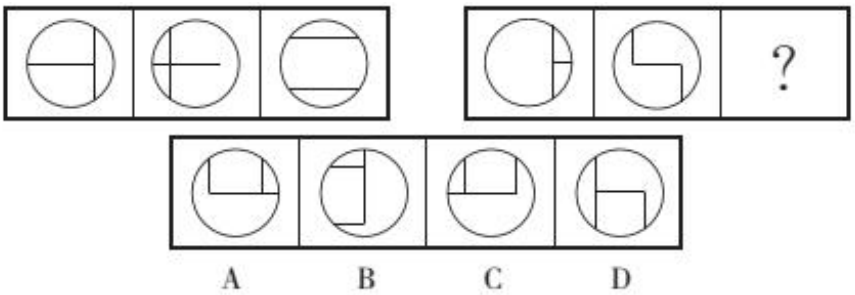

10. 把下面的六个图形分为两类，使每一类图形都有各自的共同特征或规律，分类正确的一项是（　　）。

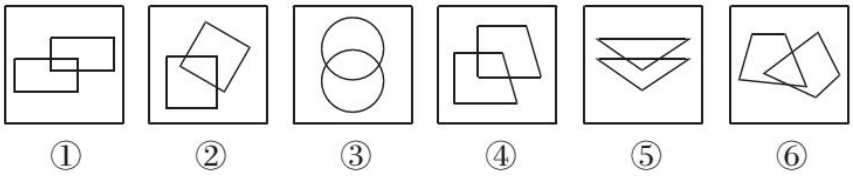

A. ①④⑤，②③⑥　　B. ①②④，③⑤⑥

C. ①②⑤，③④⑥　　D. ①②⑥，③④⑤

图形推理（七）

1. 从所给的四个选项中，选择最合适的一个填入问号处，使之呈现一定的规律性。

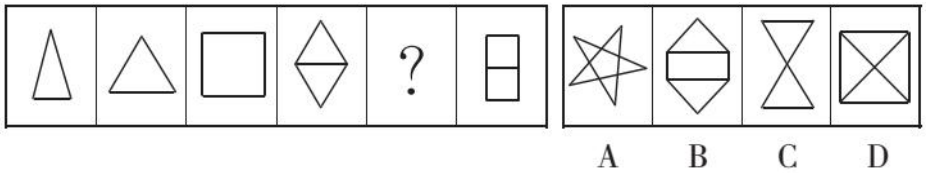

2. 从所给的四个选项中，选择最合适的一个填入问号处，使之呈现一定的规律性。



3.把下面的六个图形分成两类，使每一类图形都有各自的共同特征或规律，分类正确的一项是（　　）。

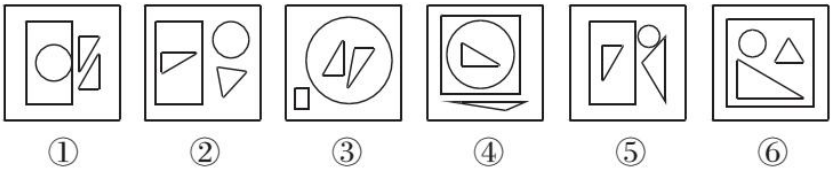

A.①③④，②⑤⑥　　B.①②⑥，③④⑤

C.①④⑤，②③⑥　　D.①④⑥，②③⑤

4.左边给定的是纸盒的外表面，下列哪项能由它折叠而成？（　　）

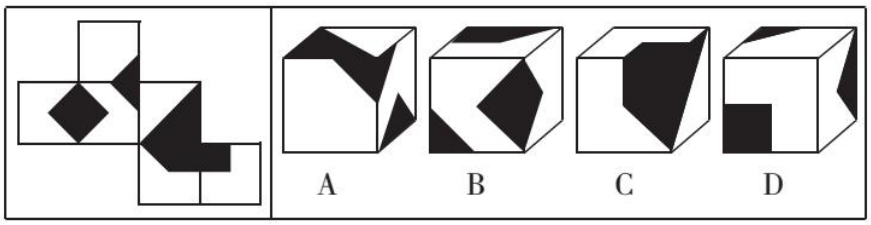

5.从所给的四个选项中，选出最合适的一个填入问号处，使之呈现一定的规律性。

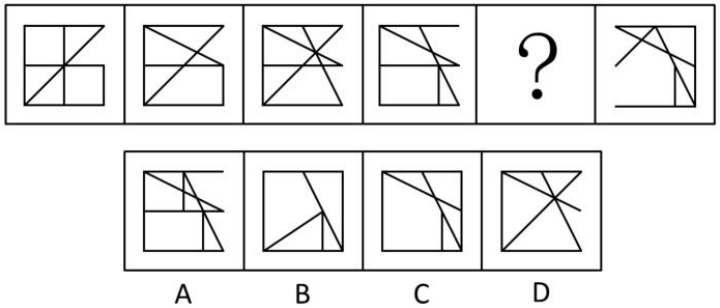

6.从所给的四个选项中，选择最合适的一个填入问号处，使之呈现一定的规律性。

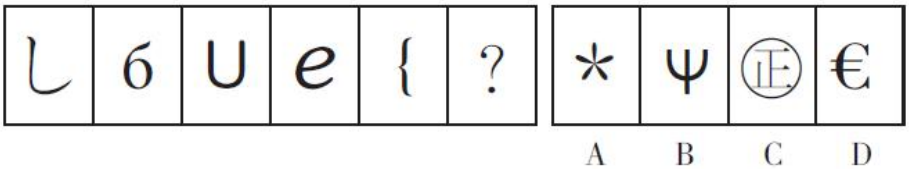

7.从所给的四个选项中，选择最合适的一个填入问号处，使之呈现一定的规律性。

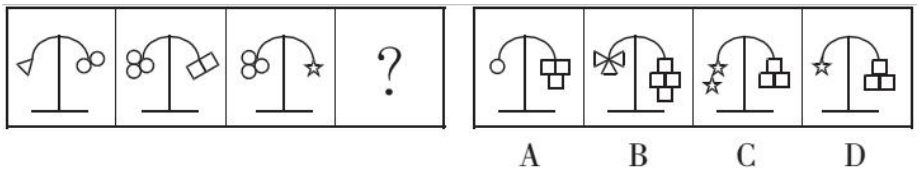

8.从所给的四个选项中，选出最合适的一个填入问号处，使之呈现一定的规律性。

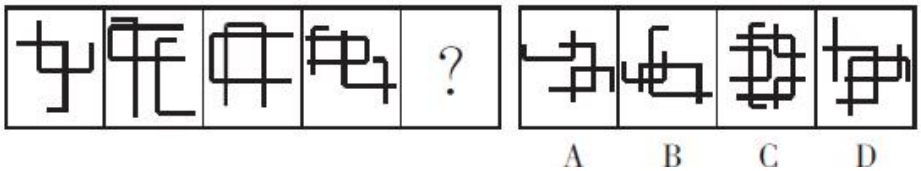

9.从所给的四个选项中，选择最合适的一个填入问号处，使之呈现一定规律性。

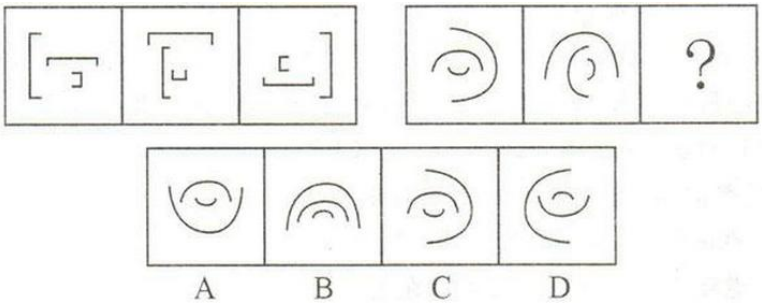

10.从所给的四个选项中，选择最合适的一个填入问号处，使之呈现一定的规律性。

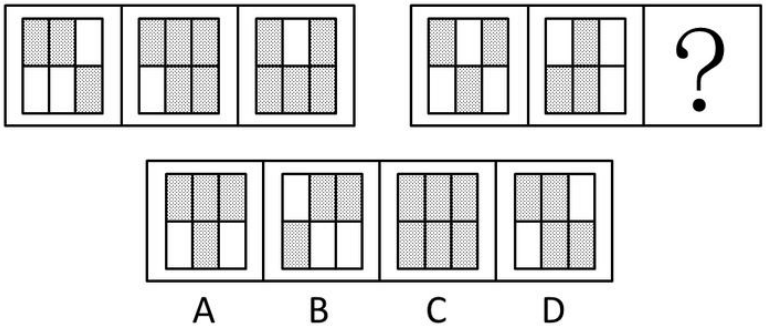

图形推理（八）

1.下列选项中，符合所给图形的变化规律的是（　　）。

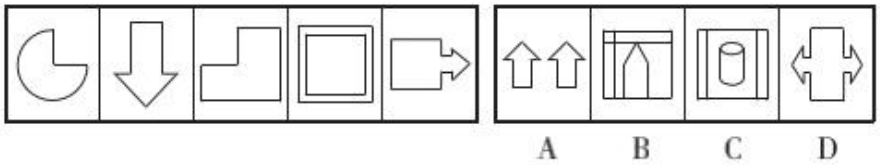

2.从所给的四个选项中，选择最合适的一个填入问号处，使之呈现一定的规律性。

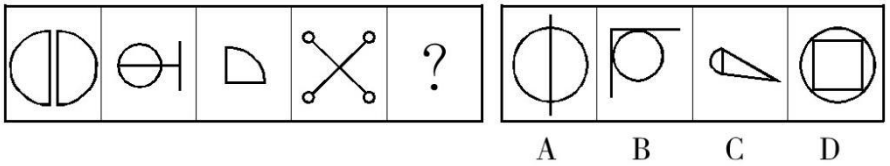

3.将以下哪两个图交换位置后，所形成的图形序列呈现出一定的规律性？（　　）

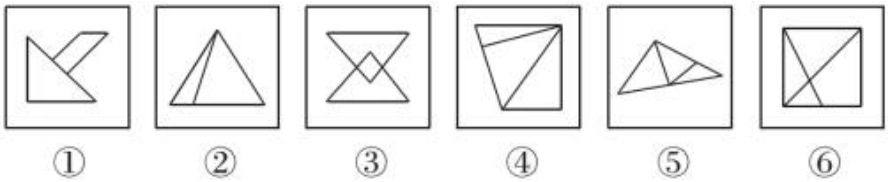

A.①与②　　B.②与③　　C.③与④　　D.④与⑤

4. 把下面的六个图形分为两类，使每一类图形都有各自的共同特征或规律，分类正确的一项是（　　）。

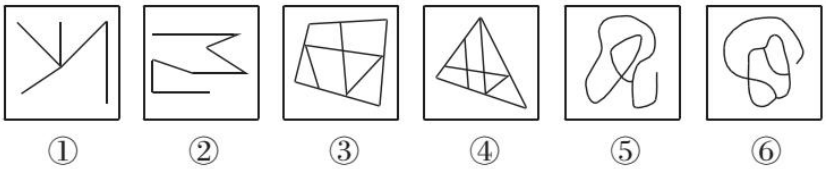

A. ①②③，④⑤⑥　　B. ①③⑤，②④⑥

C. ①②⑥，③④⑤　　D. ①④⑥，②③⑤

5. 从所给的四个选项中，选择最合适的一个填入问号处，使之呈现一定的规律性。

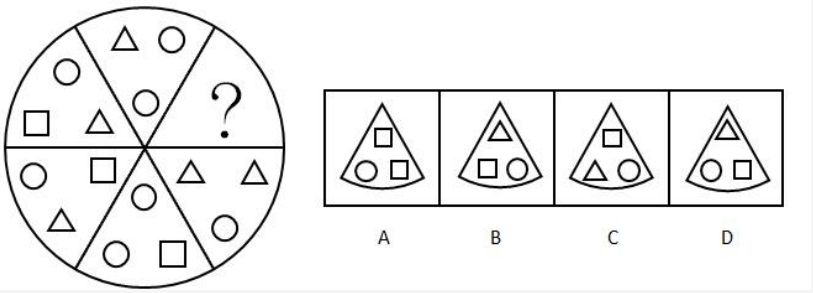

6. 请选择最合适的一项填入问号处，使右边图形的变化规律与左边图形一致。

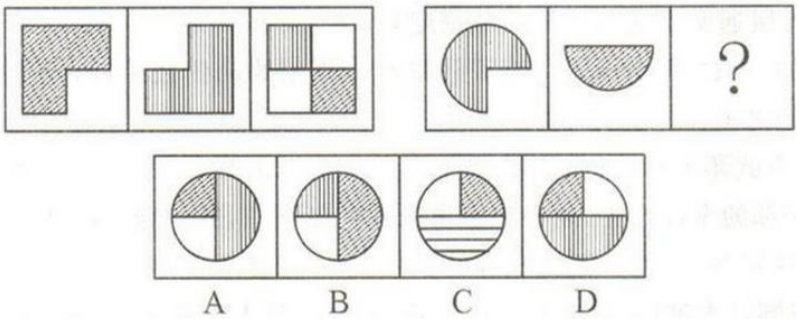

7. 左边给定的是正方体的表面展开图，下列哪一项是由它折叠而成？（　　）

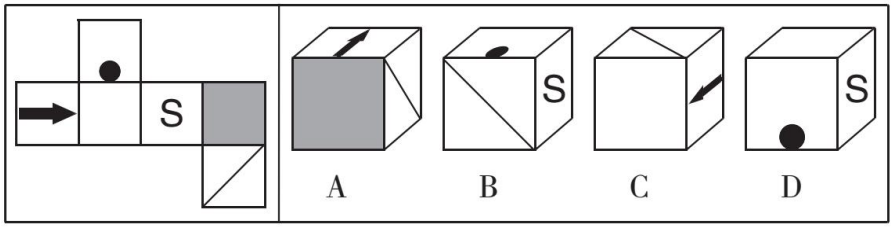

8. 填入问号处最恰当的是（　　）。

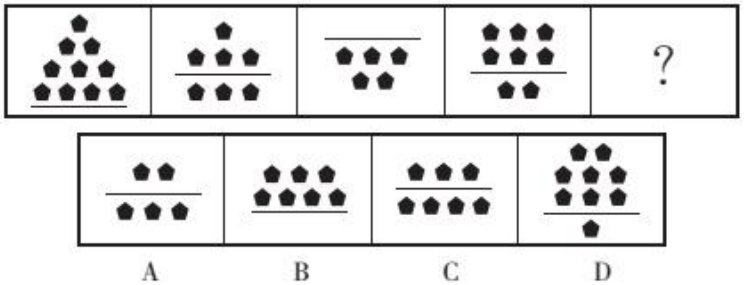

9. 从所给的四个选项中，选择最合适的一个填入问号处，使之呈现一定的规律。

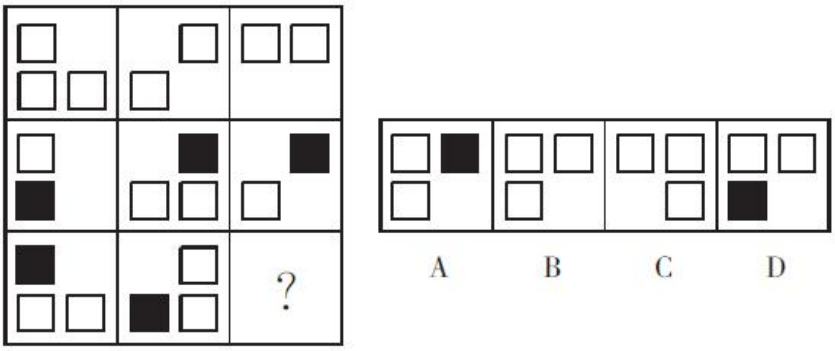

10. 下列选项中，符合所给图形的变化规律的是（　　）。

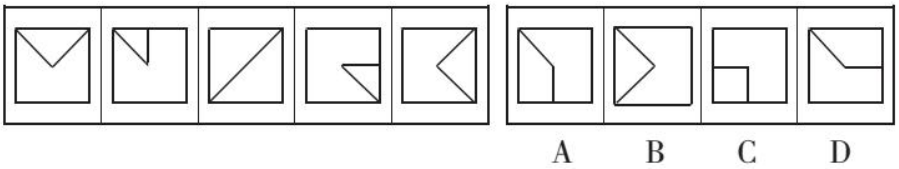

逻辑判断

逻辑判断（一）

1.人体跟金属一样，在大自然中会逐渐“氧化”。金属氧化是诸如铁生黄锈、铜生铜绿等。人体氧化的罪魁祸首不是氧气，而是氧自由基，是一种细胞核外含不成对电子的活性基团。这种不成对的电子很容易引起化学反应，损害DNA、蛋白质和脂质等重要生物分子，进而影响细胞膜转运过程，使各组织、器官的功能受损，导致机体老化。

以下各项如果为真，不能支持上述论述的是（　　）。

A.氧自由基有增强白细胞对细菌的吞噬和抑制细菌增殖的功能，可增强机体抗感染及免疫能力

B.用氧自由基抑制剂2-巯基乙胺作为食物添加剂，以小鼠作为实验对象，1%的2-巯基乙胺可以使小鼠的平均寿命延长31.6%

C.天然抗氧化剂茶多酚可以有效地抑制氧自由基的作用，食用了含有茶多酚食品的果蝇，其寿命明显延长

D.氧自由基可导致人体胶原蛋白酶和硬弹性蛋白酶释放，使皮肤中的胶原蛋白和硬弹性蛋白产生过度交联并发生降解，导致皮肤失去弹性，细胞老化，出现皱纹

2.现在，在德国被诊断为疯狂压抑症首次收容住院的人比美国因此收容住院的人多 8 倍，尽管美国人口是德国的很多倍。

下列哪项如果正确，最能解释上述情况？（　　）

A.在德国“疯狂压抑症”所指的精神病患要比在美国所指的范围广

B.美国收容住院的人既包括首次去诊所的人也包括直接收容住进医院的人

C.美国心理训练协会的种类要比德国多，这反映了美国心理学流派的多样性

D.寻求专业人员的帮助解决精神健康问题在美国曾被视为一种社会耻辱，现在不会了

3.镇政府某部门共有 4 名工作人员。关于这 4 名工作人员，以下 3 个表述中只有一个是真的：

Ⅰ.部门中有男性工作人员；

Ⅱ.部门中有女性工作人员；

Ⅲ.部门主管不是女性。

则以下哪项为真？（　　）

A.4 名工作人员都是男性　　B.4 名工作人员都是女性

C.只有 1 名工作人员不是女性　　D.只有部门主管是女性

4.我国民间一直有“春捂秋冻”的说法，意思是劝人们春天不要急着脱掉棉衣，秋天也不要刚冷就穿得太多。因为春天慢慢地减衣服是不降低机体的抵抗力，而秋天慢慢地增加衣服，就是提高机体的抵抗力，所以说“春捂秋冻”能提高人体的抵抗力。

以下哪项为真，则最能削弱上述论断？（　　）

A.穿衣服的多少与人的抵抗力密切相关

B.春天气温变化大，倒春寒现象严重

C.“春捂秋冻”一般以 15℃为标准

D.体质虚弱的人如果受冻会引起血管紧缩，供血减少，可能会突发心梗等疾病

5.在元旦 3 天假期中，市卫生部门分别安排人民医院、脑科医院、市中医院和妇幼保健院进行义诊，要求每天安排 2 家医院，人民医院不能安排在第一天，脑科医院和人民医院同时义诊，市中医院和妇幼保健院同时义诊。如果市中医院没有安排在第二天，那么脑科医院就安排在第一天。

由此可以推断（　　）。

A.人民医院一定在第二天义诊　　B.脑科医院一定在第三天义诊

C.市中医院不会在第一天义诊　　D.妇幼保健院不会在第二天义诊

6.通常情况下，伤害行为的受害者会通过法律渠道表达利益诉求，但是，如果制度不公或失效，就会引发更多的社会伤害行为。不但强势者可能会进一步伤害弱势者，而且他们也可能会受到弱势者的伤害。弱势者也可能对其他弱势者造成伤害，造成“弱者对弱者的欺凌”。这样一来，整个社会就会弥漫着一股戾气，给日常生活带来严重的不安与不快。

由此可以推出（　　）。

A.只有制度不公或失效，强势者才会伤害弱势者

B.如果制度不公或失效，弱势者就会伤害强势者

C.只有制度公正且有效，才能防止引发更多的社会伤害行为

D.如果制度公正且有效，就能给日常生活带来安宁与快乐

7.在开发针对成人的药物和疫苗时，科学界和医药行业使用的实验鼠因为生长环境太干净，导致免疫系统不够强大，在许多方面与成人的免疫系统并不匹配，因而不是最好的动物模型，野生鼠或许更合适。

以下哪项如果为真，不能支持上述结论？（　　）

A.目前技术无法对实验鼠模拟出野生鼠的一些免疫特性

B.无菌环境下长大的小鼠的免疫系统更接近于人类婴儿

C.将实验鼠与野生鼠关在一处，两周后近两成实验鼠死于感染

D.野生鼠生长环境不同，不易找到初始身体状况相同的野生鼠

8.一个人知识的积累、分析能力，以及不断学习的欲望和能力，可以让人保持生理和心理的年轻。研究显示，虽然年纪越大，对数字的记忆力越不如年轻人，但在所有其他智力测试中，起到关键作用的是一个人的受教育程度，而不是年龄。这是因为，受教育程度越高，越有能力投入更多的资源在自己身上。研究同时发现，如果能够保持持续工作的话，即使低教育背景的中年人也能通过应对社会和工作所积累的经验和技能来保持活力。

由此可以推出（　　）。

A.数字记忆力不好的人，投入自身的资源也很少

B.只要保持持续工作，就可以弥补受教育程度的不足

C.生理和心理年轻的中年人，不是爱学习就是爱工作

D.受教育程度越高的人，越容易保持生理和心理的年轻

9.某县计划引进一种生长快、肉质好的良种牛，在本县推广养殖，以提高农民养牛的经济收益。

以下最能对该计划可行性提出质疑的是（　　）。

A.该良种牛不适应当地气候　　B.当地农民养牛的积极性不高

C.该良种牛的养殖成本较高　　D.当地农民没有饲养过该良种牛

10.某国科学家在失去手的患者残留手臂内把手部感官信息传递给大脑的三根主神经周围植入一圈环状电极，这些电极经过导线与一台通过一连串电脉冲制造刺激的机器相连，再将该装置与患者已经在使用的假肢连在一起，让假肢产生各种不同的逼真触觉。为了展开进一步的研究，科学家们试验了利用不同频率和强度的电脉冲来制造各种不同刺激的情形。

从上述分析可以推知，使人造假肢具有实用价值的前提是（　　）。

A.首先必须给患者残留的神经内部接上电极

B.首先需要给患者的残留肢体输送逼真的振动

C.首先需要刺激患者残留肢体内的某些相应的神经

D.首先需要推断出患者在不同情形下应当产生哪些相应的感觉

逻辑判断（二）

1.人们已经知道：如果果蝇体内的 w 基因发挥作用，雄性果蝇就不会向雌性果蝇求爱，转而追求同性。因此果蝇的同性恋行为被认为是由遗传因素决定的。最近，研究人员培养出 w 基因发挥作用的雄性果蝇，然后利用这种果蝇进行了实验。他们发现，果蝇的同性恋行为不仅受遗传因素影响，社会因素也发挥了很大的促进作用。

以下哪项如果为真，最能支持研究人员的发现？（　　）

A.如果这种雄性果蝇羽化为成虫后，只要进行一天以上的集体饲养，雄性果蝇就开始追逐其他雌性果蝇，显示出求爱行为；但如果这种果蝇羽化后是一只只隔离饲养的，则不会出现此种行为

B.如果这种雄性果蝇羽化后是一只只隔离饲养的，若干天后，果蝇就开始表现出对其他雄性果蝇的求爱行为；如果这种雄性果蝇羽化为成虫后是集体饲养的，则不会出现此种行为

C.如果这种雄性果蝇羽化为成虫后，只要进行一天以上的集体饲养，雄性果蝇就开始追逐其他雄性果蝇，显示出同性恋的求爱行为；但如果这种果蝇羽化后是一只只隔离饲养的，则不会出现此种行为

D.如果这种雄性果蝇羽化后是一只只隔离饲养的，若干天后，果蝇就开始表现出对其他雌性果蝇的求爱行为；如果这种雄性果蝇羽化为成虫后是集体饲养的，则不会出现此种行为

2.某城市 2008 年的犯罪率与 2007 年相比下降了 5.2%，该城市的警察局长说：“我们现在看到了 2008 年年初开始在该城市实施的革新警察计划的结果了。”

以下哪项如果为真，最能削弱警察局长的论述？（　　）

A.在实施革新警察计划的其他城市，2008 年犯罪率也下降

B.该城市 2008 年犯罪率的统计方法和 2007 年是一样的

C.2008 年该城市的犯罪数比 2007 年高 10%

D.该城市中最易犯罪年龄段的人数比例 2008 年比 2007 年大幅降低

3.俗话说“每逢佳节胖三斤，仔细一看三公斤”。春节过后，人们摸着肚子上突然显露的一圈肥肉细思极恐，迫不及待地开始了新一轮的疯狂节食和运动。不过，很多人通过运动、节食减肥好一段时间了，但是仍然看不到效果。

以下哪项如果为真，最能解释上述现象？（　　）

A.减肥欲速则不达，事实上，减肥速度最好是要控制在一个月减一到两公斤

B.在减肥的过程中不宜天天称体重，一周一次就好，最好在起床空腹时称重

C.太瘦的人身体内的蛋白量比较低，处于一种低水平健康状态，易受伤害

D.人体对体重的下降很敏感，会通过刺激饥饿感来提醒自己多吃以维持体重

4.张三说李四说谎，李四说王五说谎，王五说张三、李四都说谎。

依据逻辑判断，下列哪项断定为真？（　　）

A.张三说谎，李四、王五说真话　　B.李四说谎，张三、王五说真话

C.张三、李四说谎，王五说真话　　D.张三、王五说谎，李四说真话

5.羽毛球俱乐部的训练场上，甲、乙、丙、丁 4 位小运动员在场上配对进行双打比赛。旁观者问教练 4 位小运动员的年龄时，教练如此回答：甲比乙年纪小；丙比他的两个对手年龄都大；甲比他的伙伴年纪大；乙与甲的年龄差距比丙与丁的年龄差距更大。

则 4 名小运动员的年龄从大到小的顺序为（　　）。

A.乙＞丙＞甲＞丁　　B.丙＞甲＞乙＞丁

C.乙＞甲＞丙＞丁　　D.甲＞乙＞丁＞丙

6.在某高校求职面试培训班组内学员自由组合练习阶段，组内学员练习情况如下：

①小王主动邀请过组内所有人进行面试练习；

②小李曾经主动邀请小赵进行面试练习，但是小赵没有主动邀请其他人进行面试练习；

③如果没有被组内学员邀请过进行面试练习，也就不会主动邀请其他人进行面试练习。

由此可以推出（　　）。

A.小李没有邀请过小赵进行面试练习

B.小王曾经和小李进行过面试练习

C.组内曾经有人邀请过小王进行面试练习

D.组内所有人都曾经邀请过小王进行面试练习

7.一个世界范围的对生产某些破坏臭氧层的化学物质的禁令只能提供一种受到保护的幻觉。已经生产出的大量的这种化学物质已经作为制冷剂存在于数百万台冰箱中。一旦它们到达大气中的臭氧层，它们引起的反应无法被停止。因此没有办法来阻止这些化学物质进一步破坏臭氧层。

以下哪项如果为真，最能加强上述的论述？（　　）

A.无法准确测出作为冰箱制冷剂存在的破坏臭氧层的化学物质的数量

B.在现代社会，为避免不健康甚至对生命构成潜在威胁的状况，冷藏食物是必要的

C.即使人们放弃使用冰箱，早已存在于冰箱中的制冷剂还是会威胁大气中的臭氧层

D.冰箱中的制冷剂可以在冰箱完成使命后被完全开发并重新使用

8.2015 年 5 月 4 日，财政部、国家税务总局发文，烟草消费税由 5%提高至 11%，并加征从量税。有专家认为，“税价联动”会使香烟价格随着税率的提高而提高，购买香烟的人会因此减少，从控烟角度说，这无疑是件好事。

以下哪项如果为真，最能削弱上述结论？（　　）

A.产量不会受到售价的影响

B.收入水平的提高使人们对香烟的价格不太敏感

C.世界上大多数国家的烟草消费税税率低于 11%

D.一些发达国家出现过提高烟草消费税后私烟泛滥的现象

9.车主信息会影响汽车保费，比如年龄较大、女性、高学历的车主，保费相对较低，25 岁以下的年轻人保费较高，出过交通事故的车主保费高；另外，汽车价格、车型、车龄甚至颜色都会影响保险费用。高价新车不一定比低价旧车保费贵，因为新车、好车的防盗装置、安全装置多；特定车型颜色鲜艳的车保费贵，比如爱开红色跑车的人，性格比较奔放，开车时相对不太谨慎。

根据上文，最有可能推出的是（　　）。

A.有过交通事故的红色跑车的 18 岁男性车主所交的保费高

B.开豪华跑车的女性要比开平价汽车的男性所交的保费高

C.大龄、有研究生学历并购买新车的女性车主所交的保费低

D.谨慎细致的车主要比奔放活泼的车主所交的保费低

10.有以下几个条件成立：

（1）如果小王是工人，那么小张不是医生；

（2）或者小李是工人，或者小王是工人；

（3）如果小张不是医生，那么小赵不是学生；

（4）或者小赵是学生，或者小周不是经理。

下列哪项如果为真，可得出“小李是工人”的结论？（　　）

A.小张不是医生　　B.小王是工人

C.小赵不是学生　　D.小周是经理

逻辑判断（三）

1.公众是否应该在电视当中收看到真实的法庭审判？有国外学者认为，人们在电视中收看庭审，不是因为他们关心国家有效推行司法制度运行的能力。相反，他们要看到是目击证人作证的戏剧性效果——追求娱乐性。因此应当把摄像机移出法庭，免得公众把法律体系当成情景喜剧的脚本。

以下哪项如果为真，最能支持上述论证？（　　）

A.在成千上万的观众面前审理案件，法官和陪审员会变得格外小心翼翼

B.只要把对刑事诉讼中被告的审判搬上电视，观众基本上就认定他有罪

C.证人可能会因为担心自己的证词传入成千上万观众的耳中而拒绝作证

D.证人在法庭上的证词，经过电视传播之后，有时候会成为人们的笑资

2.从世纪之交的人类基因组计划，到今天的人类基因组编写计划，基因革命的巨轮劈波斩浪，滚滚向前。有学者担心，如果人类基因组编写计划成功实现，就有可能造出没有生物学意义上父母的人，从而挑战“人的定义”这个最根本的哲学问题。

以下哪项是上述学者的担心所假设的？（　　）

A.人指的是存在生物学意义上父母的人

B.人的社会属性比其生物学属性更加重要

C.人类基因组编写计划不能违反人类伦理

D.人类基因组的哲学问题要比技术问题更为根本

3.甲、乙、丙、丁四个人高考前对英语成绩进行预测。当时，甲说："我再怎么努力也考不了 90 分。"乙说："不知道自己能考多少分，但是我知道丙能考 90 分。"丙说："丁不会考到 80 分。"丁说："乙不会考得比 60 分还低。"事实上只有一人猜对了。

以下哪个结论不支持乙猜对了？（　　）

A.丁考得比甲高　　B.乙考得不是最差的

C.甲和丙考得一样高　　D.丙和丁考得一样高

4.在某一物流公司，职员小王的销售业绩总比小刘的销售业绩好。因此，小王的销售技巧比小刘好。以下各项都会削弱上述结论，除了（　　）。

A.小王销售的产品的需求量比小刘销售的产品的需求量大

B.小王销售的地区的潜在顾客收入水平较高

C.小刘销售的产品的销量一直很低

D.小王每天做销售工作的时间比小刘更少

5.某单位办公室有 12 名员工。他们当中，单身的博士都住在南湖公寓，自己有车的男性员工都住在滨江区。王英博士有车，在该单位已工作 3 年，住在滨江区的南湾小区。

根据以上信息，可以得出以下哪项？（　　）

A.王英是男性　　B.王英不是单身

C.该办公室有些人没有车　　D.南湖公寓比南湾小区离单位更近

6.大华公司规定，其所属的各营业分公司，如果年营业额超过 500 万元，其职员可获得优秀奖；只有年营业额超过 400 万元，其职员才能获得激励奖。年终统计显示，该公司所属的 12 个分公司中，6 个年营业额超过了 1000 万元，其余的则不足 400 万元。

如果上述断定为真，则下列哪项关于该公司今年情况的判断一定为真？（　　）

Ⅰ.获得激励奖的职员，一定获得优秀奖

Ⅱ.获得优秀奖的职员，一定获得激励奖

Ⅲ.半数职员获得了优秀奖

A.仅Ⅰ　　B.仅Ⅱ　　C.仅Ⅲ　　D.仅Ⅰ和Ⅲ

7.近日，曼彻斯特大学的科学家宣布，他们已经可以通过精确控制石墨烯膜中的孔径，从咸水中过滤出普通的盐，从而保证饮用的安全性。据此，有科学家宣称这种技术可以让海水变成饮用水，从而彻底改变世界各地的缺水问题。

以下哪项如果为真，最能支持上述论证？（　　）

A.从前石墨烯氧化物膜已显示出了进行气体分离的强大潜力

B.随着气候变化的影响，许多国家的城市供水出现短缺问题

C.这一技术将为制盐业提高脱盐技术的效率开辟新的可能性

D.通过改变滤孔大小，可以实现石墨烯膜的大规模工业生产

8.科学家奇克发现，体重指数（BMI，一种利用身高与体重的比例来衡量胖瘦的方法）和记忆衰退之间具有清晰的联系。在实验中，BMI 更高的参加者表现得更加糟糕。奇克的研究结果显示，肥胖可能会引起脑萎缩和记忆衰退。

以下哪项如果为真，最能质疑上述结论？（　　）

A.通过外科手术将肥胖小鼠的腹部脂肪移植入消瘦的小鼠中，发现这些脂肪造成了消瘦小鼠的脑部炎症，改变了突触功能，导致了被移植小鼠的认知障碍

B.一个包括了 500 名参与者的脑部扫描研究证实，肥胖与因年龄增长而造成的大脑退化有密切关系，这种影响在中年人中尤为明显

C.某医学院报道，海马体位于大脑深处，负责学习和记忆的功能，腹部脂肪含量较高的中年人，其海马体的容量要比纤瘦的人小

D.有科学家发现，午餐时被分散注意力的人对于午餐的记忆比较模糊，导致他们在晚餐时会感到更饥饿，吃得更多。由此得出结论，记忆缺陷会引起体重增长

9.截至 2016 年 12 月，我国 19 岁以下的网民已经达到 1.7 亿，约占全体网民的 23.4%，新增网民中 46.8%为 19 岁以下的未成年人。未成年人首次“触网”的年龄也呈现低龄化趋势，有些未成年人对各种电子上网设备、社交软件的玩转程度甚至已经超过成年人。

根据材料，下列说法中正确的是（　　）。

A.未成年人网络媒介使用数量增加说明我国对网络的管理有待提升

B.未成年人网络媒介使用对未成年人的成长和发展不利

C.未成年人网络媒介使用数量增加是信息化时代的必然趋势

D.未成年人网络媒介使用应该限制

10.人们对于搭乘飞机的恐惧其实是毫无道理的，据统计，1995 年全世界死于地面交通事故的人数超过 80 万，而在自 1990 至 1999 年的 10 年间，全世界平均每年死于空难的还不到 500 人，而在这 10 年间，我国平均每年罹于空难的还不到 25 人。

为了评价上述论证的正确性，回答以下哪个问题最为重要？（　　）

A.在上述 10 年间，全世界平均每年有多少人采用地面交通，有多少人采用航运

B.在上述 10 年间，我国平均每年有多少人采用地面交通，有多少人采用航运

C.在上述 10 年间，我国平均每年有多少人死于地面交通事故

D.在上述 10 年间，1995 年全世界死于地面交通事故的人数是否是最高的

逻辑判断（四）

1.一项针对近 1.65 万名中年职场人士的调查显示，在约占总人数 8%的“工作狂”中，经常被焦虑症困扰的比例高达 34%，是那些总体上能保持工作生活平衡的人的 3 倍。此外，工作狂中也有更多的注意力缺失及多动症和强迫症患者。

关于中年职场人士，可以推出（　　）。

A.注意力缺失的人大部分是工作狂

B.不是工作狂的人没有受到焦虑症困扰

C.强迫症患者不容易保持工作生活的平衡

D.不能保持工作生活平衡的人更易得焦虑症

2.对所有农产品都进行了检测，没有发现有农药残留超标的产品。

如果上述断定为假，那么下列哪项也一定为真？（　　）

Ⅰ.有的农产品尚未经过检测，但发现了有农药残留超标的产品

Ⅱ.或者有的农产品尚未经过检测，或者发现了有农药残留超标的产品

Ⅲ.如果对所有农产品进行了检测，则可发现农药残留超标的产品

A.仅仅Ⅰ　　B.仅仅Ⅱ

C.仅仅Ⅲ　　D.仅仅Ⅱ和Ⅲ

3.一般来说，油品质量标准由石化行业制定，环保部门并无相关油品质量监管权。因此，面对城市车流带来的大量污染物排放和空气污染加剧问题，环保部门在这方面很难真正采取有效的措施。

要得出以上论断，需要补充以下哪项作为前提？（　　）

A.油品质量提高能有效降低汽车污染物排放

B.油品质量提高需要石化行业提高相应标准

C.环保部门对油品质量标准制定拥有决定权

D.当前环保部门对石化行业的监管力度较弱

4.法庭上依次站着甲、乙、丙三个人，其中的每一个人要么是小偷，要么是农民。小偷对问题的回答总是假的，而农民的回答总是真的。法官先问甲："你是什么人？"甲回答以后，法官转向乙和丙，问道："他回答的是什么？"乙答道："甲说他是农民。"丙则回答："甲说他是小偷。"

由此，法官对乙和丙的身份作出了正确的判断。他的判断是（　　）。

A.乙是农民，丙是小偷　　B.乙是小偷，丙也是小偷

C.乙是小偷，丙是农民　　D.无法作出判断

5.某种品牌的化肥生产，其废水排放物如果进入河里，会导致红鳟鱼不产卵，从而导致鱼的数量减少。一家建在河流不远处的化工厂在生产该品牌的化肥后，养殖户在该流域养的红鳟鱼排卵数量剧减。因此这家化工厂在生产化肥时一定污染了河水。

以下哪项所包含的推理错误与上述推理最相似？（　　）

A.营养不良的容易生病，李某很胖但检查各项指标没有营养不良，所以他肯定不容易染病

B.重度失眠者经常熬夜，张某是一名大学教师，经常熬夜工作到两点，所以张某很可能是一位重度失眠者

C.幽门螺旋杆菌检测呈阳性的人会得胃溃疡，张某得了胃溃疡疾病，所以张某的幽门螺旋杆菌一定呈阳性

D.人吃肥肉可导致心血管疾病发病率增大，最近老王外出应酬吃了两次回锅肉，体重增加，一定是得了心血疾病

6.从2002年开始，我国的离婚率就一路走高。专家表示，我国离婚率上升的原因不能简单解释为

社会风气不好，一方面与原来整体离婚率水平比较低有关；另一方面也与中国社会方方面面的变化以及舆论环境、社会观念变化有关。

以下哪项如果为真，最能支持专家观点？（　　）

A.据统计，在众多的离婚者中，年轻人所占的比率越来越大

B.统计显示，男女地位平等、个人自我意识的觉醒是我国离婚率上升的主要原因

C.2015 年我国离婚率最高的城市是北京，其后依次是上海、深圳、广州、厦门等城市

D.我国离婚率上升的原因其实非常复杂，除了社会风气的影响，还牵涉人的情感因素

7.民间有“三九补一冬，来年无病痛”和“冬令进补，开春打虎”等说法，所以大多数人都认为冬季是最佳进补的季节。

以下哪项如果为真，最能削弱上述观点？（　　）

A.当人们缺乏某些必需的营养时，应根据情况选用对应的补药

B.过去冬天保暖措施不佳且人多数营养不良，现在情况已相反

C.如果不缺乏营养，过分补充某一种营养，可能会对身体有害

D.冬天空气干燥，及时补充水分或多吃水果，对人体健康有益

8.福耀集团的管理人员有的获得了 MBA 学位，因此，有些工科背景的大学毕业生获得了 MBA 学位。

下列哪项如果为真，则最能保证上述论证成立？（　　）

A.福耀集团的所有管理人员都是有工科背景的大学毕业生

B.福耀集团所有有工科背景的大学毕业生都是管理人员

C.有些获得 MBA 学位的工科大学毕业生不是福耀集团的管理人员

D.福耀集团的有些管理人员不是有工科背景的大学毕业生

9.现在女性化妆品种类繁多，且不断出新，但每一种新产品的面世都能带来一股购买的热潮，并拥有一大群顾客。因此，有人认为，生产化妆品是没有风险的。

下列哪项如果为真，最能削弱上述论证？（　　）

A.有一些生产化妆品的企业面对合资企业产品及进口化妆品的竞争不得不转产

B.不断有新产品面世，就一定不断有老产品被淘汰

C.爱美是女人的天性，所以化妆品永远会有市场

D.人们对某种化妆品的需求量总是有限的

10.随着网络的普及，电子版图书也越来越多，其中包括电子版的文学名著，而且价格很低。人们只要打开电脑，在网上几乎可以浏览到任何一本名著。电子版文学名著的问世，会改变大众的阅读品味，有利于造就高素质读者群体。

以下最能削弱上述结论的一项是（　　）。

A.对文学没有兴趣的人不会因为文学名著的价钱高低或者是否方便而阅读文学名著

B.文学名著的普及率一直不如娱乐杂志、时事报刊等大众读物

C.许多读者认为阅读电子书籍的感觉不如阅读印刷书籍的那么好，宁愿选择印刷版读物

D.在互联网上阅读文学名著仍然需要收费

逻辑判断（五）

1.北冰洋北部的小头睡鲨的生长速度很慢，每年甚至还不到 1cm，而它们的成年体长又极大，因此它的寿命就成为一个很吸引人的话题。研究者发现，小头睡鲨几乎没有像硬骨鱼类那样可以用来测定年龄的组织，不过有其他人在研究鲸鱼年龄时用到了眼睛。因此，研究者认为小头睡鲨的年龄是可以通过其眼睛来测定的。

以下哪项如果为真，最能支持上述观点？（　　）

A.通过研究晶状体核，有人测出了鲸鱼的实际年龄

B.眼睛晶状体最核心位置的晶状体核在小头睡鲨还是幼崽时就有了

C.眼睛的晶状体是不断生长的，成长小头睡鲨的晶状体比幼年的大

D.小头睡鲨眼睛的晶状体有结晶蛋白，在代谢上不活跃，甚至可以视为“死的”组织

2.一项对某届大学毕业生的调查结果看来有些问题，接受调查的毕业生被问及其在学校时学习成绩的名次时，统计资料表明：有 60%的回答者说他们的成绩位居班级的前 20%。

如果我们已经排除了回答者说假话的可能，那么下列哪一项能够对上述现象给出最合适的解释？（　　）

A.未回答者中也并不是所有人的成绩名次都在班级的前 20%以外

B.成绩较差的毕业生在被访问时一般没有回答这个有关学习成绩名次的问题

C.虽然回答者没有报错成绩，但不排除个别人对学习成绩的排名有不同的理解

D.该大学对学生学习成绩的名次排列方式与其他大多数学校不同

3.A 国人口总体平均期望寿命是 73.9 岁，但是在 A 国 B 地出生的小孩平均能活到 75 岁，而那些在 A 国 C 地出生的人平均能活到 72.7 岁。如果一对从 C 地来的新婚夫妇在 B 地开始他们的家庭生活，那么他们的孩子预期将比他们留在 C 地活得更长。

以下哪个论述如果是正确的，最能削弱上述结论？（　　）

A.所有迁移到 B 地去的 C 地人，有 25%活过了 77 岁

B.有利于长寿的环境因素在 B 地有很多，而在 C 地比较少

C.由于 B 地人口密度的增加，该地的寿命预期数据可能要大幅向下修正

D.过去 10 年间，C 地人的平均寿命预期比 B 地人变化得更快

4.某中学进行高考免试学生的推荐，共有甲、乙、丙、丁、戊、己、庚 7 位同学入围。在 7 人中，有 3 位同学是女生，4 位同学是男生，有 4 位同学年龄为 18 岁，而另外 3 位同学年龄则为 17 岁。已知甲、丙和戊年龄相同，而乙、庚的年龄则不同；乙、丁与己性别相同，而甲与庚性别则不同。最后，只有一位 17 岁的女生得到了推荐资格。

由此可知，获得推荐资格的是（　　）。

A.甲　　B.乙　　C.丁　　D.庚

5.通过检查甲虫化石，一研究小组对英国在过去 2.2 万年内的气温提出了到目前为止最为详尽的描述。该研究小组对甲虫化石进行挑选，并确定它们的日期。当发现在同一地方几种甲虫化石属于同一时间段时，现存的这些甲虫类生物的已知忍受温度就可以被用来确定那个地方在该时间段内的夏季最高温度。

研究者的论述过程中依赖于下列哪一条假设？（　　）

A.在同一地方发现的不同甲虫的化石属于不同时期

B.确定甲虫化石日期的方法比确定其他生物日期的方法精准

C.在过去 2.2 万年的时间内，甲虫类生物的可忍受最高温度没有很大变化

D.一个地方某个时期的实际最高夏季温度与那个地方那段时间发现的每种甲虫的平均最高可忍受温度相等

6.最近几十年，花生过敏问题因其潜在的危险性及全球不断增加的发病率而日益受到关注。在美国国家过敏症和传染病研究所的资助下，英国伦敦大学国王学院研究人员得出一个结论：从小就开始吃含花生的食品，会使人对花生过敏的风险大幅降低。

以下哪项如果为真，最能支持上述结论？（　　）

A.婴儿从 4 个月就开始吃鸡蛋，会使其对鸡蛋过敏的风险大幅降低

B.小孩停止定期食用花生制品之后，防止花生过敏的效果会仍然存在

C.美国国家过敏症和传染病研究所建议婴儿摄取花生制品以预防过敏

D.定期吃花生制品的婴儿，到 5 岁时对花生过敏的风险降低了 81%

7.流感病毒的变异速度相当快，即使疫苗每年更新，也不能保证疫苗接种覆盖全部的“当季流行款”。接种流感疫苗，既不能保证百分之百不得流感，还可能导致接种人群出现低烧等副作用。因此，没有必要接种流感疫苗。

以下选项如果为真，不能有效反驳上文结论的是（　　）。

A.接种流感疫苗可以减少儿童、慢性病患者等高危人群因流感而发生严重并发症的风险

B.接种季节性流感疫苗可以降低易感人群感染流感病毒的概率

C.接种流感疫苗后只有极少数人会出现全身反应，且一两天可以缓解，比流感的症状要轻很多

D.从疾病中恢复过来的人可以获得一定的免疫力，1 年内不会再次被同样的流感病毒感染

8.面对要不要戒烟的问题，很多人在理性和欲望之间徘徊。除非他们战胜了欲望取得戒烟成功，否则就不得不付出健康的代价。老钱最近越来越为自己的健康担心，他有 25 年烟龄，但他很担心因吸烟而导致疾病，不想因为吸烟而付出健康的代价。

由此，可以推出（　　）。

A.如果老钱越来越担心健康出现问题，他就一定有 25 年烟龄

B.老钱若不想因为吸烟而付出健康的代价，就必须成功戒烟

C.所有人都一直在理性和欲望之间徘徊

D.如果老钱健康出现问题，一定是吸烟造成的

9.某单位每个月都要对工作人员的工作表现进行考评。去年上半年，该单位的甲、乙、丙、丁 4 位员工均获得了 3 次月度优秀奖。已知：甲和乙有 2 个月同时获奖，乙和丙也有 2 个月同时获奖，甲和丁获奖的月份完全不同。

以下说法一定正确的是（　　）。

A.只有 3 个人同时获奖的月份有 2 个

B.只有 2 个人同时获奖的月份有 3 个

C.只有 1 个人获奖的月份有 1 个

D.只有 2 个人同时获奖的月份少于只有 1 个人获奖的月份

10.某单位员工政治面貌只有中共党员和群众两种情况。根据人事部门的数据，该单位的女性员工多于男性员工，中共党员员工多于政治面貌为群众的员工。

下列判断一定正确的是（　　）。

A.政治面貌为群众的女性员工多于政治面貌为群众的男性员工

B.政治面貌为中共党员的男性员工多于政治面貌为中共党员的女性员工

C.政治面貌为中共党员的女性员工多于政治面貌为群众的男性员工

D.政治面貌为群众的男性员工多于政治面貌为中共党员的男性员工

逻辑判断（六）

1.国务院总理李克强在第十二届全国人民代表大会第五次会议上所做的《2017 年国务院政府工作报告》中指出，加快改善生态环境特别是空气质量，是人民群众的迫切愿望，是可持续发展的内在要求。改善空气质量的一个重要措施是降低空气中的 PM2.5 浓度。某市计划推行机动车尾号限行制度，向社会征求意见时，引发社会舆论强烈反对。有人表示这种做法对降低 PM2.5 浓度意义不大，无法改善目前的空气质量。

以下哪项如果为真，最能支持这名群众的意见？（　　）

A.由于空气污染严重，很多外商投资企业不得不放弃在该市的投资计划

B.机动车尾气排放污染物占该市全部大气污染物总量的 80%

C.机动车尾气对大气污染的影响比工业污染要小

D.该市的 PM2.5 指数升高是由周边城市大气污染迁移导致的

2.扬子鳄是中国特有的一种鳄鱼，主要分布在长江中下游地区，它是古老的、现存数量非常稀少的爬行动物。在扬子鳄身上，至今还可以找到恐龙类爬行动物的许多特征，故扬子鳄常被称为“活化石”。因此，扬子鳄对于人们研究古代爬行动物的兴衰以及研究古地质学和生物的进化，都有重要意义。

以下哪项如果为真，是上述论证所需的前提？（　　）

A.扬子鳄是世界上最珍稀的爬行动物之一

B.扬子鳄生活的年代和恐龙生活的年代大抵相当

C.现存的具有恐龙类爬行动物特征的动物已经为数不多

D.研究恐龙类爬行动物的特征是研究古代爬行动物兴衰的关键

3.为了验证 DHA 与儿童智力发育间的关系，某机构对幼儿园一个班级 20 名小朋友进行为期一年的分组对照实验，一组小朋友服用富含 DHA 的补充剂，另一组小朋友不服用。实验过后经过智力测试，服用富含 DHA 补充剂的小朋友的智力水平明显高于不服用补充剂的小朋友，由此判断 DHA 是一种对人体非常重要的不饱和脂肪酸，对儿童智力发育非常重要。

最能削弱上述观点的一项是（　　）。

A.经过专家研究后发现该机构的智力测试存在漏洞，不能准确反映受试者情况

B.DHA 补充剂数量稀少，老师将服用补充剂当作对聪明小朋友的奖励

C.DHA 是视网膜的重要组成部分，适量补充 DHA 有助于视力发育

D.DHA 是促进神经系统细胞生长的一种主要成分，在人体大脑皮层中含量高达 20%

4.新当选的七名班委中，有一个辽宁人，两个北方人，一个浙江人，两个特长生，三个贫困生。假设上述介绍涉及了所有班委，则以下各项判断中肯定不正确的是（　　）。

A.两个特长生都是贫困生　　B.贫困生不都是南方人

C.特长生都是南方人　　D.辽宁人是特长生

5.某大学举行年度学生排球联赛，文学院代表队五名主力队员之间的上场配置有如下规律：

（1）若甲上场，则乙也要上场；

（2）只有甲不上场，丙才不上场；

（3）要么丙不上场，要么乙和戊中有人不上场；

（4）或者丁上场，或者乙上场。

若乙不上场，下列哪项配置合乎上述规律？（　　）

A.甲、丙、丁同时上场　　B.丙不上场，丁、戊同时上场

C.甲不上场，丙、丁同时上场　　D.甲、丁都上场，戊不上场

6.研究人员选取 16 名 11 个月大的儿童开展实验研究，其中 8 个来自英语单语的家庭，另外 8 个来自讲西班牙语、英语的双语家庭，每个儿童都会听一段长约 18 分钟的音频，其中既有英语发音，也有西班牙语发音。研究者借助脑磁图描记术发现，在大脑的执行区域中，双语家庭长大的儿童对语言声音的刺激反应要比单语家庭的儿童更为强烈。这说明，双语环境很早就已开始对大脑活跃性产生影响。

以下哪项如果为真，最能支持上述结论？（　　）

A.相比而言，西班牙语对大脑的声音刺激比英语更为明显

B.双语家庭长大的孩子无需父母刻意教就能熟练掌握双语

C.双语家庭儿童在 11 月大时对外语声音的感知较 6 个月大时明显强化

D.此前人类大脑研究显示，具备双语能力的成年人大脑执行功能更为活跃

7.有专家建议，可以通过多开通公共交通线路的方式缓解城市拥堵现状。

以下哪项为真最能削弱上述观点？（　　）

A.由于生活习惯，人们不愿意乘坐公共交通出行

B.多数市民表示，即使多开通公共交通线路，他们也会继续开车出行

C.公共交通的速度影响人们的出行效率

D.公共交通运输能力的加强也会挤占部分道路

8.李明：“目前我国已经具备了开征遗产税的条件，我国已经有一大批人进入了高收入阶层，遗产税的开征有了雄厚的现实经济基础。我国的基尼系数已超过了 4.0 的国际警戒线，社会的贫富差距在逐渐加大，这对遗产税的开征提出了迫切的需求。”张涛：“我国目前还不具备开征遗产税的条件，如果现在实施遗产税，很可能遇到征不到税的问题。”

以下哪项如果为真，最能加强张涛的反对意见？（　　）

A.目前在我国，无论平民百姓还是百万富翁都想把自己的财富留给子孙

B.只有在对个人信息很清楚的情况下才能实施遗产税

C.目前我国的人均寿命为72岁，我国目前的富裕人群年龄为35～50岁

D.我国有些富有的影视明星不到60岁就不幸去世了

9～10题基于以下题干：

某园林依中轴线布局，从前到后依次排列着七个庭院，这七个庭院分别以汉字“天”“地”“人”“日”“月”“星”“辰”来命名。已知：

①“天”字庭院不是最前面的庭院。

②“星”字庭院和“辰”字庭院相邻。

③“地”“人”两庭院间隔的庭院数与“日”“月”两庭院间隔的庭院数相同。

9.根据上述信息，“天”字庭院可能是（　　）。

A.第一个庭院　　B.第二个庭院

C.第四个庭院　　D.第五个庭院

10.如果第二个庭院是“辰”字庭院，则下列一定为真的是（　　）。

A.第七个庭院是“天”字庭院　　B.第五个庭院是“日”字庭院

C.第三个庭院是“地”字庭院　　D.第一个庭院是“星”字庭院

逻辑判断（七）

1.电视对儿童的影响很大。有一项历时多年的研究调查了570名幼儿，试图找出他们童年早期观看的电视节目与青春期行为之间的关系。结果发现，5岁时观看教育类节目（比如芝麻街、科学小子等）越多的儿童，高中时的成绩越好，创造力就越强，对自己的学业成绩也越重视，读的书就越多，攻击性行为就越少。

下列哪项如果为真，最可能对上述研究的推断提供支持？（　　）

A.研究者自己小时候就看了很多教育类节目，日后学业非常成功

B.资料表明，学前就经常观看暴力电视节目的女孩，相比较少观看暴力电视节目的女孩，将来的高中成绩要差

C.小明家是贫困户，家里没电视，很少有机会观看教育类电视节目，后来小明的高中成绩也不理想

D.儿童成长过程中，早期经验对未来的发展起到了重要作用

2.紫外线穿透能力强，可达真皮层，将皮肤晒黑，对皮肤伤害性很大。即便在非夏季期间，紫外线虽然强度较弱，但仍然存在，长时间累积也容易让皮肤受伤，产生黑色素沉淀、肌肤老化松弛等问题。所以爱美的女性必须每天都涂防晒霜。

如果以下各项为真，最能削弱上述结论的是（　　）。

A.室内距窗户半米处紫外线辐射量约是室外的40%，距离窗户1.5米处就衰减到室外的15%，因此如果足不出户就不用涂防晒霜

B.防晒霜一般要求涂抹均匀和及时补涂，如果使用不当，即便是标称高倍数防晒的产品，也不一定

能发挥出多大的防护功效

C.紫外线在每年的4～9月强度最高，而冬天最弱

D.大部分的阳伞都有一定的防晒保护作用，一把普通的阳伞可以遮挡77%的紫外线，而一把黑色的阳伞可以遮挡99%的紫外线

3.在下列的正方形矩阵中，每个小方格可填入一个汉字，要求每行每列以及粗线框成的 4 个小正方形中均含有天、地、日、月 4 个汉字。

			月
	地	日	
		①	
天			

根据上述条件，方格①中应填入的汉字是（　　）。

A.地　　B.天　　C.月　　D.日

4.现在人们常常提到大学毕业生就业难。但据统计，近年我国就业市场空缺岗位与求职人数的比率一般大于 1，劳动力市场的需求大于供给。而在求职人群中，大学毕业生的文化水平较高。因此，我国大学毕业生实际上不存在就业难的问题。

以下信息如果为真，能够有效反驳上述结论的是（　　）。

A.当前经济下行压力较大，不少企业严控用工成本，已经开始裁员

B.劳动力市场最紧缺的一些岗位主要是适合高级技工的岗位

C.大学毕业生愿意从事的岗位往往竞争激烈

D.一些高级技能人才的收入水平要高于大学毕业生

5.所有商品都有商标。

已知上述断定为假，下列不能确定真假的是（　　）。

Ⅰ.并非有的商品有商标

Ⅱ.有些商品没有商标

Ⅲ.所有商品都没有商标，这不可能

A.Ⅰ、Ⅱ　　B.Ⅰ、Ⅲ　　C.Ⅱ、Ⅲ　　D.Ⅰ、Ⅱ、Ⅲ

6.针对 A 和 B 两位候选人的支持率民意调查数据显示，对 A 的支持率大大超过了 B，但最终的选举结果却是 B 的支持票数大大超过了 A，最终赢得了选举。由此可证明，此次民调数据不可信。

以下各项如果为真，最能加强上述论证的是（　　）。

A.民意调查的样本数量太少，只有 1651 人，不具有代表性，而且数据误差高达 6%

B.此次选举中大学以下教育程度的选民投票率大大提高，而这些选民多是 B 的支持者

C.民意调查受到了主流媒体的影响、操纵甚至是恶意篡改，而这些媒体大多是 A 的坚定支持者

D.民意调查采取随机抽取并拨打电话的方式，这种方式只能打电话，而全国半数以上的人们不使用电话

7.服药能否提高一个人对于音高的识别能力？近来一项国外研究对此作出了肯定的回答。研究者将试验参与者分为两组，第一组服用了丙戊酸，第二组服用了安慰剂，所有的试验参与者均未接受过系统的音乐训练。结果发现，在识别音高测试中，第一组的正确识别率更高。研究者据此认为，通过药物治疗可以改善人们对于音高的识别能力。

以下哪项如果为真，最能质疑研究人员的上述结论？（　　）

A.第一组试验参与者比第二组的人数多

B.第一组试验参与者与第二组的平均年龄不同

C.第一组试验参与者裸耳听力测验成绩高于第二组

D.第一组试验参与者中父母从事音乐工作的比例较高

8.一次羽毛球邀请赛，共有五名运动员：王益、李进、舒砚、赵宇、陈亮，分别来自海南、江西、浙江、福建、天津。据了解：

（1）王益仅与另外两名运动员比赛过；

（2）福建运动员仅与另外三名运动员比赛过；

（3）李进没有和江西运动员比赛过；

（4）江西运动员和舒砚比赛过；

（5）江西、浙江、天津的三名运动员相互之间都比赛过；

（6）赵宇仅与一名运动员比赛过。

根据上述资料，请问陈亮最可能是来自哪个省？（　　）

A.海南　　B.江西　　C.浙江　　D.福建

9.由于按揭贷款的利率下调，人们每月还贷压力减小，因此一家机构预测某地的商品房销售量会增长，但实际上，销售量并未出现明显增长。

下列哪项如果为真，最能解释以上现象？（　　）

A.当地一直存在人口外流的现象　　B.本地的商品房价格没有明显下降

C.有的开发商取消了购房优惠政策　　D.因经济环境不好，当地人均收入下降

10.有研究表明，没摊上好上司不仅会让员工在上班时感到痛苦，还会导致员工罹患身体和精神方面的疾病。

下列最能质疑以上论断的是（　　）。

A.身体和精神方面的疾病与抽烟、酗酒和暴饮暴食等不健康的生活方式均有关系

B.那些受调查者最大的心理压力并不仅仅来自“与上司关系不佳”

C.那些认为上司不错的员工并不比那些认为上司不好的员工罹患疾病的风险低

D.经常给下属施压和不给下级提供支持的上司不利于提升员工表现

逻辑判断（八）

1.某饭店宣布：“新开发的排放油烟系统，虽然还未完成为期6个月的试验检验，但是至今并未发生故障，所以公司决定要安装在饭店后厨，毕竟这个系统可以更有效地解决油烟问题。”该饭店的主厨

说："我们不能使用未完成试验的排放油烟系统，6个月以后再说吧。"

以下哪项最能支持主厨的反对意见？（　　）

A.能更有效地处理油烟的新系统也可能存在新问题

B.尽管新的排放油烟系统比以前的难操作，但有一些新能力

C.新的排放油烟系统保修期更长，维修方便

D.许多安全事故都是排放油烟系统造成的

2.近日，音频格式MP3的制定机构停止颁发MP3许可证。有人认为，MP3格式已被官方"杀死"，在音频文件格式中，MP3格式将被AAC格式取代，并将退出历史舞台。

如果以下各项为真，最能反驳上述观点的是（　　）。

A.AAC的确有比MP3更好的音乐质量，但二者仅仅在低比特率时差别明显

B.AAC格式受到专利保护，由于还需支付专利使用费限制了AAC的市场份额

C.MP3格式的音乐文件在一些新出现的音乐播放器中无法被识别和播放

D.MP3压缩技术的专利近期已经失效，制定机构的声明仅仅是宣告了许可证发放项目的结束

3.把红、黄、蓝、绿、紫五个小球放在五个排成一列的抽屉里，序号为A、B、C、D、E。要求：黄球放在绿球和紫球前面，蓝球不能放在B抽屉里，红球和绿球之间隔着一个抽屉。

问黄球放在哪个抽屉时，五个球的排放顺序是唯一的？（　　）

A.B抽屉　　B.C抽屉　　C.D抽屉　　D.E抽屉

4.为全面推进脱贫攻坚，某地决定选派两名工作人员深入群众调查了解本地贫困人员基本情况，组织部将从王一、孙二、宋三、李四、张五5人中依照个人特点、岗位要求和实际需要挑选合适人员，情况如下：

（1）如果王一不去，那么或者孙二去或者宋三去；

（2）如果孙二去，则李四去；

（3）宋三和张五有且只有一人去；

（4）如果李四去，那么张五不去；

（5）张五一定要去。

据此，可以推出（　　）。

A.王一去　　B.孙二去　　C.宋三去　　D.李四去

5.新近发现蚜虫有一项"特异功能"：蚜虫或许能吸收阳光，为新陈代谢过程提供能量。蚜虫是唯一一种能合成类胡萝卜素的动物，这种色素可以帮助生物保持免疫系统监控和生产特定维生素。有科学家提出，蚜虫体内的这种色素也许能帮助它吸收太阳光，进行基本的光合作用，生产能量ATP。

以下哪项如果为真，不能支持科学家的假说？（　　）

A.含有高水平类胡萝卜素的绿色蚜虫相比于白色蚜虫在光照条件下能生产出更多的ATP，后者几乎没有该种色素

B.类胡萝卜素分子在蚜虫的表皮深层形成0～40微米的薄层色素层，而这一分布正是捕获阳光的最佳位置

C.橙色蚜虫体内的类胡萝卜素能够吸收光并且传递能量

D.类胡萝卜素决定着蚜虫的色素沉着，而蚜虫的颜色受环境影响，在光照条件下呈现绿色

6.一项研究表明，螨虫不能饮水，它们通过从空气中吸收水分来保持身体的含水量，故螨虫只能生活在潮湿的环境下，对螨虫过敏的人搬到干燥地区就可以避免这一问题。

以下哪项如果为真，最能削弱这一结论？（　　）

A.经常使用高效微粒空气过滤器净化空气可有效抑制螨虫

B.调查发现在我国西部山区的大部分地方，室内螨虫很少

C.从潮湿地区搬到干旱地区的床垫、毯子等也会滋生螨虫

D.螨虫的分泌物、排泄物以及螨虫的尸体，都会致人过敏

7.经济学家称，商家的未来在于手机支付。因为当你看不到钱被花出去的时候，也就意味着焦虑感会减少。

以下哪项如果为真，无法支持该经济学家的结论？（　　）

A.现金消费的行为更能激发人们继续挣钱的愿望

B.不具备网购和支付功能的手机已经被市场淘汰

C.目睹金钱在眼前消失会激活某一脑区，产生痛苦感

D.同一商品在实体店的销售额远低于网上商城的销售额

8.村书记说："本村所有农户都已申请了农业开发专项贷款。"

村主任说："或者本村最富有的刘家没有申请农业专项贷款，或者本村最贫穷的周家没有申请农业专项贷款。"

治保主任说："事实上本村最富有的刘家也申请了农业专项贷款。"

村会计说："经核实，本村确实有农户没有申请农业专项贷款。"

已知上述谈话中只有一人说的是假话，据此可推出以下哪项结论？（　　）

A.村书记说了假话，本村最富有的刘家没申请

B.村主任说了假话，本村最富有的刘家和最贫穷的周家都申请了

C.治保主任说了假话，本村最富有的刘家没申请

D.村书记说了假话，本村最贫穷的周家没申请

9.一项研究发现，尼安德特人的胸腔和骨盆进化得更大更宽，是冰川时期以大型动物为狩猎对象的饮食习惯造成的。尼安德特人的钟形胸腔或胸廓变大是为了适应更大的肝脏，而肝脏是负责使大量蛋白质经过新陈代谢转化为能量的器官。这使得到加强的新陈代谢还要求有更大的泌尿系统来去除大量有毒尿素，这可能使得尼安德特人的骨盆很宽。

以下哪项是得出上述研究结论的必需前提？（　　）

A.尼安德特人以大型动物为食时摄入了大量的蛋白质

B.冰川时期碳水化合物等其他可转化为能量的食物有限

C.尼安德特人的灭绝与巨型动物开始消亡发生在同一时期

D.冰川时期生活在其他地区的人类与尼安德特人身体差异不大

10.在一次运动会中，对四百米接力赛的人员选拔有如下要求：

（1）或者选拔肖光，或者选拔李航；

（2）如果选拔肖光，则不能选拔郑林；

（3）只有选拔郑林，才能选拔黄青；

（4）李航和黄青只能选拔一人。

由此可见，下列哪项正确体现了这次运动员选拔方案？（　　）

A.不选拔肖光，选拔黄青　　B.不选拔李航，选拔郑林

C.不选拔黄青，选拔李航　　D.不选拔郑林，选拔肖光

参考答案及解析

【答案】类比推理（一）

1.【答案】D。解析：“汗青”借指史册，D 项“桑梓”借指故乡。A 项“干戈”泛指武器，比喻战争，“玉帛”在古代与“干戈”相对，是和平共处的表征；B 项“狼烟”和“烽火”均借指战争；C 项古时重阳节有插茱萸或佩戴茱萸香囊的习俗，但“茱萸”并不借指重阳。故本题选 D。

2.【答案】B。解析：风雨是风霜雪雨中的两种，B 项酸辣是酸甜苦辣中的两种，且风和雨、酸和辣均为并列关系中的反对关系。D 项生和死为并列关系中的矛盾关系，排除。故本题选 B。

3.【答案】C。解析：共产党员和模范是交叉关系，有些共产党员是模范，有些模范是共产党员；C 项企业家和MBA是交叉关系，有些企业家是MBA（工商管理硕士），有些MBA是企业家。故本题选C。

4.【答案】C。解析：自驾游需要导航仪，广场舞需要音乐。B 项汽车是自驾游的交通工具，广场是跳广场舞的场所，前后关系不一致，排除。故本题选 C。

5.【答案】D。解析：超速是一种违章行为，可能引发车祸；D 项降息是一种宽松政策，可能引发通胀。A、B、C 三项均不符合题干关系，排除。故本题选 D。

6.【答案】D。解析：对限购保持观望的态度，D 项对挫折保持坚强的态度。A、B、C 三项不符合题干关系，均排除。故本题选 D。

7.【答案】B。解析：选项逐一代入。A 项，飞碟可以飞行，哪吒是神话人物，前后关系不一致，排除。B 项，飞碟存在于科幻故事中，风火轮存在于神话故事中，前后关系一致。C 项飞碟与科技的联系不如与科幻的联系紧密，排除。D 项，飞碟是外星人的交通工具，蒲松龄撰写神话故事，前后关系不一致，排除。故本题选 B。

8.【答案】C。解析：“赶尽杀绝”比喻残忍狠毒，不留余地，“斩草除根”比喻除去祸根，以免后患，二者为近义关系；C 项“风声鹤唳”形容惊慌失措，或自相惊忧，“草木皆兵”形容人在惊慌时疑神疑鬼，二者为近义关系。A 项“出类拔萃”指超出同类之上，“青出于蓝”比喻学生超过老师或后人胜过前人，二者不是近义关系，排除。B 项“空穴来风”比喻消息和谣言的传播不是完全没有原因的，也比喻流言乘机会传开来，“无中生有”比喻毫无事实，凭空捏造，二者不是近义关系，排除。D 项“耳熟能详”指听得多了，能够说得很清楚、很详细，“历历在目”指远方的景物看得清清楚楚，或过去的事情清清楚楚地重现在眼前，二者不是近义关系，排除。故本题选 C。

9.【答案】C。解析：股东的职责是监管企业，C 项军队的职责是保卫国家。D 项公众的职责不是服务专家。故本题选 C。

10.【答案】B。解析：纸浆是纸张的原材料，书籍由纸张制成；B 项生铁是钢水的原材料，钢材由钢水制成。故本题选 B。

【答案】类比推理（二）

1.【答案】A。解析：长安是西安的古称，A 项汴梁是开封的古称。B 项上都是元朝首都，位于今内蒙古自治区锡林郭勒盟正蓝旗草原。C 项洛阳是河南省一直沿用至今的市名；镐京在今西安市长安区，是西周王朝的国都。D 项金陵指南京。故本题选 A。

2.【答案】C。解析：投票和抽签是作出决策的两种方式，C 项劝说和争辩是使他人对某事表示同意的两种方式。A 项“联系”和“沟通”为近义关系，排除。B 项管理和服务无明显联系，排除。D 项推荐和号召也无明显联系，排除。故本题选 C。

3.【答案】D。解析：党员、干部、青年是交叉关系，D 项处长、教授、博士是交叉关系。A 项化合反应、氧化反应均属于化学反应；B 项是并列关系；C 项检察长、检察员均属于检察官。故本题选 D。

4.【答案】A。解析：论证需要依靠证据，没有证据就无法论证；A 项统治需要依靠权力，没有权力就无法统治。B 项决策不一定需要依靠民主，也存在独裁的决策。故本题选 A。

5.【答案】A。解析：贪小和失大为因果关系，A 项因噎和废食为因果关系。B、C、D 三项两个词语之间均不存在因果关系，排除。故本题选 A。

6.【答案】C。解析：单价乘以数量等于总额，C 项电流乘以电压等于功率。A 项质量除以密度等于体积，排除。B 项动能的大小等于物体质量与速度平方的乘积的二分之一（$mv^2/2$），排除。D 项周长不等于长度乘以宽度，排除。故本题选 C。

7.【答案】B。解析："坚定"和"犹豫不决"为反义关系，B 项"沉默"和"滔滔不绝"为反义关系。A 项"临危不惧"形容面对危险毫不畏惧，与"紧张"不是反义关系，排除。C 项"鸡犬不宁"形容骚扰得厉害，连鸡狗都不得安宁，与"安静"不是反义关系，排除。D 项"留恋"和"恋恋不舍"为近义关系，排除。故本题选 B。

8.【答案】C。解析：西施因其美貌造成"沉鱼"，左思因其才华出众造成"洛阳纸贵"。故本题选 C。

9.【答案】A。解析："桃红"和"柳绿"均为主谓结构，即桃花是红的，柳叶是绿的；A 项"天蓝"和"水碧"也均为主谓结构，即天是蓝的，水是碧绿的。故本题选 A。

10.【答案】A。解析："治理污染"和"攻读学业"均为动宾结构。C 项"清理"和"治理"、"学业"和"功课"虽能构成近义关系，但"治理"的范围比"清理"广，"学业"的范围比"功课"广，前后逻辑关系不一致，排除。故本题选 A。

【答案】类比推理（三）

1.【答案】D。解析：刑法和民法均属于法律，二者为并列关系中的反对关系；D 项红茶和绿茶均属于茶叶，二者为并列关系中的反对关系。A、B 项三个词语之间均为并列关系，排除。C 项男人和女人为并列关系中的矛盾关系，排除。故本题选 D。

2.【答案】C。解析：选项逐一代入。A 项，"心花怒放"形容一种心情，"一曝十寒"比喻学习或工作一时勤奋，一时又懒散，没有恒心，且"心情"是名词，"勤奋"是形容词，前后关系不一致，排除。B 项，"心花怒放"和"激动"、"妄自菲薄"和"勤奋"均无明显联系，排除。C 项，"心花怒放"形容高兴，"废寝忘食"形容勤奋，前后关系一致。D 项，"心花怒放"和"难受"、"指日可待"和"勤奋"均无明显联系，排除。故本题选 C。

3.【答案】D。解析：口罩和唇膏的作用对象均是嘴唇，均具有保护嘴唇的功能；D 项化肥和犁头的作用对象均是土壤，均具有改善土壤质量的功能。A、B 项显然与题干不符；C 项油纸是制作雨伞的材料之一，排除。故本题选 D。

4.【答案】A。解析：玉石经过雕琢成为玉器，A 项蚕丝经过织造成为丝绸，且雕琢和织造涉及的均是物理变化。B 项酿造和 C 项冶炼均涉及化学变化，D 项不是加工过程，均排除。故本题选 A。

5.【答案】B。解析："印花布"为具象名词，"印花税"为抽象名词；B 项"黄金矿"为具象名词，"黄金周"为抽象名词。A 项"迷魂汤"和"迷魂阵"均为抽象名词，C 项"热水瓶"和"热水袋"、D 项"方向舵"和"方向盘"均为具象名词，排除。故本题选 B。

6.【答案】B。解析：黄豆芽是黄豆长出来的，B 项山药蛋是山药长出来的。故本题选 B。

7.【答案】C。解析：木樨是桂花的别称，C 项菡萏是荷花的别称。A 项幽草指幽深地方的草丛，B 项黄花指菊花，D 项兰花和木兰是不同种植物。故本题选 C。

8.【答案】C。解析：钻石和石墨均由碳原子构成，C 项米饭和大米粥均由米粒构成。故本题选 C。

9.【答案】B。解析：生产是供给的前提，B 项立法是执法的前提。故本题选 B。

10.【答案】B。解析：超速会被交警处罚，B 项超载会被路政卸货，且超速和超载均属于道路交通违法行为，交警和路政均属于执法队伍。故本题选 B。

【答案】类比推理（四）

1.【答案】B。解析：海水中含有盐分，盐分过高会导致细胞脱水；B 项碳酸饮料中含有二氧化碳，二氧化碳过量会导致骨质疏松。故本题选 B。

2.【答案】D。解析：雷峰塔是西湖的标志性景点，西湖位于浙江；D 项迎客松是黄山的标志性景观，黄山位于安徽。故本题选 D。

3.【答案】C。解析："往事"和"旧闻"是近义关系，C 项"志向"和"抱负"是近义关系。A、B、D 三项两个词语之间均不是近义关系，排除。故本题选 C。

4.【答案】D。解析："相得益彰"和"相形见绌"为反义关系，D 项"相煎太急"和"相依为命"为反义关系。A 项"相敬如宾"形容夫妻互相尊敬，像对待宾客一样，"相见恨晚"形容一见如故，意气极其相投；B 项"相提并论"指把不同的人或不同的事放在一起谈论或看待，"相映成趣"指相互衬托着，显得很有趣味、很有意思；C 项"相辅相成"指两件事物互相配合，互相辅助，缺一不可，"相反相成"指相反的东西有同一性，均不是反义关系，排除。故本题选 D。

5.【答案】D。解析：鸽子代表和平，家犬代表忠诚，动物褒扬的象征寓意。A 项硕鼠不代表聪明，排除。故本题选 D。

6.【答案】C。解析："印刷图书"为动宾结构，且印刷是形成实体图书的必要步骤；C 项"书写文字"为动宾结构，且书写是形成实体文字的必要步骤。故本题选 C。

7.【答案】A。解析：站台、码头和停机坪均属于交通运输工具停靠的地方，功能相似，为并列关系；A 项现金、支票和银行卡均属于支付方式，功能相似，为并列关系。故本题选 A。

8.【答案】C。解析："无边落木"和"不尽长江"均为偏正结构，"无边"修饰"落木"，"不尽"修饰"长江"，且分别是诗句"无边落木萧萧下，不尽长江滚滚来"每句的前四个字。C 项"映阶碧草"和"隔叶黄鹂"均为偏正结构，"映阶"修饰"碧草"，"隔叶"修饰"黄鹂"，且分别是诗句"映阶碧草自春色，隔叶黄鹂空好音"每句的前四个字。A 项出自《沁园春·雪》中的"北国风光，千里冰封，万里雪飘"，与题干关系不符，排除；B 项均为主谓结构，排除；D 项均为并列结构，排除。故本题选 C。

9.【答案】D。解析：风媒花利用风进行授粉，D 项绿色植物利用阳光进行光合作用。A 项育苗是人的行为，B 项雨水和果树增产、C 项雪和小麦丰收均无必然联系，排除。故本题选 D。

10.【答案】D。解析：泥土经过煅烧，制成陶瓷，陶瓷为实物；D 项粮食经过发酵，制成白酒，白酒为实物。煅烧和发酵的过程均涉及化学变化。故本题选 D。

【答案】类比推理（五）

1.【答案】D。解析："云汉""天河"均指银河，D 项"启明""长庚"均指金星。C 项金乌指太阳（传说太阳中有三足乌鸦），排除。故本题选 D。

2.【答案】A。解析：碧螺春属于茶叶，原产于江苏；A 项大熊猫属于动物，原产于中国。B 项火锅不属于川菜，D 项木兰原产于我国中部，均排除。故本题选 A。

3.【答案】D。解析：青春痘和痤疮是全同关系，其特征是慢性；D 项芙蓉花和木莲是全同关系，其特征是喜光照。A 项直翅目为所属目，B 项赏灯猜谜是节日活动，C 项豆科草本是所属科，均不是特征，排除。故本题选 D。

4.【答案】A。解析：刷牙需要牙膏，A 项刺绣需要丝线。故本题选 A。

5.【答案】C。解析：地震必然造成损失，C 项燃煤必然造成污染，均为充分条件关系。A 项发生火灾需要消防灭火，B 项违法不必然构成犯罪，D 项开车不必然造成车祸，均排除。故本题选 C。

6.【答案】C。解析：先失误，经过提醒，然后改正，为顺承关系；C 项先取证，经过审理，然后判决，为顺承关系。故本题选 C。

7.【答案】C。解析：秋裤和棉袄分别为下、上衣，秋裤在内，棉袄在外；C 项内裤和羽绒服分别为下、上衣，内裤在内，羽绒服在外。故本题选 C。

8.【答案】B。解析："相敬如宾"和"举案齐眉"为近义关系，均形容夫妻相互尊敬；B 项"不劳而获"指自己不劳动却占有别人的劳动成果，"无功受禄"指没有功劳而得到报酬，两者为近义关系。D 项"因难见巧"指由于难而更显出技艺的巧妙，"因势利导"指顺着事情发展的趋势，加以引导，两者不是近义关系，排除。故本题选 B。

9.【答案】D。解析："休戚相关"和"唇齿相依"为近义关系，均形容关系密切；D 项"鞭辟入里"和"入木三分"为近义关系，均形容分析透彻、深刻。A 项二者为反义关系，排除。B 项"苦心孤诣"指苦心钻研，到了别人所达不到的地步，也指为寻求解决问题的办法而煞费苦心，而"苦口婆心"比喻善意而又耐心地劝导，二者不是近义关系，排除。C 项二者为反义关系，排除。故本题选 D。

10.【答案】B。解析："意兴阑珊"形容兴致已失的样子，与"兴致"互为反义关系；B 项"闷闷不乐"形容心事放不下，心里不快活，与"高兴"互为反义关系。A 项"彬彬有礼"形容有礼貌，与"礼貌"互为近义关系，排除。C 项"故意"和"吹毛求疵"、D 项"胆识"和"骁勇善战"均无明显联系，排除。故本题选 B。

【答案】类比推理（六）

1.【答案】B。解析：唐诗和宋词是两种古代文学形式，二者是并列关系；B 项汉赋和元曲也是两种古代文学形式，二者是并列关系。故本题选 B。

2.【答案】B。解析：花椒和生姜都是一种调料，二者为并列关系；B 项盆子和浴缸都是一种卫浴用品，二者为并列关系。D 项八角又称大茴香，属于茴香的一种。故本题选 B。

3.【答案】A。解析："胆战心惊"形容十分害怕；"侧目而视"指斜着眼睛看人，形容憎恨或又怕又愤恨。故本题选 A。

4.【答案】A。解析：人大和媒体具有监督的功能和责任，A项小学和中学具有教育的功能和责任。故本题选A。

5.【答案】A。解析：石灰石是石灰的原料，A 项啤酒花是啤酒的原料。B 项一般油灰是指桐油灰，其原料是桐油和石灰；C 项绢丝纺指用双股绢丝线织成的平纹绸，其原料是绢丝，但位置关系与题干相反；D 项山鸡椒是一种植物。故本题选 A。

6.【答案】C。解析：小麦是方便面的主要原材料，黄豆是千张结（一种豆制食品，用很薄的豆腐皮切成条状后，手工打个结，是中国家庭一种常见食品）的主要原材料。故本题选 C。

7.【答案】C。解析：选项逐一代入。A 项"炒油"（投资原油）和"开车"均为动宾结构，但前后词语顺序相反，排除。B 项"香"可形容油，"快"可形容车，但前后词语顺序也相反，排除。C 项，油在锅里，人在车里，前后关系一致。D 项，油和水常温下属于液体，马和车属于交通工具，均为并列关系，前后关系一致。比较 C、D 项，C 项词语间的联系相对密切，排除 D 项。故本题选 C。

8.【答案】C。解析：杂货店、百货公司、电子商城均属于购物的场所，且出现时间由远及近；C 项白炽灯、节能灯、LED 灯均属于灯，且出现时间由远及近。故本题选 C。

9.【答案】D。解析："不塞"和"不流"为条件关系，且"塞"与"流"对应，"不塞不流"指不把某一种东西堵塞住，另一种东西就不能流行、发展，比喻只有破除旧的、错误的东西，才能建立新

的、正确的东西；D 项“不止”和“不行”是条件关系，且“止”与“行”对应，“不止不行”也比喻只有破除旧的、错误的东西，才能建立新的、正确的东西。A 项“不蔓不枝”指既不蔓延也不分支，B 项“不伦不类”指既非这一类又非那一类，C 项“不折不扣”指没有折扣，前后两词不是条件关系，均排除。故本题选 D。

10.【答案】B。解析：公共政策需要公众参与制定，B 项国家治理需要社会协同推进，且中间词语均为主谓结构。故本题选 B。

【答案】类比推理（七）

1.【答案】D。解析：学生中除了男学生就是女学生，D 项词语中除了实词就是虚词。A 项顺时针和逆时针属于转动方向，而不是旋转；B 项整数除了正数、负数外还有零；C 项餐具除了盘子、筷子外还有碗、勺子等，均排除。故本题选 D。

2.【答案】A。解析：研究生包括硕士和博士两个阶段，且两个阶段存在先后顺序；A项青少年包括少年和青年两个阶段，且两个阶段存在先后顺序。故本题选A。

3.【答案】B。解析：《呐喊》是《鲁迅全集》的组成部分，B 项商店是王府井社区的组成部分。A 项物理即指物理学；C 项雷锋是一名解放军，为种属关系；D 项大兴安岭林场是出产木材的场所，均排除。故本题选 B。

4.【答案】A。解析：麦穗是小麦的组成部分，麦粒是麦穗的组成部分；A 项车轮是车子的组成部分，轮胎是车轮的组成部分。B 项围棋属于棋类，C 项学生不是教室的组成部分，D 项卧室属于房间，均排除。故本题选 A。

5.【答案】B。解析：通知书是入学的凭证，驾照是开车的凭证，前者是后者的必要条件。故本题选 B。

6.【答案】B。解析：纠纷得到调解才会带来和谐，B 项病毒得到消灭才会带来健康。故本题选 B。

7.【答案】A。解析：“差之毫厘，谬以千里”是说一点微小的误差，结果就会造成很大的错误，前后为因果关系；A 项“一着不慎，满盘皆输”是说下棋时一步棋走得不当，结果整盘棋输了，前后为因果关系。B 项“智者千虑，必有一失”指不管多聪明的人，在很多次的考虑中，也一定会出现个别错误；C 项“宁为鸡口，毋为牛后”比喻宁居小者之首，不为大者之后；D 项“以子之矛，攻子之盾”比喻拿对方的观点、方法或言论来反驳对方，前后均不是因果关系，排除。故本题选 A。

8.【答案】C。解析：“水滴”导致“石穿”，为因果关系；C 项“唇亡”导致“齿寒”，为因果关系。A 项“月黑风高”比喻没有月光风也很大的夜晚，B 项“风起云涌”指大风刮起，乌云涌现，D 项“绿肥红瘦”指绿叶茂盛，花渐凋谢，成语内部词语之间均不存在因果关系。故本题选 C。

9.【答案】A。解析：“诗仙”指李白，A 项“诗鬼”指李贺。B 项“诗魔”指白居易，C 项“诗圣”指杜甫，D 项“诗狂”指贺知章，均排除。故本题选 A。

10.【答案】D。解析：“望梅止渴”典故的主人公是曹操，D 项“东窗事发”典故的主人公是秦桧。A 项“鞠躬尽瘁”典故的主人公是诸葛亮，B 项“四面楚歌”典故的主人公是项羽，C 项“指鹿为马”典故的主人公是赵高，均排除。故本题选 D。

【答案】类比推理（八）

1.【答案】D。解析：字母是构成单词的基本单位，D 项细胞是构成生物体的基本单位。故本题选 D。

2.【答案】D。解析：树木是森林的组成部分，D 项零件是机器的组成部分。A 项云雾由小水滴等组成，而不是水蒸气，排除。故本题选 D。

3.【答案】C。解析：奏折是公文的一种形式，官吏写奏折；C 项绝句是诗歌的一种形式，诗人写绝

句。故本题选 C。

4.【答案】A。解析：想象思维能力属于认知能力，言语沟通能力属于社交能力。故本题选 A。

5.【答案】B。解析：人才创造出高科技通常需要创新，B 项作者创作出好文章通常需要灵感，且第二个词均为抽象概念。故本题选 B。

6.【答案】C。解析：竞争的结果可能是共赢，对双方都有利；C 项买卖的结果可能是互惠，对双方都有利。故本题选 C。

7.【答案】B。解析：长城和长江均是中国的标志，B 项金字塔和木乃伊均是埃及的标志。A 项白金汉宫位于英国而非美国，排除。C 项尼罗河流经非洲的东部和北部，苏伊士运河隶属埃及，与刚果均无明显联系，排除。D 项青瓦台位于韩国而非英国，排除。故本题选 B。

8.【答案】C。解析：天长市是安徽省的一个县级市，C 项义乌市是浙江省的一个县级市。A 项临汾市位于山西省，排除。B 项烟台市位于山东省，排除。D 项南通市是江苏省的一个地级市，排除。故本题选 C。

9.【答案】C。解析："低头思故乡"是李白的诗句，C 项"不肯过江东"是李清照的诗句。A 项"危楼高百尺"的作者是李白，B 项"野火烧不尽"的作者是白居易，D 项"白毛浮绿水"的作者是骆宾王，均排除。故本题选 C。

10.【答案】B。解析："点石成金"比喻修改文章时稍稍改动原来的文字，就使它变得很出色，"涉笔成趣"形容一动笔就画出或写出很有意趣的东西，二者为近义关系；B 项"集腋成裘"和"聚沙成塔"均比喻积少成多，二者为近义关系。A、C、D 三项中两个词语之间均不是近义关系，排除。故本题选 B。

【答案】定义判断（一）

1.【答案】C。解析："加害给付"的定义要点：①债务人的履行行为有瑕疵；②使债权人的其他利益受到损害。A 项家电质量不能正常使用，损害的是消费者本应获得的利益，即商场正确履行义务给消费者带来的利益，而不是"其他利益"，不符合②，排除。B、D 项与 A 项同理，不符合②，均排除。C 项"甲将患有禽流感的鸡苗卖给乙"符合①，"致使乙农场饲养的鸡鸭大量死亡"符合②，符合定义。故本题选 C。

2.【答案】A。解析："预付费陷阱"的定义要点：①商家以打折促销手段吸引顾客预付服务费用；②在后续服务中不能按照约定内容提供服务。A 项并未体现"打折促销手段"，而且是由于顾客自身原因导致无法上课，不符合①②，不符合定义。B、C、D 三项均符合定义，排除。故本题选 A。

3.【答案】B。解析："临时救助制度"的定义要点：①遭遇突发事件、意外伤害、重大疾病或其他特殊原因；②基本生活陷入困境；③应急性、过度性的救助。A 项员工是被恐怖主义组织绑架，不是"基本生活陷入困境"，不符合②，排除。B 项"某地发生地震"符合①，"对因灾生活困难的群众每人每天发放一定标准的补助金"符合②③，符合定义。C、D 项均未体现"遭遇突发事件、意外伤害、重大疾病或其他特殊原因"，不符合①，排除。故本题选 B。

4.【答案】C。解析："三权分立"的定义要点是"立法权、行政权和司法权相互独立、互相制衡"。A 项涉及三权相互独立，B 项涉及三权相互独立、互相制衡，D 项涉及三权互相制衡，符合要点，符合定义，排除。C 项唐代的三省六部制并未涉及司法权、立法权和行政权的独立，不符合要点，不属于三权分立思想。故本题选 C。

5.【答案】B。解析："学习迁移"的定义要点是"一种学习对另一种学习的影响"。B 项"照本宣科"形容讲课、发言等死板地按照课文、讲稿，没有发挥，不生动，未体现"一种学习对另一种学习的影响"，明显不符合要点，不属于学习迁移。A 项"触类旁通"指掌握了某一事物的知识或规律，进而推知同类事物的知识或规律，C 项"闻一知十"指听到一点就能理解很多，D 项"举一反三"比喻从一件事情类推而知道其他许多事情，均体现了能够将学到的某种知识应用到其他方面，即"一种学习对另

一种学习的影响”，符合要点，均排除。故本题选 B。

6.【答案】C。解析：“抱团养老”的定义要点是“一些老同事、老同学或老朋友主动结伴生活在一起”。A 项“出游”和 B 项“结识了不少与他有同样经历的老人”均不属于“结伴生活在一起”，不符合定义，排除。C 项孙先生与几个好友退休后一起在海南生活，符合要点，符合定义。D 项王某邀请老同学在自己家小住几日并不是“主动结伴生活在一起”，不符合定义，排除。故本题选 C。

7.【答案】A。解析：“社会工作”的定义要点：①专职的社会工作者或社会工作单位；②帮助社会上的贫困者、老弱者、身心残障者和其他不幸者，获得分析与解决问题的能力。A 项中国红十字会为非洲某国提供药品和帮助培养医务人员，符合①②，符合定义。B 项浙江省民政系统工作人员，C 项退休的张大妈，均不是专职的社会工作者或社会工作单位，不符合①，排除。D 项王某鼓励自己的妻子，不是在帮助社会上的人，不符合②，排除。故本题选 A。

8.【答案】C。解析：“增强现实技术”的定义要点：①通过电脑等科学技术；②将虚拟的信息应用到真实世界。A 项“某海底漫游系统”“通过交互体验设备”“与虚拟场景中的海洋生物互动”符合①②，符合定义。B 项“某游戏运动追踪器”“通过头盔显示器”“提供包括虚拟景观的视野”符合①②，符合定义。C 项用户处于艺术家设计的现实情境中，不涉及“虚拟的信息”，不符合②，不符合定义。D 项“通过无线技术接收手机数据”“将手机上的图像投射到眼睛上”符合①②，符合定义。故本题选 C。

9.【答案】D。解析：“文化震惊”的定义要点是“生活在某一文化中的人初次接触到另一文化模式”。只有 D 项“露西是中外交换生，第一次来到中国，对中国的传统礼节很不熟悉”体现了“生活在某一文化中的人初次接触到另一文化模式”，符合要点，属于文化震惊。A、B、C 三项均不符合要点，排除。故本题选 D。

10.【答案】C。解析：（1）贾某到药店购买安眠药是为了害死李老太而准备工具，属于犯罪预备。（2）老刘想杀死老李，但既没有为犯罪准备工具、创造条件，也没有着手实行犯罪，不符合题干任一定义。（3）某小偷已经着手实行犯罪，因发现老人是抗战老兵而放弃行窃，不是“由于犯罪分子意志以外的原因而未得逞”，而是自动中止犯罪，因此属于犯罪中止。综上，典型例证与定义存在对应关系的数目有 2 个。故本题选 C。

【答案】定义判断（二）

1.【答案】A。解析：“抢劫罪”的定义要点：①以非法占有为目的；②对他人人身采取暴力、暴力威胁或者其他方法；③强行获取公私财物。A 项王某是趁张某不备抢走其背包，未对张某的人身采取任何行为，不符合②，不符合定义。B、C、D 三项均符合定义。故本题选 A。

2.【答案】B。解析：“行政许可”的定义要点：①行政机关；②根据公民、法人或者其他组织提出的申请；③准予其从事特定活动。B 项“某市司法局”符合①，批准乙某递交的律师执业申请，准予其从事律师职业，符合②③，符合定义。A、C、D 三项均是行政机关对其他机关或者其直接管理的事业单位事项的审批，不属于行政许可。故本题选 B。

3.【答案】A。解析：“土地增值税”的定义要点：①转让国有土地使用权、地上的建筑物及其附着物，以转让取得包括货币收入、实物收入和其他收入为依据向国家缴纳税赋；②不包括以继承、赠予方式无偿转让房地产的行为。A 项老张转让土地给开发商，获得新家，符合①②，老张应缴纳土地增值税。B 项农业厅将老办公楼租给某企业不属于转让，不符合①，排除。C 项小王收到马某赠送的房子，D 项余明继承父亲的房产，均不符合②，排除。故本题选 A。

4.【答案】C。解析：“绿色推广”的定义要点是“直接向消费者宣传、推广产品绿色信息”。A 项是对危机事件的处理，B 项没有进行宣传、推广，均不符合要点，排除。C 项“塔菲克汽车环保行动月”说明是要通过活动向消费者宣传汽车的绿色信息，符合定义。D 项的活动是为了筹集善款，不符合要点，

排除。故本题选 C。

5.【答案】A。解析："同类群体影响力"的定义要点是"人们对他人（尤其是类似群体）的行为总会作出某种反应"，即人们会受他人行为的影响。A 项仅是某市的一项规定，未体现人们受他人行为的影响，不符合要点，不属于同类群体影响力。B 项某市政府对见义勇为者进行奖励后，该市见义勇为的情形增多，C 项小强在周围同学的带领下提高了学习的积极性，D 项"高校抄袭之风越演越烈"，均符合要点，排除。故本题选 A。

6.【答案】A。解析："内源性注意"的定义要点是"个体根据自己的目标或意图来分配注意、支配行为""主动注意"。A 项某家居装潢设计师收集素材的行为是"根据自己的目标或意图来分配注意、支配行为"，符合要点，符合定义。B、C、D 三项都是被动注意，且不是人们根据自己的目标或意图分配注意，不符合定义。故本题选 A。

7.【答案】C。解析："互助游"的定义要点：①有旅游意向的双方利用互联网等媒介中的人脉关系；②交换旅游资源。A项仅小张旅游，不存在"有旅游意向的双方"，也没有"交换旅游资源"，不符合①②，排除。B项两人仅是分摊支出，没有"交换旅游资源"，不符合②，排除。C项小刘在桂林旅游期间住在网友家，网友在北京旅游期间住在小刘家，符合①②，符合定义。D项小赵仅仅是邀请朋友到上海玩，未体现朋友"有旅游意向"，不符合①，排除。故本题选C。

8.【答案】D。解析："互惠法则"的定义要点是"采用相同或对等方式回报他人"。A、B、C 三项均不涉及"回报"，不符合定义；D 项"投桃报李"意思是他送给我桃儿，我以李子回赠他，比喻友好往来或互相赠送东西，符合定义。故本题选 D。

9.【答案】C。解析："海洋能"的定义要点是"以潮汐、波浪、温度差、盐度梯度、海流等形式存在于海洋之中"。A 项"利用海水的日夜温差"、B 项"利用海水盐度差"和 D 项"利用潮汐"均符合要点，符合定义；C 项"海面上气流"不是"存在于海洋之中"的，不符合定义。故本题选 C。

10.【答案】A。解析："体验式教学法"的定义要点是"引入、创造或创设与教学内容相适应的具体场景或氛围"。A 项学生并非在与教学内容（刑法）相适应的具体场景或氛围中，不符合定义；B、C、D 三项均符合定义。故本题选 A。

【答案】定义判断（三）

1.【答案】C。解析："物证"的定义要点是"以其外部特征、存在场所、物质属性证明案件真实情况"；"书证"的定义要点是"能够根据其表达的意思和记载的内容查明案件事实情况"。已知根据信件记载的通信对方的姓名和地址找到了犯罪分子，则信件是书证；字条的内容与案件无关，根据笔迹鉴定找到字条的书写人，是以字条的外部特征证明案件真实情况，则字条属于物证。故本题选 C。

2.【答案】B。解析："身份权"的定义要点是"只有当民事主体从事某种行为或因婚姻、家庭关系而取得某种身份时才能享有"。B 项"父母对未成年子女人身、财产方面管理和保护的权利"是因家庭关系取得某种身份时才能享有的，符合要点，符合定义。A、C、D 三项均是"基于人的存在而须臾不分的权利"，属于人格权。故本题选 B。

3.【答案】B。解析："转移性支出"的定义要点：①不要求获得相应物品和劳务；②目的是提高受益对象的购买力和实现社会财富在各个社会主体之间的重新公平分配。A 项的目的是"研发新一代战斗机"，D 项的目的是"满足客流量和货物吞吐量不断扩大的需求"，均不符合②，排除。B 项"向地震灾区拨付专项资金"不要求获得相应物品和劳务，且"用于受灾倒塌住房的重建"体现"提高受益对象的购买力和实现社会财富在各个社会主体之间的重新公平分配"的目的，符合①②，符合定义。C 项"发放三倍工资津贴"要求工作人员付出劳务，不符合①，排除。故本题选 B。

4.【答案】D。解析："青蛙效应"的定义要点是"一开始没有察觉或重视，到后面失去自我脱险的能力"。D 项"只要功夫深，铁棒磨成针"比喻只要有决心，肯下功夫，多么难的事也能成功，明显

不符合要点，不属于青蛙效应。A、B、C 三项均体现出一开始无意识到后面“失去自我脱险的能力”，符合要点，排除。故本题选 D。

5.【答案】C。解析：“职业基因”的定义要点是“职业方向与自己的某种气质相匹配”。A、B 项未体现“气质”，不符合定义，排除。C 项小丁开朗、活泼好动的性格与销售的职业相匹配，符合定义。D 项体现的是职业改变气质，而不是职业方向与气质相匹配，不符合定义，排除。故本题选 C。

6.【答案】B。解析：“同群效应”的定义要点：①个体的行为受周围与他具有相同或相似的地位、经历或背景的人的影响；②改变个体单独存在时可能采取的行为。A 项未体现“具有相同或相似的地位、经历或背景”，不符合①，排除。B 项符合①②，符合定义。C 项“张海迪等人”并不是小赵周围的人，不符合①，排除。D 项仅是观念的变化，不涉及行为的改变，不符合②，排除。故本题选 B。

7.【答案】A。解析：“网络集群行为”的定义要点：①一定数量的相对无组织的网民；②网络环境中或网络传播影响下；③群体性行为。A 项“网友们”符合①②，“发起‘69’圣战”符合③，符合定义。B 项“一名深圳网友”、C 项“学生”均不符合①，排除；D 项“线下不定期聚会”不符合②，排除。故本题选 A。

8.【答案】D。解析：“预期社会化”的定义要点是“学习的不是现在要扮演的角色，而是将来要扮演的角色”。A 项为出国读大学做准备，是正在做现在的角色需要做的事，不符合定义，排除。B 项小张已经为人母，“人母”并不是她将来要扮演的角色，不符合定义，排除。C 项老赵已处在“退休后”的角色中，并不是为将来要扮演的角色而学习，不符合定义，排除。D 项小明现在的角色是学生，厨师是他将来要扮演的角色，符合定义。故本题选 D。

9.【答案】B。解析：“感知综合障碍”的定义要点：①对一个客观存在的整体感知是正确的；②对该事物的个别属性，如大小、形状、颜色、空间距离等产生与该事物不相符合的感知。A 项属于幻觉，不符合①②；B 项张某对钟摆整体的感知是正确的，符合①，“觉得正在摆动着的钟摆停止了摆动”符合②，符合定义。C、D 项均不符合①。故本题选 B。

10.【答案】B。解析：“泛化”的定义要点是“同最初刺激事件相类似、相关联的事件，甚至同最初刺激事件不类似、无关联的事件”。A 项“风声鹤唳”形容惊慌失措，或自相惊忧，C 项“四面楚歌”比喻陷入四面受敌、孤立无援的境地，D 项“疑神疑鬼”形容非常多疑，均不存在“同最初刺激事件相类似、相关联的事件”或“同最初刺激事件不类似、无关联的事件”，不符合定义，均排除。B 项“惊弓之鸟”指被弓箭吓怕了的鸟不容易安定，比喻经过惊吓的人碰到一点动静就非常害怕，符合定义。故本题选 B。

【答案】定义判断（四）

1.【答案】A。解析：经济分析法学派认为法律的根本宗旨在于通过法律的参与使社会财富达到效益的极大化，一切法律问题归结起来都是经济问题。A 项“预期收益”“预期成本”都属于经济学概念，“预期收益大大超过其预期成本”是追求效益的极大化，同时也将犯罪分子实施犯罪行为这一法律问题视为经济问题，符合定义。B、D 项是将法律与社会联系起来，C 项是将法律与利益联系起来，均不符合定义。故本题选 A。

2.【答案】C。解析：“超越因果关系”的定义要点是“即使没有该侵害行为，同样的损害也会因为其他独立于该侵害行为的事由发生”。C 项林某若没有被王某打死，也不一定会因为空难而死，不符合要点，不符合定义。故本题选 C。

3.【答案】A。解析：“周期性行业”的定义要点是“行业的景气度与外部宏观经济环境高度正相关”。只有 A 项电力行业是国有垄断产业，行业的景气度与外部宏观经济环境高度正相关，符合定义。故本题选 A。

4.【答案】B。解析：“货币政策”的定义要点是“控制和调节货币数量、信贷规模和利率水平及稳

定币值”。A、C、D 三项分别是控制和调节信贷规模、利率水平和稳定币值的政策，符合定义；B 项不符合定义。故本题选 B。

5.【答案】D。解析：“职业认同感”的定义要点：①个体对其所从事的职业；②肯定性评价。A 项踢球不是小王从事的职业，不符合①，排除。B 项是他人对小刘工作的评价，不符合①，排除。C 项老师只是小魏准备从事的职业，而非正从事的职业，不符合①，排除。D 项符合①②，符合定义。故本题选 D。

6.【答案】D。解析：“例外管理”的定义要点：①最高管理层；②将日常发生的例行工作授权给下级管理人员处理；③自己主要去处理那些没有或者不能规范化的例外工作；④保留监督下级人员工作的权力。A、B、C 三项均未体现最高管理层对例行工作和例外工作的分配情况，不符合定义，排除。D 项“张某是一大学分管后勤工作的副校长”符合①，“管理那些管理后勤的人”符合②③④，符合定义。故本题选 D。

7.【答案】C。解析：“投射测验”的定义要点：①采用某种方法绕过受测者的心理防御；②在他们不防备的情况下探测其真实想法；③给受测者一些模糊刺激。A 项音乐课上让学生唱歌，不符合①②③，排除。B 项老板明确告知顾客该怎么做，不符合①②③，排除。C 项参加面试的考生的心理防御主要针对面试本身，考官故意将一些散乱的书堆在考场入口以观察考生的反应，符合①②，同时考生注意力主要集中在面试，书堆对于考生而言属于“模糊刺激”，符合③，符合定义。D 项落在办公桌上的钱包相对显眼，不符合③，排除。故本题选 C。

8.【答案】C。解析：“从众”的定义要点是“改变个人意见而与多数人取得一致思想和行为”。C 项小李没有改变个人意见，而是“说服多数与会者”，不符合要点，不符合定义。故本题选 C。

9.【答案】D。解析：“随意后注意”的定义要点：①在随意注意之后发生；②有一定的目的任务；③不需要意志努力。A 项看杂志时发现一幅插画并不带有目的任务，不符合②，排除。B 项射箭是需要作意志努力的，不符合③，排除。C 项小林听到声响后发现有两只小鸟停在了树上，并不带有目的任务，不符合②，排除。D 项“刚学开车时全神贯注”属于随意注意，“熟练后边开车边听广播”符合①②③。故本题选 D。

10.【答案】C。解析：“漂二代”的定义要点是“跟随父母漂泊”。A、B、D 三项均不符合“跟随父母漂泊”这一要点，排除。故本题选 C。

【答案】定义判断（五）

1.【答案】D。解析：“转继承”的定义要点：①继承人在继承开始后，遗产分割之前死亡；②转由他的合法继承人继承。A 项继承人小刚没有死亡，不符合①，排除。B 项仅仅是李爷爷决定由其大儿子继承遗产，继承还未开始，不符合①，排除。C 项张军暗害其父亲，不是其父亲的合法继承人，不符合②，排除。D 项陈某在接受了遗产后死亡，符合①，其子依法继承了她的那份遗产，符合②，符合定义。故本题选 D。

2.【答案】A。解析：“承诺”的定义要点是：①受要约人同意要约的意思表示；②对要约未作出实质性改变；③在要约确定的期限内作出并到达要约人。A 项“在其确定的期限内同意购买体育用品”符合①③，“要求修改要约中的原产地”符合②，符合定义。B 项“刘某未能如期答复”不符合③；C 项受要约人是乙，“丙得知后表示接受甲的要约”不符合①；D 项要约人是丙，“丁考虑后向戊表示同意甲的要约”不符合③，均排除。故本题选 A。

3.【答案】C。解析：“社会经济干旱”的定义要点“自然系统与人类社会经济系统中水资源供需不平衡造成的异常水分短缺现象”。A 项是“由于降水的长期短缺而造成某段时间内地表水或地下水收支不平衡”，属于水文干旱，排除。B 项不是由水资源供需不平衡造成的，不符合定义，排除。C 项“常年少雨”涉及自然系统，“某工业区”属于人类社会经济系统，“推行按时段浮动征收水费的方法”就是由

于“自然系统……造成的异常水分短缺”，符合定义。D 项是“由于土壤水分不足而造成作物体内水分亏缺，影响作物正常生长发育”，属于农业干旱，排除。故本题选 C。

4.【答案】A。解析：根据定义，需求变动=Ep×价格变动，则当 Ep＞1 时，价格的变化会引起需求量较大幅度的变化，A 项正确。当 Ep=1 时，需求变动=价格变动，即价格变动多少，需求量就变动多少，因此不可以尽可能提价销售，B 项错误。Ep 的大小反映了需求对价格变动的反应程度或敏感程度，不是“成本变动”，C 项错误。当某一商品需求对价格变动的敏感程度较低或不敏感时，该商品的 Ep＜1，即可能存在 Ep＜1 的商品，D 项错误。故本题选 A。

5.【答案】B。解析：“行政比例原则”的定义要点是“如果初始行政目标可能对相对人权益造成某种不利影响，应使这种不利影响限制在尽可能小的范围和限度内”。A、C、D 三项均未体现“使这种不利影响限制在尽可能小的范围和限度内”，不符合定义；B 项考虑到谭某的权益，只责令其拆除加盖的二层楼房，符合定义。故本题选 B。

6.【答案】B。解析：“污名化”的定义要点是“一个群体将人性的低劣强加在另一个群体之上并加以维持”。B 项没有“将人性的低劣强加在另一个群体之上”，不符合定义。A、C、D 三项均符合要点，符合定义，排除。故本题选 B。

7.【答案】D。解析：“维特效应”的定义要点：①成员共同存在某一种情绪（通常是负面的情绪）；②缺乏正确的应对手段和宣泄渠道；③有个体选择一种方式发泄；④其他个体就会倾向于模仿。A 项坚持长跑是正确的宣泄压力的渠道，不符合②，排除。B 项不符合①②③④，排除。C 项未体现“某一种情绪”“宣泄”等，不符合①②③，排除。D 项“工作压力过大”“小吴因无法承受压力而选择离职”“其他员工也纷纷产生离职的想法”，符合①②③④，符合定义。故本题选 D。

8.【答案】D。解析：“白日梦”的定义要点：①适度的意识状态的改变形式；②注意力不再诉诸对环境刺激的反应；③独处和放松休息时普遍的一种活动，在人们入睡前的短暂时刻里最多见。A 项“把自己想象成剧中的女主角”是对韩剧刺激的反应，不符合②；B 项睡觉做梦不符合③；C 项“精神分裂症”不符合①，均排除。D 项符合定义。故本题选 D。

9.【答案】B。解析：“生物节律”的定义要点是“根据外界环境的周期性变化来协调自身新陈代谢及各种生理过程”。B 项蜜蜂辨别方向不属于协调自身新陈代谢或生理过程，不符合定义。A、C、D 三项均符合定义。故本题选 B。

10.【答案】A。解析：“软新闻”的定义要点是“和人们的切身利益并无直接关系”。A 项属于名人轶事，与人们的切身利益无直接关系，符合定义。B、D 项都关乎民生，不符合定义；C 项属于国际政治问题，且与恐怖主义活动区的居民的切身利益有直接关系，不符合定义。故本题选 A。

【答案】定义判断（六）

1.【答案】B。解析：“行政强制执行”的定义要点：①不履行法律规定的义务或不履行行政机关作出的行政处理决定中规定的义务；②有关国家机关依法强制其履行义务或达到与履行义务相同状态。A 项“无理由拒不搬迁”符合①，当地人民政府“与有关部门配合拆除其房屋”符合②，符合定义，排除。B 项未体现“某公司”不履行义务，不符合①，不符合定义。C 项“保证与之相关的行政处罚决定得以执行”说明该企业不履行义务，符合①，“某市人民法院委托拍卖机构拍卖了一家小型企业的财产”符合②，符合定义。D 项“未按时足额缴纳社会保障费且逾期未改”符合①，该市社会保障部门“申请强制划拨银行存款”符合②，符合定义。故本题选 B。

2.【答案】B。解析：“资源民族主义”的定义要点：①基于国家对自然资源的合法管辖；②控制和支配资源以及市场干预；③实现为政治服务和国家特定发展等目标。A 项与石油资源国合作，不是基于国家对自然资源的合法管辖，不符合①，排除。B 项“某国加强了某稀有金属开矿许可”符合①②，“为外资企业投资设立高门槛”符合③，符合定义。C 项不涉及“自然资源”，不符合①②③，排除。D

项未体现对自然资源的控制和支配，也不涉及“市场干预”，不符合②，排除。故本题选 B。

3.【答案】B。解析：“多数人暴政”的定义要点是“与多数人利益不一致甚至是相对立的少数人利益遭到了忽视甚至侵害”。A 项“因媒体舆论压力放弃某大型石化项目”和 D 项“引发周边居民冲击被迫关闭”均未体现“少数人利益遭到了忽视甚至侵害”，不符合定义，排除。B 项“纳粹德国的立法机关通过歧视、驱逐、屠杀犹太人的法律”符合要点，符合定义。C 项是民众抗议活动，该事件本身不属于“多数人暴政”。故本题选 B。

4.【答案】B。解析：“狭义的行政管理”的定义要点是“各级国家行政机关”。A 项“居民委员会”、C 项“省委党校”和 D 项“律师协会”均不属于国家行政机关，不符合定义，均排除。故本题选 B。

5.【答案】A。解析：“卡瑞尔公式”的定义要点是“强迫自己面对最坏的情况，在精神上接受它”。A 项商人重新崛起，去面对一大笔债务，符合要点，符合定义。B 项 A 君并没有去面对最坏的情况，不符合定义，排除。C 项老太太总是心怀喜悦，不涉及“最坏的情况”，不符合定义，排除。D 项阿 Q 臆想小 D 是自己的儿子以自我安慰，并没有接受自己吃亏的事实，不符合定义，排除。故本题选 A。

6.【答案】B。解析：“硬新闻”的定义要点：①关系到国计民生以及人们切身利益；②包括党和国家的重大方针、政策的制定和改变、市场行情、疾病流行、天气变化、重大灾难事故等。A 项属于党和国家的方针政策，C、D 项也关系国计民生以及人们切身利益，均符合定义，排除。B 项没有关系到国计民生以及人们切身利益，不符合定义。故本题选 B。

7.【答案】C。解析：“归谬法”的定义要点：①为了反驳一个命题；②假设该命题成立，由此推出错误。A 项是根据命题进行推导，B、D 项均是证明命题成立，不符合定义。C 项为了反驳“人死后是有灵魂存在的”，假定“人死后是有灵魂存在的”，推出原命题错误，符合定义。故本题选 C。

8.【答案】D。解析：“权力商品化”的定义要点是“握有公权者以权力为筹码谋求获取自身经济利益”。D 项“利用自己的人脉”不符合要点，不符合定义。故本题选 D。

9.【答案】C。解析：“三段论推理”的定义要点是“由此引申出的特殊化陈述符合一般性原则的结论”。A 项由“骄兵必败”可推出胜利的一定不是骄兵，推理错误。B 项由“勇者无畏”可推出无畏的不一定是勇者，推理错误。C 项由“英雄难过美人关”可推出是英雄的一定难过美人关，符合要点，符合定义。D 项由“狭路相逢勇者胜”可推出胜利的不一定是勇者，推理错误。故本题选 C。

10.【答案】C。解析：“代理”的定义要点：①代理人依据被代理人的委托或法律规定以及人民法院或有关单位指定；②以被代理人的名义；③在代理权限内实施。A 项送信是老张的职务，并不是其“依据被代理人的委托或法律规定以及人民法院或有关单位指定”实施的，不符合定义，排除。B 项董事长“以公司的名义对外签约”，其身份是公司的法定代表人，而非代理人，不符合定义，排除。C 项符合要点，符合定义。D 项“以自己的名义”不符合②，不符合定义，排除。故本题选 C。

【答案】定义判断（七）

1.【答案】D。解析：“连续犯”的定义要点：①连续实施数个独立的犯罪行为；②触犯同一罪名。A 项仅实施了一个犯罪行为，不符合①，排除。B 项“将毒药分三次给乙服食”虽然存在数个行为，但这几个行为并非独立的，不符合①，排除。C 项甲入室盗窃和毁坏室内家具、门窗触犯的是不同罪名，不符合②，排除。D 项“甲分七次共贪污公款 60000 余元”符合①②，符合定义。故本题选 D。

2.【答案】C。解析：“不安抗辩权”的定义要点：①当事人互负债务；②有先后履行顺序；③先履行的一方有确切证据表明另一方丧失履行能力，有权中止合同履行的权利。A 项先履行的一方是甲公司，但乙公司并未丧失履行能力，不符合③，排除。B 项“约定某日双方同时交租金和交付房屋”不符合②，排除。C 项“某公司与当红歌星甲签订演出合同”符合①，“该公司应在规定日期预付演出劳务费 5 万元”符合②，该公司属于先履行的一方，甲因重病住院丧失履行能力，符合③，符合定义。D 项不存在哪一方“丧失履行能力”，不符合③。故本题选 C。

3.【答案】A。解析：“不作为犯罪”的定义要点：①行为人负有实施某种积极行为的特定的法律义务；②能够施行而不施行；③造成一定的法律后果。A 项张某对李某不负有救助的义务，且李某掉入一深井，张某不一定有能力施行救助，不符合①②，排除。B 项藏獒主人有义务阻止自己饲养的藏獒伤害他人，且有能力阻止，却任由其将小偷咬死，符合①②③。C 项母亲有义务且有能力喂养自己的女儿，却故意不喂奶将孩子饿死，符合①②③。D 项小李对邻居家的孩子负有保护其生命和健康的义务，有义务且有能力去寻找孩子，但没有寻找，最终孩子被野兽攻击身亡，符合①②③。故本题选 A。

4.【答案】A。解析：“商标平行进口”的定义要点：①某一特定产品的商标已获进口国知识产权法保护；②商标权所有人已在该国自己或授权他人制造或销售其商标权产品；③进口商未经商标所有人或商标独占被许可人许可；④擅自从国外进口该商标权产品到进口国销售。A项丙是“仿造该商标权产品”，即输入到A国的并不是“该商标权产品”，不符合④，不符合定义。B项A国的商标权人甲授权B国代理商乙制造、销售该商标权产品，符合①②，丙未经许可从B国将该商标权产品输入到A国，符合③④，符合定义。C项商标权人甲已在B国取得商标权并且制造、销售产品，符合①②，乙未经许可从A国将该商标产品输入到B国，符合③④，符合定义。D项商标权人甲在A国享有商标权并授权B国的乙为独占被许可人，符合①②，丙未经许可从C国购买该商标产品并输入到A国，符合③④，符合定义。故本题选A。

5.【答案】B。解析：“互补品”的定义要点是“一种商品的消费必须与另一种商品的消费相配套”；“普通互补品”的定义要点是“没有固定的同时使用的比例”；“完全互补品”的定义要点是“必须按照固定不变的比例同时被使用”。A 项薯条和汉堡可以分开消费，并不一定要同时使用，不是互补品，排除。B 项一个镜框必须搭配两个镜片使用，属于完全互补品。C 项毛笔和墨汁的使用没有固定比例，属于普通互补品。D 项数码相机不需要胶卷，两者不属于互补品，排除。故本题选 B。

6.【答案】C。解析：“PPP 运作模式”的定义要点是“由社会资本提供公共服务，政府依据公共服务绩效评价结果向社会资本支付相应对价”。C 项“给予该企业财政补贴”不符合要点，不符合定义。故本题选 C。

7.【答案】C。解析：“非程序化决策”的定义要点是“全新的、复杂的、无章可循的”“有各种各样的解决方案”。A、B、D 三项均是以前已经做过的、有章可循的决策，属于程序化决策；C 项公司的发展战略是全新的，有各种各样的解决方案，属于“非程序化决策”。故本题选 C。

8.【答案】B。解析：“揣摩”的定义要点是“对自身以外的人和事的推测、估量、判断”。A 项“知己知彼，百战不殆”意为如果对敌我双方的情况都能了解透彻，打起仗来百战都不会有危险，涉及自身，不符合定义，排除。B 项“凡事预则立，不预则废”意为不论做什么事，事先有准备，就能取得成功，不然就会失败，“预”指事先作好计划或准备，符合定义。C 项“仁者见仁，智者见智”比喻对同一个问题，不同的人从不同的立场或角度去看有不同的看法，与定义无关，排除。D 项“己所不欲，勿施于人”指自己不愿承受的事也不要强加在别人身上，涉及自身，不符合定义，排除。故本题选 B。

9.【答案】B。解析：“绝对反义词”可以表述为“不是甲，就是乙”。A 项“不是黑，就是白”，错误，还可能是其他色。B 项“不完整，就是残缺”，正确。C 项“不美丽，就是丑陋”，错误，可能还有普通。D 项“不优良，就是低劣”，错误，还可能是中等。故本题选 B。

10.【答案】D。解析：“次文化”的定义要点是“不占主导地位”“只是少数成员认同”。A、B、C 三项在当时特定的年代均是十分流行、为大众所接受的文化。只有 D 项的“火星文”只流行于少部分青年团体中，符合定义。故本题选 D。

【答案】定义判断（八）

1.【答案】C。解析：“重大误解”的定义要点：①行为人发生错误认识；②行为的后果与自己的意思相悖；③造成较大损失。A 项小张和 D 项老张均未发生错误认识，不符合①。B 项甲的行为并未造成较大损失，不符合③。C 项老李原意是低价出售复制品给藏友，却误将祖传的名人字画当成现代复制

品出售，符合①②，且显然会造成较大损失，符合③，符合定义。故本题选 C。

2.【答案】D。解析：“显失公平”的定义要点是“一方当事人利用优势或对方缺乏经验”“明显违反公平、等价有偿原则”。A、B 项属于公平交易，C 项不符合“利用优势或对方缺乏经验”，只有 D 项符合定义。故本题选 D。

3.【答案】B。解析：“功能价值”的定义要点：①满足自己基本需要；②商品物理属性。A项森林不是商品，不符合②。B项智能手机的各项功能均为商品物理属性，满足人们基本需求，符合①②，符合定义。C项月饼经过华丽包装成为中秋的“馈赠佳品”，因此上涨的价格部分属于在消费商品物理属性的同时，因商品内在的文化属性或个人因消费商品所带来的感受和体验而愿意多支付的价格部分，是观念价值。D项LV的包因代表高质量和高气质而价格高昂也属于观念价值。故本题选B。

4.【答案】C。解析：“老龄产业”的定义要点：①由老年消费市场需求增长带动；②满足老年人特殊需求的商品生产、销售和服务等。A 项面馆不符合①②。B 项小王的网店专门经营男士服装，不符合①②。C 项养护中心专门针对老年人且满足老年人特殊需求，符合①②。D 项保姆的工作主要是打理家务，不符合①②。故本题选 C。

5.【答案】B。解析：“社会协同治理”的定义要点是“政府主导、社会协同”。A、C、D 三项均只涉及政府部门，未体现“社会协同”，不符合定义。B 项“市政府整合社会资源”“在社区配备街道干部、民警、社工等人员”符合要点，其中“社工”的参与体现了“社会协同”，符合定义。故本题选 B。

6.【答案】D。解析：“威客”的定义要点：①通过互联网把自己的智慧、知识、能力、经验转化成实际收入的人；②解决科学、技术、工作、学习中的问题。A 项未体现“把自己的智慧、知识、能力、经验转化成实际收入”，不符合①。B 项“为心脑血管患者提供免费咨询的专业咨询”不符合①。C 项是企业，不是个人，不符合①。D 项“做远程辅导”符合②，“在某学校的网站上”“向他支付一定的报酬”符合①，符合定义。故本题选 D。

7.【答案】C。解析：“跨国文化管理”的定义要点是“对子公司所在国的文化采取包容的管理方法，在跨国文化条件下克服异质文化的冲突”。A 项本国员工和子公司所在国员工一起联欢，B 项去吃子公司所在国的小吃，D 项让子公司所在国员工给本国员工介绍当地的文化、习俗，均是对子公司所在国的文化的包容，同时通过参与、互动和交流克服异质文化的冲突，符合定义。C 项参与公司决策与文化关联性不大，并没有体现对文化的包容，不符合定义。故本题选 C。

8.【答案】D。解析：“虚假记忆综合症”的定义要点：①创伤经历的记忆；②这种记忆在客观上是虚假的；③在病人内心是非常逼真的。A 项甲被蛇咬的记忆、C 项丙自身痛苦的回忆都是真实的，不符合②。B 项结婚不属于创伤经历，且乙对自己结婚时情景的记忆是真实的，不符合①②。D 项丁内心强烈的肮脏感必然来源于创伤经历，但“肮脏”在客观上是虚假的，却在丁的内心很逼真，符合①②③，符合定义。故本题选 D。

9.【答案】B。解析：“客观唯心主义”的定义要点是“把客观精神看作世界的主宰和本原”。A、C、D 项都是以自我内心为中心，并不是客观存在，均排除。只有 B 项符合定义要点。故本题选 B。

10.【答案】D。解析：“外观设计”的定义要点：①以具体产品为依托；②以美感为核心；③适用于工业应用。A 项不符合①，B 项不符合③，C 项不符合②，均排除。D 项符合①②③。故本题选 D。

【答案】图形推理（一）

1.【答案】D。解析：题干各图形的笔画数依次为 2、3、2、3、（2），各选项的笔画数依次为 1、1、1、2，只有 D 项符合。故本题选 D。

2.【答案】B。解析：第一组图形中，各图形的封闭空间数依次为2、3、4。第二组图形遵循此规律，则问号处图形的封闭空间数应为3，只有B项符合。故本题选B。

3.【答案】D。解析：题干第一组图形中，每个图形中的黑白方块数量之比依次为 1:1、1:2、1:3，

第二组图形遵循此规律，前两个图形中的黑白方块数量之比依次为 1:1、1:2，则问号处图形中的黑白方块数量之比应为 1:3。观察选项，只有 D 项符合。故本题选 D。

4.【答案】C。解析：各图形均由一个多边形和一条穿过多边形的直线构成，①②⑤图形中的直线均不与图形的对称轴垂直，③④⑥图形中的直线均与图形的对称轴垂直。故本题选C。

5.【答案】D。解析：第一组各图形均由两个直角梯形组成，且前一个图形中的两个直角梯形相向平移，得到后一个图形。第二组第一个图形可看作由左右两个三角形和上下两条直线组成，则第一个图形中的两个三角形相向平移，得到第二个图形，问号处图形由第二个图形按相同规律得到，D 项符合规律。故本题选 D。

6.【答案】A。解析：题干第一列各图形均有 1 条横向对称轴，第二列各图形均有 1 条竖向对称轴，第三列前两个图形均有 1 条横向对称轴和 1 条竖向对称轴，则问号处图形应有 1 条横向对称轴和 1 条竖向对称轴。观察选项，只有 A 项符合。故本题选 A。

7.【答案】D。解析：各图形中箭头朝向逆时针依次旋转 45°，排除 B、C 项；各图形外边框纯曲线、纯直线交替，则问号处图形外边框应为纯直线，排除 A 项。故本题选 D。

8.【答案】D。解析：A 项，假设右面正确，则顶面应为含有两个阴影三角形的面，排除。B 项，顶面和正面图案必有一个错误，其中的阴影三角形不可能都与面的边缘重合，排除。C 项，假设正面正确，则右面图案应在底面上，排除。故本题选 D。

9.【答案】B。解析：各图形均由上下两个小图形组成，且前一个图形下方的小图形是后一个图形上方的小图形，B 项符合规律。故本题选 B。

10.【答案】C。解析：①③⑥图形中顺时针箭头多于逆时针箭头，②④⑤图形中顺时针箭头少于逆时针箭头。故本题选 C。

【答案】图形推理（二）

1.【答案】D。解析：各图形均由直线和曲线共同构成，且直线数均是曲线数的 2 倍，只有 D 项符合。故本题选 D。

2.【答案】B。解析：题干各图形封闭空间数依次为 3、4、5、6、7、（8），且各图形均包含 2 种形状的封闭空间。观察选项，只有 B 项符合。故本题选 B。

3.【答案】C。解析：各汉字中“丿”笔画的个数依次为 1、2、3、（4）、5，各选项“丿”笔画的个数依次为 2、2、4、6，C 项符合。故本题选 C。

4.【答案】B。解析：①③④图形中黑色元素位于边框上，②⑤⑥图形中黑色元素位于内部。故本题选 B。

5.【答案】D。解析：各图形中，上方的黑色小图形上下翻转，颜色变为白色，得到下方的白色小图形；上方的白色小图形其下方没有图形。观察选项，只有 D 项符合。故本题选 D。

6.【答案】B。解析：题干各图形均只有 1 条对称轴，排除 A 项；对称轴方向依次顺时针旋转 45°，则问号处图形应只有 1 条横向对称轴，排除 C、D 项。故本题选 B。

7.【答案】B。解析：各图形中时针和分针的夹角均为 90°，只有 B 项符合。故本题选 B。

8.【答案】D。解析：每一列最上面的图形由下面两个图形直接叠加形成，D 项符合规律。故本题选 D。

9.【答案】B。解析：A 项，黑色圆圈所在面与黑色方格所在面为相对面，不可能相邻，排除。C 项，与白色圆圈所在面相邻的两个空白面为相对面，不可能相邻，排除。D 项，假设顶面和右面正确，则左面的阴影方块应位于右上角和左下角，排除。故本题选 B。

10.【答案】D。解析：各图形交点数均为 5，只有 D 项符合。故本题选 D。

【答案】图形推理（三）

1.【答案】B。解析：各图形中横线数依次为 1、2、3、4、5、（6），各选项图形的横线数依次为 4、6、4、2，B 项符合。故本题选 B。

2.【答案】D。解析：各图形封闭空间数依次为 0、1、2、3、4、（5），排除 C 项；各图形均由直线和曲线共同构成，排除 A、B 项。故本题选 D。

3.【答案】A。解析：①③④图形均由两个面积相等的封闭空间组成，②⑤⑥图形均由两个面积不相等的封闭空间组成。故本题选 A。

4.【答案】D。解析：沿图1所示线条剖开可得A项；沿图2所示线条剖开可得B项；沿图3所示线条剖开可得C项。D项无法得出。故本题选D。

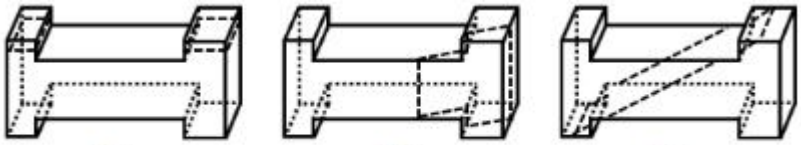

图1　　图2　　图3

5.【答案】B。解析：左上角图形顺时针依次旋转 90°，右上角图形依次上下翻转，左下角图形保持不变，右下角图形逆时针依次旋转 90°，B 项符合规律。故本题选 B。

6.【答案】B。解析：第一列均为中心对称图形，第二列均为轴对称图形，第三列既是中心对称图形也是轴对称图形，B 项符合。故本题选 B。

7.【答案】A。解析：A 项正确；B、C、D 三项，假设正面和右面正确，则顶面对角线方向均错误，排除。故本题选 A。

8.【答案】B。解析：第一组第一个图形中，两个小图形向中间水平移动，部分重叠得到第二个图形，继续水平移动直到完全重叠，得到第三个图形。第二组图形遵循此规律，则问号处应为 B 项图形。故本题选 B。

9.【答案】D。解析：题干各图形均为一个独立部分，且均为封闭图形。观察选项，只有 D 项符合。故本题选 D。

10.【答案】A。解析：第一行各图形均为一笔画图形，第二行均为两笔画图形，第三行均为三笔画图形，A 项符合。故本题选 A。

【答案】图形推理（四）

1.【答案】D。解析：第一组图形端点数均为 6，或者均为三笔画图形；第二组图形端点数应均为 4，或者均为两笔画图形，D 项符合。故本题选 D。

2.【答案】A。解析：第一个图形与第二个图形叠加去同存异，得到第三个图形；第二个图形与第三个图形叠加去同存异，得到第四个图形。因此，问号处图形应由第三个和第四个图形叠加并去同存异得到，A 项符合规律。故本题选 A。

3.【答案】D。解析：第一列图形封闭空间数分别为 1、3、4，第二列分别为 4、4、8，则每一列上面两个图形封闭空间数之和等于最下面图形的封闭空间数，第三列遵循此规律，则问号处图形的封闭空间数为 1+2=3，D 项符合。故本题选 D。

4.【答案】A。解析：①③⑤图形中，线条数均等于内部黑色圆圈的个数；②④⑥图形中，线条数均比内部黑色圆圈的个数多 2。故本题选 A。

5.【答案】D。解析：题干奇数项图形直线数比曲线数多 1，偶数项图形曲线数比直线数多 1，则问号处图形曲线数比直线数多 1，D 项符合。故本题选 D。

6.【答案】A。解析：各图形均为只有 1 条对称轴的轴对称图形，且对称轴逆时针依次旋转 45°，A 项符合规律。故本题选 A。

7.【答案】C。解析：将十六宫格分为内圈（4 个方格）和外圈（12 个方格），内圈阴影小方格依次顺时针移动 1 格，排除 A、D 项；外圈中相连的两个阴影小方格依次逆时针移动 1 格，第四行的阴影小方格依次向右移动 1 格，排除 B 项。故本题选 C。

8.【答案】D。解析：相邻两个图形均有且只有 1 个元素相同，D 项符合。故本题选 D。

9.【答案】C。解析：A 项是从正面观察得到的，B 项从顶面观察可能得到，D 项则是从左侧或右侧观察得到的。故本题选 C。

10.【答案】B。解析：题干有两种元素，且规律都是杂乱无章的，考虑将其中一种元素替换为另一种。若将 1 个□换成 2 个△，则各图形的△个数依次为 10、9、8、7，因此问号处应该等价于 6 个△，只有 B 项符合。故本题选 B。

【答案】图形推理（五）

1.【答案】D。解析：题干第一行各图形均只含有 1 条竖线，第二行均只含有 2 条竖线，第三行前两个图形均只含有 3 条竖线，则问号处图形也应只含有 3 条竖线。观察选项，只有 D 项符合。故本题选 D。

2.【答案】A。解析：题干各图形所含元素种类均为 2 个。观察选项，只有 A 项符合。故本题选 A。

3.【答案】B。解析：①②⑤图形中阴影小方格均以点相交，③④⑥图形中阴影小方格均以线相连。故本题选 B。

4.【答案】A。解析：A 项正确。B 项，假设左面正确，则右面图形应与 A 项相同，排除。C 项，左面和右面上的线条应无交点，排除。D 项，左面和右面上的 4 条线应交于一点，排除。故本题选 A。

5.【答案】A。解析：每一行前两个图形叠加，得到第三个图形，颜色叠加规律为：白+白=白，白+黑=黑，黑+白=黑，黑+黑=白。第三行按此规律，则问号处应为 A 项图形。故本题选 A。

6.【答案】B。解析：题干各图形既是轴对称图形，又是中心对称图形。观察选项，只有 B 项符合。故本题选 B。

7.【答案】B。解析：第一行均为纯直线图形，第二行均为纯曲线图形，第三行均为直曲混合图形，排除 A、C 项；各图形均为一个独立部分，排除 D 项。故本题选 B。

8.【答案】D。解析：题干各图形中两个箭头构成的图形依次逆时针旋转 90° 得到下一个图形，排除 A、B 项；各图形封闭空间数依次为 2、4、6，则问号处图形应有 8 个封闭空间，排除 C 项。故本题选 D。

9.【答案】D。解析：第一组图形中，4 个黑色直角三角形先各自上下翻转，再左右翻转；第二组图形中，4 个直角扇形也遵循此规律，则问号处应为 D 项图形。故本题选 D。

10.【答案】B。解析：相邻两个图形经过适当旋转，均能组合成一个矩形，B 项顺时针旋转 90° 后，能与第四个图形组合成矩形。故本题选 B。

【答案】图形推理（六）

1.【答案】D。解析：各图形中，每个小黑圆最多延伸出 2 条线，只有 D 项符合。故本题选 D。

2.【答案】A。解析：各图形均为轴对称图形，①②⑥图形的对称轴均与图形中的一条直线重合，③④⑤图形中的对称轴不与图形中的任何直线重合。故本题选 A。

3.【答案】C。解析：A 项，假设正面和顶面正确，则右面应为含有两条直线的面，排除。B 项，三个面上的三条对角线应交于一点，排除。C 项正确。D 项，正面图案与展开图不符，排除。故本题选 C。

4.【答案】C。解析：题干第一组图形中，第一列和第三列的阴影小方格依次向上移动 1 格，第二列和第四列依次向下移动 1 格，得到下一个图形。第二组图形遵循此规律，则问号处应为 C 项图形。故

本题选 C。

5.【答案】B。解析：各图形均不含封闭空间，只有 B 项符合。故本题选 B。

6.【答案】C。解析：题干第二个图形比第一个图形多 1 个○，第三个图形比第二个图形少 3 个○、多 1 个▲。考虑元素换算，若 1 个▲=4 个○，则各图形中○的个数依次为 10、11、12、？，因此问号处图形应等价于 13 个○。观察选项，只有 C 项符合。故本题选 C。

7.【答案】B。解析：题干前两行第三个图形的交点数等于前两个图形的交点数之和。第三行遵循此规律，前两个图形交点数分别为 2、6，则问号处图形应含有 8 个交点，B 项符合。故本题选 B。

8.【答案】D。解析：题干各图形均包含一上一下2个形状不同的封闭空间，只有D项符合。故本题选D。

9.【答案】B。解析：题干第一组前两个图形叠加，去同存异并保留圆形，得到的图形再逆时针旋转90°，得到第三个图形；第二组图形也遵循此规律，则问号处应为 B 项图形。故本题选 B。

10.【答案】A。解析：①④⑤图形中，两个小图形相交部分的形状均与两个小图形相同；②③⑥图形中，两个小图形相交部分的形状均与两个小图形不相同。故本题选 A。

【答案】图形推理（七）

1.【答案】C。解析：题干各图形中长度相同的线段数量依次为 2、3、4、5、？、7，则问号处图形中应含有 6 条长度相同的线段。观察选项，只有 C 项符合。故本题选 C。

2.【答案】B。解析：题干奇数项图形均需要两笔画成，偶数项图形均可一笔画成，则第五个图形也应需要两笔画成。观察选项，A、C、D 项均可一笔画成，只有 B 项需要两笔画成。故本题选 B。

3.【答案】D。解析：①④⑥图形中，圆形均在矩形内部；②③⑤图形中，圆形均在矩形外部。故本题选 D。

4.【答案】D。解析：A 项，假设顶面正确，则正面应为含有阴影正方形的一面，排除。B 项，假设正面和右面正确，则顶面阴影应位于左侧，排除。C 项，假设顶面正确，则正面和右面的阴影图案应互换，排除。D 项正确。故本题选 D。

5.【答案】C。解析：前一个图形其中一条线变化位置得到下一个图形，则问号处图形与前一个图形相比应有一条线的位置发生变化，C 项符合；验证后面一个图形，与 C 项相比也只有一条线发生了位置变化，符合规律。故本题选 C。

6.【答案】C。解析：奇数项图形均不含封闭空间，偶数项图形均含封闭空间，则问号处图形应含封闭空间，只有 C 项符合。故本题选 C。

7.【答案】B。解析：各图形两侧元素等价，即 1 个三角形相当于 2 个圆形，3 个圆形相当于 2 个正方形，3 个圆形相当于 1 个五角星，则 3 个三角形等价于 6 个圆形，等价于 4 个正方形，B 项符合。故本题选 B。

8.【答案】D。解析：各图形中“十”字交点个数依次为 2、3、4、5、（6），选项“十”字交点个数依次为 3、5、8、6，D 项符合。故本题选 D。

9.【答案】D。解析：第一组图形中，最大和最小的“[”顺时针依次旋转 90°，中等大小的“[”逆时针依次旋转 90°；第二组图形中，所有曲线均逆时针依次旋转 90°，D 项符合规律。故本题选 D。

10.【答案】B。解析：各图形中，上下两行的阴影方格数均相差 1 个，B 项符合。故本题选 B。

【答案】图形推理（八）

1.【答案】C。解析：题干各图形中竖线条数依次为 1、2、3、4、5、（6）。观察选项，只有 C 项符合。故本题选 C。

2.【答案】B。解析：题干各图形均只含有 2 条直线。观察选项，只有 B 项符合。故本题选 B。

3.【答案】B。解析：将②与③交换位置后，各图形的三角形个数依次为 1、2、3、4、5、6。故本题选 B。

4.【答案】D。解析：①④⑥图形均为两笔画图形，②③⑤图形均为一笔画图形。故本题选 D。

5.【答案】A。解析：将图形分为内层（靠近圆心一圈）和外层，内层从问号左侧开始逆时针依次为圆形、三角形、正方形、圆形、三角形、（正方形），排除 B、D 项；外层从问号左侧开始逆时针依次为圆形、三角形、圆形、正方形、圆形、三角形、圆形、正方形……则问号处逆时针依次应为圆形、正方形，排除 C 项。故本题选 A。

6.【答案】D。解析：第一组图形中，前两个图形叠加，重合部分变为白色，再旋转 180°，得到第三个图形；第二组图形也遵循此规律，则问号处应为 D 项图形。故本题选 D。

7.【答案】A。解析：A 项正确。B 项，假设顶面和右面正确，则正面应为空白面，排除。C 项，假设正面和右面正确，则顶面对角线应从该面的左下角连接到右上角，排除。D 项，假设正面正确，则顶面应为阴影面，排除。故本题选 A。

8.【答案】D。解析：题干各图形中，横线下方的 1 个元素等价于横线上方的 2 个元素，将下方元素都替换成上方元素后，横线上方的元素个数均为 10。观察选项，A 项等价于 8 个元素，B 项为 7 个，C 项为 11 个，D 项为 10 个。故本题选 D。

9.【答案】B。解析：题干每列上面两个图形叠加，得到最下面的图形，颜色叠加规律为：白+白=黑，白+黑=白。第三列也遵循此规律，则问号处应为 B 项图形。故本题选 B。

10.【答案】A。解析：第一个图形中，正方形内部右侧斜线依次逆时针旋转 90°，左侧斜线依次顺时针旋转 45°，得到后一个图形，则问号处应为 A 项图形。故本题选 A。

【答案】逻辑判断（一）

1.【答案】A。解析：题干论述：人体氧化的罪魁祸首是氧自由基。论据：氧自由基携带的不成对电子很容易引起化学反应，损害DNA、蛋白质和脂质等重要生物分子，进而影响细胞膜转运过程，使各组织、器官的功能受损，导致机体老化。A项指出氧自由基可增强机体抗感染及免疫能力，与人体氧化的成因无关，不能支持题干论述。B、C、D项均能证明氧自由基是影响人体氧化的因素，支持题干论述，排除。故本题选A。

2.【答案】A。解析：题干情况：美国人口是德国的很多倍，但现在在德国被诊断为疯狂压抑症首次收容住院的人比美国因此收容住院的人多 8 倍。A 项说明在德国“疯狂压抑症”所指的范围比美国广，因此尽管人口较少，但被诊断为疯狂压抑症首次收容住院的人还是比美国多，最能解释题干情况。B 项不能解释为什么在美国被诊断为疯狂压抑症首次收容住院的人较少，排除。C 项属于无关项，排除。D 项说明现在在美国，寻求专业人员的帮助解决精神健康问题不再被视为社会耻辱，也不能解释，排除。故本题选 A。

3.【答案】B。解析：Ⅰ“部门中有男性工作人员”（即“部门中有的工作人员是男性”）和Ⅱ“部门中有女性工作人员”（即“部门中有的工作人员不是男性”）为下反对关系，可以同真，但不能同假。由题干“3 个表述只有一个是真的”可知Ⅲ“部门主管不是女性”为假，则部门主管是女性。由此可知Ⅱ为真，则Ⅰ为假，即“部门中有男性工作人员”为假，可推出部门中都是女性工作人员，B 项正确。故本题选 B。

4.【答案】D。解析：论点：“春捂秋冻”能提高人体的抵抗力。论据：春天慢慢地减衣服是不降低机体的抵抗力，而秋天慢慢地增加衣服，就是提高机体的抵抗力。A 项在穿衣服和人的抵抗力之间建立联系，加强了论证，排除。B、C 项均属于无关项，排除。D 项说明秋天气温下降而不添加衣物会增加得病的风险，不能提高人体的抵抗力，质疑论据，削弱论点。故本题选 D。

5.【答案】B。解析：根据题干可知“市中医院没有安排在第二天→脑科医院安排在第一天”。由“人民医院不能安排在第一天，脑科医院和人民医院同时义诊”，可知脑科医院不会安排在第一天。假设脑科医院和人民医院安排在第二天，则由“每天安排 2 家医院”可知市中医院没有安排在第二天，则脑科医院安排在第一天，与题意矛盾，因此脑科医院只能安排在第三天。故本题选 B。

6.【答案】C。解析：题干可翻译为：①制度不公∨失效→引发更多的社会伤害行为；②制度不公∨失效→强势者可能伤害弱势者∧弱势者可能伤害强势者∧弱势者可能伤害其他弱势者；③制度不公∨失效→给日常生活带来不安与不快。A项“强势者伤害弱势者”肯定②的后件，不能推出肯定前件，排除。B项“就会伤害”与②“可能伤害”不符，排除。C项“防止引发更多的社会伤害行为”否定①的后件，可推出否定前件，即“制度公正∧有效”，正确。D项“制度公正∧有效”否定③的前件，不能推出否定后件，排除。故本题选C。

7.【答案】D。解析：题干论点：在开发针对成人的药物和疫苗时，野生鼠或许更适合作为动物模型。论据：实验鼠因为生长环境太干净，导致免疫系统不够强大，在许多方面与成人的免疫系统并不匹配，因而不是最好的动物模型。A 项说明目前实验鼠在免疫系统方面的劣势难以改变，B 项说明小鼠生长环境太干净会导致免疫系统与成人差距很大，C 项说明实验鼠的免疫系统不如野生鼠，均能够支持论点，排除。D 项指出“不易找到初始身体状况相同的野生鼠”，则使用野生鼠作为动物模型的可行性低，不能支持论点。故本题选 D。

8.【答案】D。解析：题干未提及“数字记忆力”和“投入自身的资源”的关系，A 项不能推出。题干说的是“如果能够保持持续工作的话，即使低教育背景的中年人也能通过应对社会和工作所积累的经验和技能来保持活力”，B 项忽略了“应对社会和工作所积累的经验和技能”这一条件，不能推出。根据题干，也可能存在除学习和工作外的其他原因使中年人保持生理和心理年轻，C 项不能推出。由“起到关键作用的是一个人的受教育程度”“受教育程度越高，越有能力投入更多的资源在自己身上”可推出 D 项。故本题选 D。

9.【答案】A。解析：四个选项均能对该县推广养殖良种牛计划的可行性提出质疑，但只有 A 项“该良种牛不适应当地气候”是人为难以改变的，最能质疑。故本题选 A。

10.【答案】D。解析：人造假肢的实用价值在于“产生各种不同的逼真触觉”，因此其具有实用价值的前提是要推断出患者在不同情形下应当产生哪些相应的感觉。故本题选 D。

【答案】逻辑判断（二）

1.【答案】C。解析：论点：果蝇的同性恋行为不仅受遗传因素影响，社会因素也发挥了很大的促进作用。论据：研究人员利用 w 基因发挥作用的雄性果蝇进行了实验。A 项讲的是雄性果蝇向雌性果蝇求爱的情况，与论点所讲的“同性恋行为”无关，不能支持，排除。B 项指出集体饲养抑制了果蝇的同性恋行为，即社会因素没有促进作用，削弱论点，排除。C 项说明集体饲养促进了果蝇的同性恋行为，最能支持论点。D 项与 A 项同理，也属于无关项，排除。故本题选 C。

2.【答案】D。解析：论点：该城市 2008 年犯罪率降低归功于 2008 年年初开始在该城市实施的革新警察计划。A 项支持论点，排除。B 项排除他因，也支持论点，排除。C 项讲的是“犯罪数”，与论点所讲的“犯罪率”不同，不能削弱论点，排除。D 项指出 2008 年该城市中最易犯罪年龄段的人数比例大幅降低，属于他因削弱。故本题选 D。

3.【答案】D。解析：题干现象：很多人通过运动、节食减肥好一段时间了，但是仍然看不到效果。A 项讲的是减肥速度，无法解释减肥好一段时间看不到效果的现象，排除。B、C 项均属于无关项，排除。D 项说明人体重下降时会多吃，因此减肥好一段时间也看不到效果，最能解释题干现象。故本题选 D。

4.【答案】D。解析：假设王五说真话，则张三、李四都说谎，由张三说谎可知李四说真话，前后矛盾，假设不成立，因此王五说谎。由王五说谎可知李四说真话，则张三说谎。故本题选 D。

5.【答案】A。解析：根据“甲比乙年纪小”“甲比他的伙伴年纪大”，可知甲＜乙，且甲和乙是对手关系，排除 B、D 项。假设甲与丙是伙伴，根据“丙比他的两个对手年龄都大”“甲比他的伙伴年纪大”，可知甲＞丙＞乙、丁，不符合甲＜乙，则甲与丁是伙伴关系，乙与丙是伙伴关系，因此丙＞甲＞丁。由“乙与甲的年龄差距比丙与丁的年龄差距更大”可知乙＞丙。综上，4 名运动员的年龄从大到小的顺序为乙＞丙＞甲＞丁。故本题选 A。

6.【答案】C。解析：由②“小李曾经主动邀请小赵进行面试练习，但是小赵没有主动邀请其他人进行面试练习”可知 A、D 项错误，均排除。题干仅提及学员间互相邀请的情况，邀请过不代表两人进行过面试练习，B 项不能推出，排除。③可翻译为“¬被组内学员邀请过进行面试练习→¬主动邀请其他人进行面试练习”，①“小王主动邀请过组内所有人进行面试练习”否定③的后件，可推出否定前件，即小王被组内学员邀请过进行面试练习，C 项正确。故本题选 C。

7.【答案】C。解析：论点：没有办法来阻止这些化学物质进一步破坏臭氧层。论据：已经生产出的大量的这种化学物质已经作为制冷剂存在于数百万台冰箱中，一旦它们到达大气中的臭氧层，它们引起的反应无法被停止。A 项能否准确测出这些化学物质的数量与能否阻止其进一步破坏臭氧层的关联不大，排除。B 项仅说明人们有必要使用冰箱，D 项冰箱制冷剂可以循环使用，均属于无关项，排除。C 项指出即使人们放弃使用冰箱也没有办法阻止这些化学物质破坏臭氧层，最能加强论点。故本题选 C。

8.【答案】B。解析：论点：“税价联动”会使香烟价格随着税率的提高而提高，购买香烟的人会因此减少。A 项讲的是“产量”，与论点所讲的购买香烟的人数无关，不能削弱论点，排除。B 项说明价格提高对人们购买香烟的影响很小，最能削弱论点。C 项属于无关项，排除。D 项“私烟泛滥”不能说明购买香烟人数的变化，不能削弱论点，排除。故本题选 B。

9.【答案】A。解析：根据题干可知，女性的保费较低，则男性的保费相对高些，同时，25 岁以下的年轻人保费较高，出过交通事故的车主保费较高，爱开红色跑车的人保费高。综上，有过交通事故的红色跑车的 18 岁男性车主所交的保费高，A 项最有可能推出。由女性的保费较低可排除 B 项。新车的保费高低无法确定，排除 C 项。奔放活泼只是保费较高的一个因素，而 A 项涉及的因素更多，排除 D 项。故本题选 A。

10.【答案】D。解析：由（2）可知要推出“小李是工人”，需要否定“小王是工人”，即小王不是工人。要推出“小王不是工人”，需要否定（1）的后件，即“小张是医生”。要推出“小张是医生”，需要否定（3）的后件，即“小赵是学生”。由（4）可知要推出“小赵是学生”，需要否定“小周不是经理”，即小周是经理。故本题选 D。

【答案】逻辑判断（三）

1.【答案】D。解析：论点：应当把摄像机移出法庭，免得公众把法律体系当成情景喜剧的脚本。论据：人们在电视中收看庭审不是因为他们关心国家有效推行司法制度运行的能力，而是为了追求娱乐性，想看到目击证人作证的戏剧性效果。A 项未说明是否应当把摄像机移出法庭，不能支持论证，排除。B、C 项虽能在一定程度上说明应当把摄像机移出法庭，但与“公众把法律体系当成情景喜剧的脚本”无关，均排除。D 项说明人们在电视中收看庭审是为了追求证人作证的戏剧性效果和娱乐性，因此应当把摄像机移出法庭，最能支持论证。故本题选 D。

2.【答案】A。解析：题干论点：如果人类基因组编写计划成功实现，就有可能造出没有生物学意义上父母的人，从而挑战“人的定义”这个最根本的哲学问题。A 项为论点成立的必要条件，如果人指的不是存在生物学意义上父母的人，那么，即使有可能造出没有生物学意义上父母的人，也无法挑战“人的定义”这个最根本的哲学问题。B、C、D 三项均为无关项。故本题选 A。

3.【答案】B。解析：假设乙猜对了，则甲、丙、丁都猜错了，由此可知甲的成绩≥90 分，丙的成绩≥90 分，丁的成绩≥80 分，乙的成绩＜60 分，则 B 项与此矛盾，不能支持乙猜对了。故本题选 B。

4.【答案】D。解析：论点：小王的销售技巧比小刘好。论据：小王的销售业绩总比小刘的销售业绩好。A、B 项均说明小王的销售业绩比小刘好另有他因，均能削弱论点。C 项指出“小刘销售的产品的销量一直很低”，说明该产品销量与销售者自身因素（包括销售技巧）关系不大，能够削弱论点。D 项指出小王每天销售的时间比小刘少，但其业绩反而更好，不能削弱论点。故本题选 D。

5.【答案】B。解析：题干相关信息可翻译为：①单身∧博士→住在南湖公寓；②有车的男性员工→住在滨江区。已知王英住在南湾小区，否定①的后件，可推出否定前件，即“¬单身∨¬博士”，而王英是博士，否定选言命题的一个选言肢，可推出肯定另一个选言肢，即王英不是单身，B 项正确。王英住在滨江区肯定②的后件，不能推出必然性结论，排除 A 项。C、D 项均无法推出。故本题选 B。

6.【答案】A。解析：题干信息可翻译为：①年营业额超过 500 万元→职员可获得优秀奖；②职员获得激励奖→年营业额超过 400 万元。同时，根据题干可知，12 个分公司中，③年营业额要么超过 1000 万元，要么不足 400 万元。Ⅰ“获得激励奖”肯定②的前件，可推出肯定后件，即“年营业额超过 400 万元”，否定③的一个选言肢，则可推出肯定另一个选言肢，即“年营业额超过 1000 万元”，肯定①的前件，可推出肯定后件，即“职员可获得优秀奖”，Ⅰ正确。Ⅱ“获得优秀奖”肯定①的后件，不能推出必然性结论。由“12 个分公司中，6 个年营业额超过了 1000 万元”，可知有 6 个分公司的职员能获得优秀奖，但 6 个分公司的职员是否占全体职员的半数未知，Ⅲ不能推出。故本题选 A。

7.【答案】D。解析：论点：这种技术可以让海水变成饮用水，从而彻底改变世界各地的缺水问题。论据：可以通过精确控制石墨烯膜中的孔径，从咸水中过滤出普通的盐，从而保证饮用的安全性。A 项讲的是“石墨烯氧化物膜”的“气体分离”，与题干所讲的“石墨烯膜”和“从咸水中过滤出普通的盐”无关，排除。B 项也属于无关项，排除。C 项与“改变世界各地的缺水问题”无关，不能支持论证，排除。D 项指出石墨烯膜可以实现大规模工业生产，从而彻底改变世界各地的缺水问题，是论点成立的前提，最能支持论证。故本题选 D。

8.【答案】D。解析：论点：肥胖可能会引起脑萎缩和记忆衰退。A 项指出脂肪造成了小鼠的脑部炎症，导致认知障碍，支持论点，排除。B 项指出“肥胖与因年龄增长而造成的大脑退化有密切关系”，但未说明肥胖是否引起大脑退化，不能质疑论点，排除。C 项指出腹部脂肪含量较高的中年人，其大脑中负责学习和记忆的海马体的容量较小，但未说明海马体容量与记忆衰退的关系，不能质疑论点，排除。D 项指出“记忆缺陷会引起体重增长”，说明论点因果倒置，最能质疑论点。故本题选 D。

9.【答案】A。解析：A 项正确，由“未成年人首次‘触网’的年龄也呈现低龄化趋势”可知我国对未成年人准入网络的标准尚未明确和完善，即对网络的管理有待提升。B 项网络媒介的使用对未成年人成长的影响、D 项“使用应该限制”题干并未提及，均排除。C 项“必然趋势”无从体现，排除。故本题选 A。

10.【答案】A。解析：航运和地面交通的危险程度的比较应通过事故率、死亡率等相对指标来比较，题干仅给出两者的死亡人数，还缺少两者的乘坐人数，排除 C、D 项。比较 A、B 项，显然全世界范围比我国范围内的数据更能评价题干论证的正确性。故本题选 A。

【答案】逻辑判断（四）

1.【答案】D。解析：题干仅提及“工作狂中也有更多的注意力缺失及多动症和强迫症患者”，不能推出“注意力缺失的人大部分是工作狂”，排除 A 项。题干仅提及工作狂中有部分人经常被焦虑症困扰，无法得知不是工作狂的人的情况，排除 B 项。题干未提及“强迫症患者”与“保持工作生活平衡”的关系，排除 C 项。由“经常被焦虑症困扰的比例高达 34%，是那些总体上能保持工作生活平衡的人的 3 倍”可推出不能保持工作生活平衡的人更容易得焦虑症，D 项正确。故本题选 D。

2.【答案】D。解析：题干断定为假，即“¬（对所有农产品都进行了检测∧¬发现有农药残留超标的产品）”。“¬（p∧q）”等价于“¬p∨¬q”，因此“¬（对所有农产品都进行了检测∧¬发现

有农药残留超标的产品）”等价于“¬对所有农产品都进行了检测∨发现有农药残留超标的产品”，“¬对所有农产品都进行了检测”即有的农产品尚未经过检测，Ⅱ正确。同时，“¬对所有农产品都进行了检测∨发现有农药残留超标的产品”又等价于“对所有农产品都进行了检测→发现有农药残留超标的产品”，Ⅲ正确。Ⅰ的真假无法确定。故本题选 D。

3.【答案】A。解析：题干论点：面对城市车流带来的大量污染物排放和空气污染加剧问题，环保部门在这方面很难真正采取有效的措施。论据：油品质量标准由石化行业制定，环保部门并无相关油品质量监管权。论点和论据之间无直接联系，需在“污染物排放”和“油品质量”之间“搭桥”，A项符合条件。故本题选A。

4.【答案】A。解析：本题突破口在于甲的回答，无论甲是农民还是小偷，其回答都是“我是农民”。据此可知乙说真话，丙说假话，即乙是农民，丙是小偷。故本题选 A。

5.【答案】C。解析：题干逻辑结构：P→Q，Q→P。A 项：P→Q，¬P→¬Q，与题干不符，排除；B 项属于可能性推理，与题干不符，排除；C 项：P→Q，Q→P，与题干相符；D 项：P→Q，P→Q，与题干不符，排除。故本题选 C。

6.【答案】B。解析：专家观点：我国离婚率上升的原因不能简单解释为社会风气不好，一方面与原来整体离婚率水平比较低有关，另一方面也与中国社会方方面面的变化以及舆论环境、社会观念变化有关。A 项离婚者中年轻人占比越来越大不能说明离婚率上升的原因，不能支持；B 项说明我国离婚率上升的主要原因是社会观念的变化，因此不能简单解释为社会风气不好，最能支持专家观点；C 项属于无关项；D 项支持力度不及 B 项。故本题选 B。

7.【答案】B。解析：论点：冬季是最佳进补的季节。论据：民间有“三九补一冬，来年无病痛”和“冬令进补，开春打虎”等说法。A 项讲“应根据情况选用对应的补药”，与在什么季节进补无关，不能削弱论点，排除。B 项说明民间有“三九补一冬，来年无病痛”和“冬令进补，开春打虎”等说法是因为过去冬天保暖措施不佳且人多数营养不良，而现在情况不同，因此不能根据这些民间说法推出冬季是最佳进补的季节，最能削弱论点。C 项也与在什么季节进补无关，不能削弱论点，排除。D 项“补充水分或多吃水果”不等同于“进补”，也属于无关项，排除。故本题选 B。

8.【答案】A。解析：A 项如果为真，即福耀集团的所有管理人员都是有工科背景的大学毕业生，根据“福耀集团的管理人员有的获得了 MBA 学位”，可以推出“有些工科背景的大学毕业生获得了 MBA 学位”。B 项不能保证题干论证成立。C、D 项可根据三段论“前提之一为否定时，结论必然是否定的”予以排除。故本题选 A。

9.【答案】D。解析：论点：生产化妆品是没有风险的。论据：每一种新产品的面世都能带来一股购买的热潮，并拥有一大群顾客，即化妆品需求量大。A 项“一些”削弱力度较小，排除。B 项“不断有老产品被淘汰”并不影响新产品的需求量，不能削弱论证，排除。C 项支持论证，排除。D 项指出人们对化妆品的需求量有限，削弱论据，说明生产化妆品不可能没有风险，最能削弱论证。故本题选 D。

10.【答案】A。解析：论点：电子版文学名著的问世，会改变大众的阅读品味，有利于造就高素质读者群体。A 项说明电子版文学名著的问世并不会改变大众的阅读品味，有兴趣读书的还是会读，没兴趣的还是不会读，最能削弱论点；B 项属于无关项；C 项部分读者的情况对论点的削弱力度较小；D 项收费与否与论点无关。故本题选 A。

【答案】逻辑判断（五）

1.【答案】C。解析：论点：小头睡鲨的年龄是可以通过其眼睛来测定的。论据：有其他人在研究鲸鱼年龄时用到了眼睛。A 项支持论据，但无法说明小头睡鲨的年龄也能通过晶状体核测定，排除。B 项不能说明眼睛晶状体和年龄的关系，不能支持论点，排除。C 项指出眼睛晶状体会随年龄增长而生长，则小头睡鲨的年龄可以通过其眼睛来测定，最能支持论点。D 项削弱论点，排除。故本题选 C。

2.【答案】B。解析：题干现象：有 60%的回答者说他们的成绩位居班级的前 20%。假设每个接受调查的毕业生都作出了回答，那么说自己的成绩位居班级前 20%的毕业生应该占回答者的 20%左右，而调查结果与 20%相差较大，最有可能的原因是回答者少了，从而导致说自己的成绩位居班级前 20%的毕业生占比提高，因此 B 项最能解释题干现象。A 项不能解释，C、D 项说服力较弱。故本题选 B。

3.【答案】C。解析：论点：如果一对从 C 地来的新婚夫妇在 B 地开始他们的家庭生活，那么他们的孩子预期将比他们留在 C 地活得更长。论据：在 A 国 B 地出生的小孩的平均寿命比在 A 国 C 地出生的更长。A 项在一定程度上支持论点，排除。B 项说明 B 地比 C 地更有利于长寿，支持论点，排除。C 项说明 B 地人口的寿命预期可能要大幅度下降，则从 C 地迁移到 B 地的夫妇所生的孩子的预期寿命可能并不比留在 C 地的长，最能削弱论点。D 项“变化得更快”是指提高还是下降未知，不能削弱论点，排除。故本题选 C。

4.【答案】D。解析：由“甲、丙和戊年龄相同，而乙、庚的年龄则不同”可知乙、庚中有一人的年龄与甲、丙、戊相同，则由“有 4 位同学年龄为 18 岁，而另外 3 位同学年龄则为 17 岁”可知甲、丙、戊都是 18 岁，因此获得推荐资格的一定不是甲、丙、戊。由“乙、丁与己性别相同，而甲与庚性别则不同”可知甲、庚中有一人的性别与乙、丁、己相同，则由“有 3 位同学是女生，4 位同学是男生”可知乙、丁、己都是男生，因此获得推荐资格的一定不是乙、丁、己。综上，获得推荐资格的是庚。故本题选 D。

5.【答案】D。解析：论点：通过检查甲虫化石得出在过去 2.2 万年内的气温。论据：当发现在同一地方几种甲虫化石属于同一时间段时，现存的这些甲虫类生物的已知忍受温度就可以被用来确定那个地方在该时间段内的夏季最高温度。假设 D 项不成立，则无法通过甲虫的忍受温度来确定某地方在某时间段内的夏季最高温度，论点、论据也无法成立，因此 D 项是研究者依赖的假设。故本题选 D。

6.【答案】D。解析：论点：从小就开始吃含花生的食品，会使人对花生过敏的风险大幅降低。A 项鸡蛋的例子对论点支持力度较小，排除。B 项说明小孩定期食用花生制品有预防花生过敏的效果，但不能说明风险会大幅降低，排除。C 项研究所的建议不代表从小就开始吃含花生的食品能降低大幅过敏风险，排除。D 项“风险降低了 81%”说明从小就开始吃含花生的食品确实能大幅降低对花生过敏的风险，最能支持论点。故本题选 D。

7.【答案】D。解析：题干论点：没有必要接种流感疫苗。论据：接种流感疫苗，既不能保证百分之百不得流感，还可能导致接种人群出现低烧等副作用。A、B、C 项均说明接种流感疫苗的益处，能够反驳论点，排除。D 项指出患流感并恢复的人可获得免疫力，1 年内不需要接种相应的流感疫苗，与是否需要接种其他流感疫苗无关，不能有效反驳论点。故本题选 D。

8.【答案】B。解析：“老钱越来越担心健康出现问题”和“老钱有 25 年烟龄”之间是并列关系，不存在推导关系，A 项不能推出。题干第二句可翻译为①“¬战胜欲望取得戒烟成功→付出健康的代价”，等价于“¬付出健康的代价→战胜欲望取得戒烟成功”，B 项可以推出。题干仅提及“很多人在理性和欲望之间徘徊”，C 项“所有人”不能推出。D 项“健康出现问题”肯定①的后件，不能推出必然性结论。故本题选 B。

9.【答案】A。解析：去年上半年共 6 个月，甲和丁获奖的月份完全不同，而每人均获得 3 次月度优秀奖，则甲和丁的获奖月份各占上半年的一半。甲和乙有 2 个月同时获奖，则乙有 1 个月和丁同时获奖，目前已知获奖情况为甲乙、甲乙、甲、乙丁、丁、丁（月份不分先后）。乙和丙有 2 个月同时获奖，则这 2 个月丙可能都是和甲、乙同时获奖，也可能是 1 个月与甲、乙同时获奖，另 1 个月与乙、丁同时获奖，因此，只有 3 个人同时获奖的月份有 2 个，A 项正确。丙有 1 个月要么只和甲同时获奖，要么只和丁同时获奖，则只有 2 个人同时获奖的月份有 2 个，只有 1 个人获奖的月份也有 2 个，B、C、D 项错误。故本题选 A。

10.【答案】C。解析：女员工=女党员+女群众，男员工=男党员+男群众，根据题意可知，①女党员+女群众＞男党员+男群众，同时②女党员+男党员＞女群众+男群众。①+②可得，女党员+女群众+女党员+

男党员＞男党员+男群众+女群众+男群众，化简可得女党员＞男群众。故本题选 C。

【答案】逻辑判断（六）

1.【答案】D。解析：题干这名群众的意见：推行机动车尾号限行制度对降低 PM2.5 浓度意义不大，无法改善目前的空气质量。A 项仅说明该市空气污染严重，与该群众的意见无关，排除。B 项指出该市大气污染物主要是机动车尾气排放污染物，则推行机动车尾号限行制度应当能够改善空气质量，削弱该群众的意见，排除。C 项只能说明机动车尾气对大气污染的影响相对小，不代表影响不大，且未提及对 PM2.5 浓度的影响，排除。D 项指出该市的 PM2.5 指数升高另有他因，则推行机动车尾号限行制度意义不大，不能改善空气质量，最能支持该群众的意见。故本题选 D。

2.【答案】D。解析：题干论点：扬子鳄对于人们研究古代爬行动物的兴衰具有重要意义。论据：在扬子鳄身上，至今还可以找到恐龙类爬行动物的许多特征。论点和论据之间无直接联系，需在“古代爬行动物兴衰”和“恐龙类爬行动物的特征”之间“搭桥”，D项符合条件。故本题选D。

3.【答案】B。解析：题干论点：DHA 是一种对人体非常重要的不饱和脂肪酸，对儿童智力发育非常重要。论据：实验过后经过智力测试，服用富含 DHA 补充剂的小朋友的智力水平明显高于不服用补充剂的小朋友。A 项在一定程度上削弱论据，能够削弱论点。B 项说明服用富含 DHA 补充剂的小朋友本身智力水平就高，并不是因为服用了补充剂，削弱论据和论点间的关系，力度大于 A 项。C 项属于无关项，排除。D 项支持论点，排除。故本题选 B。

4.【答案】A。解析：假设两个特长生都是贫困生，则特长生加上贫困生有 3 人，而北方人包括辽宁人，则北方人加上辽宁人有 2 人，再加上 1 个浙江人，总人数为 3+2+1=6，与班委共有 7 名不相符，因此 A 项肯定不正确。B、C、D 项均有可能，排除。故本题选 A。

5.【答案】C。解析：已知“乙不上场”，否定（1）“甲上场→乙上场”的后件，可推出否定前件，则甲不上场。“乙不上场”又肯定不相容选言命题（3）“丙不上场∀乙和戊中有人不上场”的一个选言肢，可推出否定另一个选言肢，则丙上场。“乙不上场”还否定相容选言命题（4）“丁上场∨乙上场”的一个选言肢，可推出肯定另一个选言肢，则丁上场。故本题选 C。

6.【答案】B。解析：题干论点：双语环境很早就已开始对大脑活跃性产生影响。论据：在大脑的执行区域中，来自讲西班牙语、英语的双语家庭的儿童对语言声音的刺激反应要比来自英语单语家庭的儿童更为强烈。A 项说明来自讲西班牙语、英语的双语家庭的儿童对语言声音的刺激反应更强烈不是因为双语环境，而是因为西班牙语环境，削弱论点，排除。B 项说明双语环境对儿童的影响，支持论点。C 项比较双语家庭儿童在不同时期对外语声音的感知，属于无关项，排除。D 项讲的是成年人的情况，与论点无关，排除。故本题选 B。

7.【答案】A。解析：专家观点：可以通过多开通公共交通线路的方式缓解城市拥堵现状。A 项指出“人们不愿意乘坐公共交通出行”，则多开通公共交通线路并不能缓解城市拥堵现状，最能削弱专家的观点。B 项只是一些市民的想法，且由“开车出行”可知讲的是有车一族，范围较小，削弱力度不及 A 项，排除。C 项属于无关项，排除。D 项“部分道路”削弱力度也不及 A 项，排除。故本题选 A。

8.【答案】C。解析：张涛的反对意见：我国目前还不具备开征遗产税的条件，如果现在实施遗产税，很可能遇到征不到税的问题。C 项指出“我国目前的富裕人群年龄为 35～50 周岁”，说明富裕人群到征收遗产税的年龄还有较长时间，现在实施遗产税确实很可能征不到税，最能加强张涛的反对意见。A、B、D 项均属于无关项，排除。故本题选 C。

9.【答案】D。解析：由①可知“天”字庭院不是第一个庭院，排除 A 项。假设“天”字庭院是第二个庭院，则由②可知“星”字庭院和“辰”字庭院可能是第三个和第四个庭院，第四个和第五个庭院，第五个和第六个庭院，或者第六个和第七个庭院，但不管哪一种情况，都无法满足③，排除 B 项。假设“天”字庭院是第四个庭院，则“星”字庭院和“辰”字庭院可能是第一个和第二个庭院，第二个和第

三个庭院，第五个和第六个庭院，或者第六个和第七个庭院，但不管哪一种情况，都无法满足③，排除C项。假设“天”字庭院是第五个庭院，当“星”字庭院和“辰”字庭院是第六个和第七个庭院，“地”字庭院和“人”字庭院是第一个和第三个庭院，“日”字庭院和“月”字庭院是第二个和第四个庭院时，满足题干全部条件。故本题选D。

10.【答案】D。解析：若第二个庭院是“辰”字庭院，则由②可知“星”字庭院可能是第一个或第三个庭院。假设“星”字庭院是第一个庭院，当“天”字庭院是第三个庭院，“地”字庭院和“人”字庭院是第四个和第六个庭院，“日”字庭院和“月”字庭院是第五个和第七个庭院时，满足题干全部条件。假设“星”字庭院是第三个庭院，则只有当“天”字庭院是第一个庭院时，才能满足③，但却不满足①，因此“星”字庭院不可能是第三个庭院，只能是第一个庭院。故本题选D。

【答案】逻辑判断（七）

1.【答案】B。解析：题干研究的推断：电视对儿童的影响很大。论据：5岁时观看教育类节目越多的儿童，高中时的成绩越好，创造力就越强，对自己的学业成绩也越重视，读的书就越多，攻击性行为就越少。A项“研究者自己”属于个例，支持力度较小，排除。B项通过对比学前就经常观看暴力电视节目的女孩和较少观看暴力电视节目的女孩将来高中的成绩，说明电视对儿童的影响很大，最能支持题干研究的推断。C项“家里没电视”，不能说明电视是否对儿童有影响，排除。D项说法过于宽泛，支持力度较小，排除。故本题选B。

2.【答案】A。解析：题干结论：爱美的女性必须每天都涂防晒霜。论据：紫外线穿透能力强，对皮肤伤害性很大，即便在非夏季期间，经过长期累积也容易让皮肤受伤，产生黑色素沉淀等问题。A项直接否定每天涂防晒霜的必要性，最能削弱题干结论。B项使用防晒霜的正确方法、C项不同时节的紫外线强度和D项不同阳伞的遮阳效果，均与每天涂抹防晒霜的必要性无关，排除。故本题选A。

3.【答案】B。解析：本题要求每行每列以及粗线框成的4个小正方形中均含有天、地、日、月4个汉字。①所在的那一列已经有“日”，先排除D项。第二行第四列不会填“日”“月”“地”，则填“天”，因此第一行第三列填“地”。而第四行第三列不会填“天”，则第三列的“天”只能填在①处。故本题选B。

4.【答案】B。解析：题干论点：我国大学毕业生实际上不存在就业难的问题。论据：近年我国就业市场空缺岗位与求职人数的比率一般大于1，劳动力市场的需求大于供给，而在求职人群中，大学毕业生的文化水平较高。A项裁员不代表不再招聘新员工，无法说明大学毕业生就业难，不能削弱论点，排除。B项说明虽然空缺岗位与求职人数的比率大于1，需求大于供给，但这些需求主要针对的不是大学毕业生，因此尽管大学毕业生的文化水平较高，就业仍然是难的，最能反驳论点。C项大学毕业生愿意从事的岗位与其实际要从事的岗位不一定相同，因此这些岗位竞争激烈无法说明就业难，不能削弱论点，排除。D项属于无关项，排除。故本题选B。

5.【答案】B。解析：由“所有商品都有商标”为假，可知Ⅱ“有些商品没有商标”为真。Ⅰ“并非有的商品有商标”等价于“所有商品都没有商标”，与“所有商品都有商标”构成上反对关系，“所有商品都有商标”为假，“所有商品都没有商标”真假不定，即Ⅰ不能确定真假。Ⅲ“所有商品都没有商标，这不可能”等价于“有的商品有商标”，与“所有商品都有商标”构成差等关系，“所有商品都有商标”为假，“有的商品有商标”真假不定，即Ⅲ不能确定真假。故本题选B。

6.【答案】C。解析：题干论点：此次民调数据不可信。论据：民意调查中对A的支持率大大超过了B，但最终的选举结果却是B的支持票数大大超过了A。A项说明民意调查样本太少、不具有代表性，且数据误差大，能够加强论证。B项讲的是选举的情况，与民意调查数据是否可信无关，排除。C项说明民意调查数据并非反映真正的民意，则是不可信的，加强力度大于A项。D项讲的也是民意调查的样本问题，与A项同理，排除。故本题选C。

7.【答案】C。解析：题干结论：通过药物治疗可以改善人们对于音高的识别能力。论据：研究人员通过小组对照试验发现，在识别音高测试中，服用了丙戊酸的一组正确识别率更高。A项第一组人数多与识别率高无关，不能质疑题干结论，排除。B项两组试验参与者的平均年龄情况属于无关项，排除。C项指出第一组的正确识别率更高是因为本身听力好，属于他因削弱，最能质疑题干结论。D项父母是否从事音乐工作与参与者对音高的识别能力无明显联系，不能质疑题干结论，排除。故本题选C。

8.【答案】C。解析：由（5）（6）可知赵宇不是来自江西、浙江和天津，只可能来自海南或福建，又由（2）可知赵宇不是来自福建，则赵宇来自海南，排除 A 项。由（3）（5）可知李进不是来自江西、浙江和天津，则李进来自福建，排除 D 项。由（2）（3）可知福建运动员（李进）仅与浙江、天津、海南运动员（赵宇）比赛过。又因赵宇仅与一名运动员比赛过，则其仅与福建运动员（李进）比赛过。天津运动员和江西、浙江、福建运动员比赛过，浙江运动员和江西、天津、福建运动员比赛过，则仅与另外两名运动员比赛过的只可能是江西运动员，由（1）可知王益是江西运动员，排除 B 项。故本题选 C。

9.【答案】D。解析：题干现象：按揭贷款的利率下调，人们每月还贷压力减小，这应当会使某地的商品房销售量增长，但实际销售量并未出现明显增长。A 项人口外流与该地商品房销量无明显关系，身在外地的人也可以购买该地的商品房，不能解释题干现象，排除。B 项对商品房销量没有明显影响，而人们还贷压力减小，商品房销量应当增长，不能解释，排除。C 项部分开发商的情况对解释题干现象的说服力不足，排除。D 项指出当地人均收入下降，因此尽管按揭贷款的利率下调，人们仍无力购买商品房，最能解释题干现象。故本题选 D。

10.【答案】C。解析：题干论点：没摊上好上司不仅会让员工在上班时感到痛苦，还会导致员工罹患身体和精神方面的疾病。A 项只能说明身体和精神方面的疾病与不健康的生活方式有关，但不能说明员工罹患身体和精神方面的疾病与“没摊上好上司”无关，无法质疑论点，排除。B 项说明员工的心理压力至少有部分来自“与上司关系不佳”，加强论点，排除。C 项说明并非“没摊上好上司”导致员工罹患身体和精神方面的疾病，最能质疑论点。D 项加强论点，排除。故本题选 C。

【答案】逻辑判断（八）

1.【答案】A。解析：主厨的反对意见：我们不能使用未完成试验的排放油烟系统。“未完成试验”表明新开发的排放油烟系统的质量还未有保障，A 项“能更有效地处理油烟的新系统也可能存在新问题”说明新开发的排放油烟系统还需要经过试验检验才能安装使用，反对饭店“这个系统可以更有效地解决油烟问题，并且未发生故障，因此尽管未完成试验检验，还是决定安装”的观点，最能支持主厨的反对意见。B、C 项属于无关项；D 项未指出安全事故是否与排放油烟系统未完成试验检验有关，支持力度较弱。故本题选 A。

2..【答案】D。解析：题干观点：在音频文件格式中，MP3格式将被AAC格式取代，并退出历史舞台。论据：音频格式MP3的制定机构停止颁发MP3许可证。A项指出AAC格式相对于MP3格式的优势，C项指出MP3格式跟不上软件的发展，均能在一定程度上说明MP3格式将退出历史舞台，支持题干观点，排除。B项未比较MP3格式和AAC格式的市场份额，不能反驳题干观点，排除。D项指出制定机构的声明只是宣告了MP3许可证发放项目的结束，说明不能由此推断MP3格式将被AAC格式取代并退出历史舞台，最能反驳题干观点。故本题选D。

3.【答案】B。解析：由“黄球放在绿球和紫球前面”可先排除 C、D 项。假设黄球放在 B 抽屉，则黄球后还有 3 个抽屉，由“红球和绿球之间隔着一个抽屉”可知红球和绿球分别放在 C、E 抽屉或者 E、C 抽屉，则紫球只能放在 D 抽屉，可能的排放顺序有 A 蓝、B 黄、C 红、D 紫、E 绿和 A 蓝、B 黄、C 绿、D 紫、E 红两种，排除 A 项。假设黄球放在 C 抽屉，则绿球只能放在 D，紫球只能放在 E，红球只能放在 B，蓝球只能放在 A，排放顺序是唯一的。故本题选 B。

4.【答案】A。解析：（5）“张五一定要去”否定（4）“李四去→张五不去”的后件，可推出否

定前件，则李四不去，排除 D 项。“李四不去”否定（2）“孙二去→李四去”的后件，可推出否定前件，则孙二不去，排除 B 项。由（3）“宋三和张五有且只有一人去”可知宋三不去，排除 C 项。“孙二不去”和“宋三不去”否定（1）“王一不去→孙二去∨宋三去”的后件，可推出否定前件，则王一去，A 项符合。故本题选 A。

5.【答案】D。解析：科学家的假说：蚜虫体内的类胡萝卜素也许能帮助它吸收太阳光，进行基本的光合作用，生产能量 ATP。A 项说明类胡萝卜素能帮助蚜虫在光照条件下生产 ATP，能够支持科学家的假说，排除。B 项指出类胡萝卜素分子存在于蚜虫体内捕获阳光的最佳位置，能够支持，排除。C 项指出“类胡萝卜素能够吸收光并且传递能量”，能够支持，排除。D 项仅说明“类胡萝卜素决定着蚜虫的色素沉着”，与论点无关。故本题选 D。

6.【答案】C。解析：题干论点：对螨虫过敏的人搬到干燥地区就可以避免这一问题。论据：螨虫只能生活在潮湿的环境下。A 项仅说明使用高效微粒空气过滤器可有效抑制螨虫，D 项仅说明螨虫会致人过敏，与搬到干燥地区能否避免这一问题无关，不能削弱论点，均排除。B 项未说明该地区是干燥还是潮湿，不能削弱论点，排除。C 项指出“搬到干旱地区的床垫、毯子等也会滋生螨虫”，说明搬到干燥地区并不能避免螨虫过敏，最能削弱论点。故本题选 C。

7.【答案】A。解析：经济学家的结论：商家的未来在于手机支付。论据：手机支付使人们看不到钱被花出去，能够减少焦虑感。A 项讲的是“挣钱”，与题干无关，题干论证的是“支付”“消费”。B 项说明具备网购和支付功能的手机相对普及，手机支付很可能是未来的消费手段，能够支持经济学家的结论，排除。C 项支持论据，能够支持结论，排除。D 项在一定程度上说明手机支付多于现金消费，能够支持结论，排除。故本题选 A。

8.【答案】D。解析：村书记和村会计的话矛盾，则必有一真一假，由“上述谈话中只有一人说的是假话”可知村主任和治保主任的话均为真。由治保主任的话为真，可知①本村最富有的刘家申请了农业专项贷款。村主任的话可翻译为“本村最富有的刘家没有申请农业专项贷款∨本村最贫穷的周家没有申请农业专项贷款”，①否定该相容选言命题的一个选言肢，则肯定另一个选言肢，即“本村最贫穷的周家没有申请农业专项贷款”为真，则村会计的话为真，村书记的话为假。综上，A、B、C 三项错误，D 项正确。故本题选 D。

9.【答案】A。解析：论点：尼安德特人的胸腔和骨盆进化得更大更宽，是冰川时期以大型动物为狩猎对象的饮食习惯造成的。论据：尼安德特人的胸腔变大是为了适应更大的肝脏，肝脏是负责使大量蛋白质经过新陈代谢转化为能量的器官，这种得到加强的新陈代谢还要求有更大的泌尿系统，这可能使得尼安德特人的骨盆很宽。A 项，假设尼安德特人没有在以大型动物为食时摄入大量蛋白质，那么也就不需要更大的肝脏，由此也不需要更大的泌尿系统，则其胸腔和骨盆进化得更大更宽与其以大型动物为狩猎对象的饮食习惯无关，论点不成立，因此 A 项是得出题干研究结论的必需前提。B、C、D 项均属于无关项，排除。故本题选 A。

10.【答案】C。解析：题干信息可翻译为：（1）选拔肖光∨选拔李航，等价于¬选拔李航→选拔肖光；（2）选拔肖光→¬选拔郑林；（3）选拔黄青→选拔郑林，等价于¬选拔郑林→¬选拔黄青；（4）选拔李航∀选拔黄青，等价于¬选拔黄青→选拔李航。整合得¬选拔李航→选拔肖光→¬选拔郑林→¬选拔黄青→选拔李航，即¬选拔李航→选拔李航，则“选拔李航”一定为真。“选拔李航”肯定（4）的一个选言肢，而（4）是不相容选言命题，则否定另一个选言肢，即“¬选拔黄青”。故本题选 C。