浙江省公务员录用考试

真题精编

【行政职业能力测验 + 申论】

2015·浙江省考

准考证号

姓名

2015年浙江省公务员录用考试试卷
《行政职业能力测验》

重要提示：

为维护您的个人权益，确保公务员考试的公平公正，请您协助我们监督考试实施工作。

本场考试规定：监考老师要向本考场全体考生展示题本密封情况，并邀请2名考生代表验封签字后，方能开启试卷袋。

条形码粘贴处

请将此条形码揭下，
贴在答题卡指定位置

注意事项

本测验卷共有五个部分，125 道题，总时限为 120 分钟。各部分不分别计时，但都给出了参考时限，供你参考以分配时间。

请在题本、答题卡上严格按照要求填写好自己的姓名，填涂准考证号。

请仔细阅读下面的注意事项，这对你获得成功非常重要：

1.题目应在答题卡上作答，在题本上作答的一律无效。

2.监考人员宣布考试开始时，你才可以开始答题。

3.监考人员宣布考试结束时，你应立即停止答题，将题本、答题卡和草稿纸都翻过来留在桌上，待监考人员确认数量无误，允许离开后，方可离开考场。

如果你违反了以上任何一项要求，都将影响你的成绩。

4.在这项测验中，可能有一些试题较难，因此你不要在一道题上思考时间太久，遇到不会答的题目，可先跳过去，如果有时间再去思考。否则，你将可能没有时间完成后面的题目。

5.试题答错不倒扣分。

6.特别提醒你注意，涂写答案时一定要认准题号。

7.严禁折叠答题卡。

停！请不要往下翻！
听候监考老师的指示。
否则，会影响你的成绩。

第一部分　常识判断

（共20题，参考时限15分钟）

根据题目要求，在四个选项中选出一个最恰当的答案。

请开始答题：

1.下列情形符合法律规定的是(　　)。

A.甲乙二人自由恋爱，因两人均年满20周岁，经双方父母同意，两人可以结婚

B.丙12岁，玩火酿成火灾，造成重大财产损失，但丙不承担失火罪的刑事责任

C.丁6岁，春节收到红包若干，其父母认为丁尚年幼，红包里的钱应归监护人所有

D.19岁的大学生戊，认为父母应支付他的教育费及生活费至其独立工作为止

2.目前我国正大力推进文化体制改革，特别是对国内的动漫产业和影视剧通过内容管控的方式促进其发展。下列不属于行政手段的是(　　)。

A.规定各级电视台每日播出境外各类影视节目时间

B.设立专项经费用于鼓励本土作家创作优秀剧本

C.国家出台“限娱令”规范娱乐节目播出类型

D.每年引进的境外动漫作品同类题材数量设置上限

3.2014年是“和平共处五项基本原则”发表60周年，下列与其发表时间相同的历史事件是(　　)。

A.东西两德统一　　B.古巴导弹危机

C.联合国军完全撤出朝鲜　　D.越南抗美战争彻底结束

4.古人记月除常用的序数法外，还以物候的特点来命名，或以孟、仲、季来命名每季的三个月。那么，下列对应关系正确的是(　　)。

A.孟春——桃月　　B.仲夏——荷月　　C.仲秋——桂月　　D.季冬——菊月

5.下列雕塑作品表现唐太宗李世民生平战功的是(　　)。

A.马踏匈奴　　B.击鼓说唱俑　　C.昭陵六骏　　D.乾陵石雕

6.下列诗句背景与科举制实行无关的是(　　)。

A.慈恩寺下题名处，十七人中最少年　　B.太宗皇帝真长策，赚得英雄尽白头

C.黑发不知勤学早，白首方悔读书迟　　D.春风得意马蹄疾，一日看尽长安花

7.中国古代小说塑造了很多莽汉形象，他们外表威猛如金刚，性格天真似儿童，深受读者的喜爱。下列小说中莽汉的时代顺序排列正确的是(　　)。

①张飞　　②程咬金　　③李逵　　④牛皋

A.②①③④　　B.②①④③　　C.④②①③　　D.①②③④

8. 三十六计是根据我国古代卓越的军事思想和丰富的斗争经验总结出来的三十六条谋略，在我国军事史上得到了充分的验证。下列战役中成功用三十六计中以逸待劳之计的

是(　　)。

A.城濮之战　　B.垓下之战　　C.□亭之战　　D.淝水之战

9.下列不属于心理学效应的是(　　)。

A.晕轮效应　　B.马太效应　　C.破窗效应　　D.配位效应

10.所谓硬水是指水中存在较多的矿物质成分,水的硬度指的是水中钙镁离子的总和。下列关于硬水的说法错误的是(　　)。

A.加入石灰能降低水的硬度　　B.可以用肥皂水鉴别软硬水

C.将水煮沸可以降低水的硬度　　D.可以长期饮用硬度较高的水

11.地球自转一圈的时间是一天,地球半径约为6371千米,毛泽东诗词"坐地日行八万里"是有科学依据的,人可以随着地球自转运动,那么与诗句最吻合的可能是哪个国家的人?(　　)

A.阿富汗　　B.南非　　C.新加坡　　D.挪威

12.通过云计算技术可以实现共享软硬件资源和信息。下列直接使用到云计算技术的是(　　)。

A.将ADSL升级为光纤线路

B.设计并制作Web网站页面

C.向ISP申请注册网站域名

D.使用Google　App　Engine服务,部署个人网站

13."旅行者1号"空间探测器历经36年的人类星际探索,沿途探测①木星、②土星、③土卫二、④土卫六是否存在生命痕迹,并发回资料。阅读表格,依据探测资料判断将来最有可能孕育生命的天体是(　　)。

天体	①	②	③	④
探测资料	有浓密的大气层,表面由沸腾的氢组成。	有较为平静和单纯的氢和氦组成的大气	大量水汽从地表裂隙喷出,存在地下海洋	存在氮为主以及碳氢化合物的稳定大气

A.①　　B.②　　C.③　　D.④

14.结合化学知识和生活经验,下列做法不能减少环境污染的是(　　)。

A.将废弃的塑料袋、一次性塑料餐具等塑料制品集中堆放焚烧

B.将汽车发动机产生的气体通过装有氧化钯催化剂的排气管后排放

C.在燃烧前对煤进行净化,去除原煤中部分硫分和灰分

D.城市公交车和出租车采用液化天然气(LNG)代替普通汽油

15.下列关于水生动物的说法错误的是(　　)。

A.鲨鱼用腮呼吸,鲨鱼属于鱼类

B.黄鳝的腮严重退化,无法用腮呼吸,黄鳝不属于鱼类

C.蓝鲸没有腮，用肺进行呼吸，蓝鲸属于哺乳动物

D.海龟没有腮，用肺进行呼吸，海龟不属于哺乳动物

16.中华民族历来崇尚“和”的理念。下列语出《尚书》的是(　　)。

A.“和为贵”　　B.“和而不同”　　C.“协和万邦”　　D.“兼爱非攻”

17.人工智能是指由人工制造出来的系统所表现出来的智能。人工智能的核心问题包括推理、知识、规划、学习、交流、感知、移动和操作物体的能力等。下列论述中所描述的各项技术突破，无关人工智能的是(　　)。

A.科学家利用数学定理证明程序，证明了《数学原理》一书第二章的38个定理

B.中国象棋程序在人机对弈时，能够根据以往的棋局，学习到新的战术，从而避免因为类似的错误而失败

C.小张家里新买的最新款电视机，能够根据电视机周围的环境光线强弱，自动地调整屏幕的亮度

D.有种名为siri的手机软件，采用自然语言处理技术，使用户能用自然的对话与手机进行互动

18. 马航MH370航班失踪之后，国际海事卫星组织试图利用多普勒原理计算出失踪航班的下落。多普勒原理，源于这样一种物理现象(多普勒效应)：随着飞机高速接近(或远离)接收微波信号的卫星，卫星所侦测到的微波频率就会越来越高(或越来越低)。下列描述的现象中，哪一种也体现了同样的多普勒效应？(　　)

A.站在铁轨附近的人，听到鸣笛的火车由远及近高速驶来时，汽笛的音调逐渐变得尖锐

B.一束自然光射入三棱镜，射出时，被分解为不同的颜色

C.向平静的湖水中投入一颗小石子，荡起的涟漪呈圆形逐渐向周围扩散

D.在日环食的过程中，观测到太阳黑子的存在

19.呼吸作用是生物体细胞把有机物氧化分解并产生能量的过程，没有氧气参加的呼吸成为无氧呼吸。无氧呼吸是指细胞在缺氧的条件下，通过酶的催化作用，把葡萄糖等有机物分解为尚未彻底氧化的产物。下列现象与无氧呼吸有关的是(　　)。

A.人剧烈运动后肌肉酸痛

B.用糯米和酒曲酿制米酒

C.农作物受涝时短时间内不会死亡

D.把生水果和熟苹果放在密闭的缸里催熟

20.下列生活中保存食物的方法，理解错误的是(　　)。

A.盐腌制食品是因为盐可以形成高渗环境，抑制了微生物的生理活动

B.真空保存食物可以破坏需氧菌类的生存环境

C.冷藏保存食品是因为低温可以将细菌冻死

D.充入氮气保存食品是为了隔绝食品与氧气接触

第二部分　言语理解与表达

（共30题，参考时限30分钟）

本部分包括表达与理解两方面的内容。请根据题目要求，在四个选项中选出一个最恰当的答案。

请开始答题：

21.英国车，汽车工艺的代表，处处_____出高贵、优雅、灵动、恒久的艺术精髓。而这一切，源自于英国人一直____的传统造车技艺——始终以手工进行装嵌。

依次填入划横线部分最恰当的一项是(　　)。

A.彰显　迷恋　　B.展示　擅长　　C.流露　秉承　　D.体现　坚守

22.我国著名语言学家罗常培说过：语言文字是一个民族文化的结晶。这个民族过去的文化靠着它来流传，未来的文化也仗着它来____。我们可以从诸多汉字现象中，如汉字的造字、构词，汉字词义的形成和____中找寻中国文化形成与发展的理据。

依次填入划横线部分最恰当的一项是(　　)。

A.推动　变革　　B.提升　演进　　C.弘扬　变迁　　D.推进　演变

23.孔子文化节不仅是一场文化盛宴，更是对“郁郁乎文哉”的文明盛象的具体呈现。从最初的“孔子诞辰故里游”到今天的“孔子文化节”，变化的不只是名称，更是不断饱满的文化____和不断厚植的文化____。

依次填入划横线部分最恰当的一项是(　　)。

A.涵养　继承　　B.素养　传承　　C.内蕴　沉积　　D.内涵　积淀

24.一个求学者如果孜孜于衣食居住的安适，一定谈不上好学。同样，好学的目的也不是为了_____，心灵之养甚于居养之安。学习的目的是成为“有道”之人，名闻利养并非先务。这不是____物质，而是强调学习就是学习，不要附带上物质目的。

依次填入划横线部分最恰当的一项是(　　)。

A.养尊处优　否定　　B.丰衣足食　摈斥

C.锦衣玉食　排斥　　D.肥马轻裘　抵触

25.哈佛大学的一位校长曾提出这样的思考：我们培养出来的青年人该用什么样的方式来回报这所学校？是选择自己更好的生活，还是更好地为公众服务？150年过去了，这个问题仍然可以____当下。这位校长希望有朝一日能够在学校的纪念碑上，____选择后者的毕业生的名字。今天，在中国，已经有越来越多的青年人作出了这样的人生抉择。

依次填入划横线部分最恰当的一项是(　　)。

A.叩问　雕刻　　B.质问　铭刻　　C.拷问　镌刻　　D.追问　铭记

26.本土的东西要想传承，一定要拥有充分的文化自信，善于理解并____多元的文化门类，从自己的世界走到更加丰富多彩的世界中去。毕竟，世界上没有一种文化是因为封闭

和自锁而实现持久传扬的，不勇于迎接挑战，不在挑战的磕碰之中____、革新、发展，就难像浴火的凤凰一样，实现自身的____。

依次填入划横线部分最恰当的一项是(　　)。

A.吸收　反身　升华　　B.包容　自省　涅□

C.吸纳　醒悟　突破　　D.兼容　觉醒　重生

27.中国改革已进入攻坚期和深水区，需要解决的问题格外艰巨，都是难啃的硬骨头。这个时候需要一鼓作气，_____、畏葸不前不仅不能前进，而且可能_____。

依次填入划横线部分最恰当的一项是(　　)。

A.优柔寡断　半途而废　　B.三心二意　功败垂成

C.迟疑不决　功亏一篑　　D.瞻前顾后　前功尽弃

28.去年的“双十一购物节”让外界____中国热闹异常的电子商务产业。美国媒体感叹中国的“双十一”一天的销售规模已经赶超美国两大网上购物日，预计电子商务将____中国在2015年成为全球最大的零售市场。

依次填入划横线部分最恰当的一项是(　　)。

A.惊诧　力推　　B.关注　助推　　C.热议　襄助　　D.聚焦　助力

29.高油价时代，如何节油成为车主们关注的焦点。于是，各种节能产品_____，汽油清净剂、节油贴、节油丸、省油精等等_____。

依次填入划横线部分最恰当的一项是(　　)。

A.应运而生　层出不穷　　B.供不应求　五花八门

C.应接不暇　举不胜举　　D.琳琅满目　屡见不鲜

30.造谣传谣行为不但构成违法犯罪，更不断侵蚀着社会诚信，____社会道德基础。打击网络“大谣”，净化网络环境，刻不容缓。现实中，互联网的监管涉及部门众多。要及时迅速地____网络谣言，打击“大谣”，需要进一步提高“虚拟社会”的服务和监督水平。

依次填入划横线部分最恰当的一项是(　　)。

A.侵入　鉴别　　B.侵袭　认清　　C.瓦解　甄别　　D.渗透　破除

31.没有心痛的感觉，认识不到中国科学界与世界的差距，这不是科学的态度；没有_____思考，对国外的获奖者一味地追捧，也不是科学的态度；没有_____考证，对国内的科研人员一味求全责备，也不是科学的态度；没有_____精神，对获奖者背后付出的多年努力视而不见，一味看重奖项的荣耀，更加不是科学的态度。但喧哗过后，我们更应对诺贝尔奖热多几分“冷”思考。

依次填入划横线部分最恰当的一项是(　　)。

A.严谨的　独立的　奉献的　　B.辩证的　细致的　独立的

C.独立的　严谨的　思辨的　　D.深刻的　思辨的　严谨的

32.在如今浅阅读盛行的时代，一边是快餐式、碎片式阅读的轻松，一边是慢读、细读的

沉重，经典自然免不了有点_____的味道。就阅读是一种学习、一种对自我的提升而言，浅阅读并不是真正的阅读，长久沉浸在浅阅读的习惯之中，也只会让人离那些最好的书籍愈来愈远。然而，只是____对经典的珍重，却不如对于经典真实的理解更为重要。

依次填入划横线部分最恰当的一项是(　　)。

A.阳春白雪　提倡　　B.曲高和寡　呼唤

C.孤芳自赏　强调　　D.凄风苦雨　苛求

33.一个国家的文学能在世界范围内引起关注，必然是因为_____的特质。这种特质包含两个向度的价值，一是基于民族文化____的优秀特性，二是给出开放性意义的体系。

依次填入划横线部分最恰当的一项是(　　)。

A.不可替代　禀赋　　B.难以复制　禀性

C.无与伦比　传统　　D.独一无二　渊源

34. 自然界的各种物种之间，都有着_____的联系，共同编织着错综复杂的生物链条。每一根链条的断裂，都会或多或少地影响到整个生态系统的平衡，进而可能招致一些未知的灾难。生活在这个_____的世界，每一个物种都有着它独有的____，不要等到成了稀有物种才想着去保护。

依次填入划横线部分最恰当的一项是(　　)。

A.千头万绪　休戚与共　意义　　B.千丝万缕　互利共同　价值

C.唇齿相依　互惠共赢　属性　　D.密不可分　弱肉强食　贡献

35.空间探测器拍摄的大量照片和探测仪器的取样分析，揭开了被测行星的大气环境和表面景观的____，让人看到了它们的真实面目。1997年美国“探路者号”探测器及“索杰纳号”火星车的大量照片和检测结果显示，如今一片荒凉的火星曾经是一个____和维持过生命的星球。

依次填入划横线部分最恰当的一项是(　　)。

A.面纱　孕育　　B.伪装　诞生　　C.谜底　萌发　　D.帷幕　繁衍

36.几千万年前一支长有罕见怪异特征的哺乳动物家族移居地下生活，并从6500万年前的大灭绝事件中幸存下来。科学家将其命名为Necrolestes。一直以来，这个绰号为“坟墓强盗”生物被认为是有袋类动物。然而进一步的分析发现，它其实属于生物进化树上完全出人意料的某哺乳动物分支，后者被认为在Necrolestes生活时代前4500万年前就已经完全灭绝。这便是“拉扎勒斯效应”的一个典型例子，该效应描述了一组生物体生活的时间远比原本预料的长得多。

下列说法与原文不符的是(　　)。

A.Necrolestes是1亿多年前某哺乳动物的孑遗

B.一直以来人类对Necrolestes的存在均不知情

C.Necrolestes的实际生活时间出人意料得长久

D.被认定已经灭绝的物种可能被“重新发现”

37.随着计算机技术向着千万亿次乃至更高的级别迈进，处理器速度已经超越了传输速度，这就在应用领域产生了一个技术瓶颈，阻碍了应用的进一步发展。任何尝试过拨号上网看流媒体视频的人都有所体会，再快的处理器也不能提高文件加载速度。而在大数据和云计算的当今，在服务器之间有大量的信息进行交互。一种激光器件——垂直腔面发射激光器，可以用来在光纤网络中高速传输数据。其相比传统电缆系统可以以更快的速度传输更大的数据量。

下列说法与原文不符的是(　　)。

A.计算机处理器与数据传输速度不成正比

B.计算机处理器速度已不能满足应用需求

C.数据高速传输技术长期未取得实质突破

D.科学家在激光通讯技术上取得重要进展

38.专家认为，家庭氛围不和谐、缺少父母关爱是导致青少年出现心理精神问题，继而迷上网游的原因之一。家庭是孩子体验情感、发展情商的关键场所。如果家庭中不能给孩子提供需要的安全感、尊重、亲密与爱，孩子很有可能在网游中逃避恐惧和孤独，寻求安慰。忙于工作的父亲和爱批评唠叨的妈妈往往最“善于”制造这样的情感生态。如果一个充满冒险精神追求刺激的男孩过着单调和一成不变的生活时，网游世界自然显得精彩无限。

这段文字的主要观点是(　　)。

A.应尽可能地保证孩子的情感供给　　B.情感缺位容易使孩子沉迷于网游

C.亲子关系和谐可使孩子冷落网游　　D.应创造满足孩子个性的情感生态

39.“商业信誉”无疑指向的就是“信用”和“名誉”。它是指社会公众对具体商业主体的经济能力、信用状况等所给予的社会评价。在刑法上，并不是所有“损害”商业信誉的行为都将构成犯罪。如该商业主体自身存在问题，经媒体曝光后信用大跌、名誉扫地，这种损害实则是由主体自身的问题所带来的。而媒体行使舆论监督权并无违法，反而应该得到法律的保护。

这段文字意在强调(　　)。

A.媒体曝光商家不守商业信誉的行为不违法

B.商家自身问题造成信誉损害不受法律保护

C.法律对损害商业信誉行为的认定十分审慎

D.应出台法律保护媒体对商家进行舆论监督

40.在不同的时期，约有7000种植物和几百种动物被人类当作食物。物种的丧失将使食物的多样性减少，使人类仅仅依赖个别几种主要的食物，从而打破人们均衡的饮食结构。此外，随着森林、田野中物种的丧失可能导致某些病原体的增加，而这些病原体是有机体感染疾病的元凶。一些最有可能灭绝的动物、植物和微生物，实际上是传染病传播的“缓冲

区”,它们在人类受到感染之前,代人类承担了许多疾病的侵袭。

下列说法与原文不符的是(　　)。

A.特有物种能够缓冲传染病的传播　　B.生物多样性的丧失影响人类健康

C.物种的丧失危及人类食品的安全　　D.物种多样性与疾病感染关系微妙

41.黏土看上去似乎是一种肥沃度差、由多种矿物质组成的混合物,却可能是地球生命的起源地。在模拟古代的海水中,黏土会形成水凝胶——由大量可吸收液体的微小空间构成(像海绵一样)。过去几十亿年里,被禁锢在这些空间里的化学物可能发生了复杂的反应,从而形成了蛋白质、脱氧核糖核酸以及最终生成活细胞的各种系统。黏土形成的水凝胶可能对上述化学过程起到了禁锢和保护的作用,直至发育出将活细胞包裹住的细胞膜为止。

这段文字意在说明(　　)。

A.黏土富含生命需要的营养物质　　B.水凝胶对生化反应的保护作用

C.黏土在地球生命起源中的作用　　D.地球生命也许最初发源于黏土

42.含羞草是很奇妙的:你碰它一下,它的叶子会合拢起来,又垂下去,像害羞似的。这其中,因为“害羞”的程度不一样,预示的天气也不一样:如果被触动的含羞草叶子很快合拢、下垂,之后,需经过相当长的时间才能恢复原态,则说明天气将艳阳高照,晴空万里;反之,叶子受触后收缩缓慢、下垂迟缓,或叶子稍一闭后即张开,则预示着风雨即将来临。

上述文字意在说明(　　)。

A.含羞草的生长习性　　B.含羞草能预测天气

C.含羞草的奇妙之处　　D.天气会影响含羞草

43.相对于影响范围较小、较方便找到污染源头的水污染、噪音污染,大气污染的成因复杂,往往是跨地域的工业污染、汽车排放乃至烹饪油烟等等,再加上特定的天气因素共同造成了雾霾等灾害性天气。这就很难将某天的雾霾归因于具体的哪个、哪几个企业的污染,那么受大气污染损害的公民该向谁索赔?又如何抗辩自身罹患的疾病等是由大气污染造成,而不是其他原因造成的?如果公民真的起诉一长串的可能的污染企业,那么结果就是众多污染企业摊薄了赔偿款,不能起到震慑污染企业的作用。

作者接下来最有可能讲述的是(　　)。

A.介绍大气污染索赔的成功案例　　B.如何规制企业的大气污染行为

C.进行大气污染索赔的法律依据　　D.进行大气索赔的现实困境

44.①因为我与他人的关系通过对话,不是特点消失的合金式的“融合”,而是一种“面对面”的关系

②对话的目的主要不是说服对方,同化别人,统一思想,而是要在不同思想的碰撞中产生出新的思想,这就是“生成性对话”

③多元文化共处最核心的问题是世界不同文化之间的对话与沟通

④事实上,也正是因为有这样一种面对面的相异性,一种文化才有可能对他种文化产

生吸引力

⑤对话最忌讳的就是“人云亦云”,“我打你通”

将以上5个句子重新排列,语序正确的是(　　)。

A.③④②⑤①　　B.②③⑤①④　　C.③②⑤①④　　D.⑤①②④③

45.①员工一般通过深层扮演和表层扮演这两种方式来实现情绪劳动

②情绪劳动是指员工为了给顾客提供更为优质的服务而表达出组织所需情绪的行为

③此时员工的情绪体验并没有改变,改变的只是对其服务对象的情绪表达

④从本质上来说,深层扮演是员工改变自己情绪体验的过程

⑤情绪劳动对组织而言有更多的积极效应,对员工个人来说,情绪劳动的消极影响更多

⑥表层扮演则是员工通过掩饰、夸大或抑制等方式来调整自己的情绪表达

将以上6个句子重新排列,语序正确的是(　　)。

A.②③①④⑥⑤　　B.②①④⑥③⑤

C.⑤②③①④⑥　　D.⑤①④⑥②③

46.近年来我国中小学音乐课程在许多地区还是没有受到足够的重视,教材内容不能与时俱进,一些音乐教师只注重技能培养而忽略了音乐教育的主旨首先应当是“树德立志”。在教授学生一部音乐作品之前,教师首先应该理解其中所表现的道德思想,然后以多样化的形式对学生的身心进行正面教育。作为音乐教师当以此为己任,使孩子们真正热爱音乐,在他们的心灵中种下一颗真、善、美的健康种子。

这段文字意在强调(　　)。

A.音乐教育应注重作品的道德教化　　B.教师应以培养孩子真善美为己任

C.音乐教育以强调树德立志为主旨　　D.音乐教育的内容、主旨都需转变

47.当我们在承受某些心理痛苦——比如孤独、社会孤立、自我怀疑、负面情绪、觉得人生无意义时,怀旧可以起到应对机制的作用。这些烦恼使大脑开始筛选自己的记忆库,总结出一些有特定叙事特色的片段。我们通过怀旧,让过去的成功经历和亲密的人际关系重新浮出水面,那些时候我们的生活有安全感也有秩序。心理学家解释道:“你在向自己重申‘我做过很棒的事情’,也希望这句话能预测未来的发展。‘虽然我现在不甚确定,但看看我的过去,就知道我是个可爱的人。我命中注定要成就大事。’”

下列说法与原文不符的是(　　)。

A.怀旧会让我们逃避现实　　B.怀旧是我们前进的动力

C.怀旧有情感缓冲的作用　　D.怀旧能使我们变得乐观

48.科学家最近成功破译白鳍豚全基因组图谱。科学家的努力当然是可贵的,30多年前中国科学家就开始了对白鳍豚的研究,其成果当然不止一张“全基因组图谱”。但其对于保护这些可怜的物种究竟起到了多大的作用,恐怕还不敢断言,而且我们更多的是从白鳍豚

身上找到可以“利用”的特点。如果科学家的研究不能成为保护这些生命的力量，如果有朝一日我们只能对着一个个浸泡在福尔马林里的标本来谈论它们的习性，用基因图谱来证明它们的存在，这不是科学的善意，而是人类的罪恶。

这段文字意在强调(　　)。

A.白鳍豚全基因组图谱得以成功地破译　　B.白鳍豚全基因组图谱解开生命的密码

C.应该反思人类活动对物种犯下的罪恶　　D.科学研究应对保护物种负起应有责任

49.目前，各城市的城管机构设置不尽相同，一般分为城建监察大队、城市管理局、城市管理行政执法局、城市管理委员会四种。由于城管工作实际是各自为政，没有一部专门的法律来指导，各地方政府根据立法权限制定了一些地方性条例，但差异很大，难以系统化，并由此导致近年来各地不断出现一些“城管暴力执法”事件，影响到社会稳定。

这段文字意在说明(　　)。

A.当前我国城市多头管理之“乱”　　B.城管执法问题是社会关注的焦点

C.城管纳入法制轨道是当务之急　　D.有必要制定全国性的城管法规

50.古文明一般形成于中纬度大河沿岸的内陆地区，适宜的气候，肥沃的土壤条件较适宜于人类活动。而随着科学技术的发展，这些要素逐渐被弱化，人类活动已经从内陆转向沿海，出现了现代沿海向内陆的经济梯度。对比古文明与现代沿海文明的环境差异，其中最核心的是交通和可接近性对相关环境要求的改变。但高速公路和铁路等路上交通的发展，又使内陆地区发展进入新机遇。

根据文段，可以得出的结论是(　　)。

A.不同时期文明对环境要素的要求不同

B.环境要素是某一时期文明形成至关重要的要素

C.科学技术的发展能改变某一时期文明对环境要素的要求

D.交通能够在不同时期给某一区域的发展带来新机遇

第三部分　数量关系

（共25题，参考时限25分钟）

本部分包括两种类型的试题：

一、数字推理：共10题。给你一个数列，但其中缺少一项，要求你仔细观察数列的排列规律。然后从四个选项中选出你认为最合理的一项来填补空缺项。

请开始答题：

51.1　-4　4　8　40　（　　）

A.160　　B.240　　C.320　　D.480

52.5　11　-3　7　-5　（　　）

A.6　　B.7　　C.8　　D.9

53.5　7　10　15　22　（　　）

A.28　　B.30　　C.33　　D.35

54.2　$\frac{5}{2}$　$\frac{11}{4}$　$\frac{35}{12}$　$\frac{73}{24}$　（　　）

A.$\frac{365}{120}$　　B.$\frac{377}{120}$　　C.$\frac{383}{120}$　　D.$\frac{395}{120}$

55.2　3　5　9　17　33　（　　）

A.62　　B.63　　C.64　　D.65

56.61　60　40　41　23　（　　）

A.22　　B.24　　C.26　　D.28

57.3　5　8　11　16　19　（　　）

A.20　　B.22　　C.24　　D.26

58.5　63　37　511　101　（　　）

A.1727　　B.1833　　C.1905　　D.1929

59.34　41　46　56　64　（　　）　88

A.75　　B.77　　C.79　　D.81

60.2　3　4　9　16　45　（　　）　315

A.90　　B.96　　C.102　　D.120

二、数学运算：共15题。每道试题呈现一段表达数学关系的文字，要求你迅速、准确地计算出答案。

请开始答题：

61.某单位共有四个科室，第一科室20人，第二科室21人，第三科室25人，第四科室34人，随机抽取一人到外地考察学习，抽到第一科室的概率是多少？（　　）

A.0.3　　B.0.24　　C.0.2　　D.0.15

62.野生动物保护机构考察某圈养动物的状态，在n（n为正整数）天中观察到①有7个不活跃日（一天中有出现不活跃的情况）；②有5个下午活跃；③有6个上午活跃；④当下午不活跃时，上午必活跃。则n等于（　　）。

A.10　　B.9　　C.8　　D.7

63.每年三月某单位都要组织员工去A、B两地参加植树活动。已知去A地每人往返车费20元，人均植树5棵，去B地每人往返车费30元，人均植树3棵，设到A地员工有x人，A、B两地共植树y棵，y与x之间满足y=8x−15，若往返车费综合不超过3000元，那么，最多可植树多少棵？（　　）

A.498棵　　B.400棵　　C.489棵　　D.500棵

64. 有135人参加某单位的招聘，31人有英语证书和普通话证书，37人有英语证书和计算机证书，16人有普通话证书和计算机证书，其中一部分人有三种证书，而一部分人则只有一种证书，该单位要求必须至少有两种上述证书的应聘者才有资格参加面试，问至少有多少人不能参加面试？（　　）

A.50人　　B.51人　　C.52人　　D.53人

65.有A和B两个公司想承包某项工程。A公司需要300天才能完工，费用为1.5万元/天。B公司需要200天就能完工，费用为3万元/天，综合考虑时间和费用等问题，在A公司开工50天后，B公司才加入工程：按以上方案，该项工程的费用多多少？（　　）

A.475万元　　B.500万元　　C.525万元　　D.615万元

66.掷两个骰子，掷出的点数之和为奇数的概率为p_1，掷出的点数之和为偶数的概率为p_2，问p_1和p_2的大小关系？（　　）

A.$p_1=p_2$　　B.$p_1>p_2$

C.$p_1<p_2$　　D.p_1、p_2的大小关系无法确定

67.一只挂钟的秒针长30厘米，分针长20厘米，当秒针的顶点走过的弧长约为9.42米时，分针的顶点走过的弧长约为多少厘米？（　　）

A.6.98厘米　　B.10.47厘米　　C.15.70厘米　　D.23.55厘米

68.某果农要用绳子捆扎甘蔗，有三种规格的绳子可供使用：长绳子1米，每根能捆7根甘蔗；中等长度绳子0.6米，每根能捆5根甘蔗；短绳子0.3米，每根能捆3根甘蔗，果农最后捆扎好了23根甘蔗，则果农总共最少使用多少米捆绳子？（　　）

A.2.1米　　B.2.4米　　C.2.7米　　D.2.9米

69.某超市销售“双层锅”和“三层锅”两种蒸锅套装，其中“双层锅”需要2层锅身和1个锅盖，“三层锅”需要3层锅身和1个锅盖，并且每卖一个“双层锅”获利20元，每卖一个“三层锅”获利30元，现有7层锅身和4个锅盖来组合“双层锅”和三层锅“两种蒸锅套装，那么最大获利为（　　）。

A.50元　　B.60元　　C.70元　　D.80元

70.在一次航海模型展示活动中，甲乙两款模型在长100米的水池两边同时相同均速航行，甲款模型航行100米要72秒，乙款模型航行100米要60秒，若掉头转身时间略去不计，在12分钟内甲乙两款模型相遇次数为(　　)。

A.9次　　B.10次　　C.11次　　D.12次

71.设有编号为1、2、3、……、10的10张背面向上的纸牌，现有10名优秀者，第1名游戏者将所有编号是1的倍数的纸牌翻成另一面向上的状态，接着第2名游戏者将所有编号是2的倍数的纸牌翻成另一面向上的状态，……，第n名(n≤10)游戏者，将所有编号是n的倍数的纸牌翻成另一面向上的状态，如此下去，当第10名游戏者翻完纸牌后，那些纸牌正面向上的最大编号与最小编号的差是(　　)。

A.2　　B.4　　C.6　　D.8

72.为了国防需要，A基地要运载1480吨的战备物资到1100千米外的B基地。现在A基地只有一架“运9大型运输机”和一列“货运列车”，“运9”速度550千米每小时，载重能力为20吨，“货运列车”速度100千米每小时，运输能力为600吨，那么这批战备物资到B基地的最短时间为(　　)。

A.53小时　　B.54小时　　C.55小时　　D.56小时

73.某一农村的农民自发组织若干位同村农民到台湾旅行，其旅行费用包括：个人办理赴台手续费，在台旅行的车费平均每人503元，飞机票平均每人1998元，其他费用平均每人1199元，已知这次旅行的总费用是92000元，总的平均费用是4600元，问：赴台的总人数和个人办理赴台手续费分别是多少？(　　)

A.20人，700元　　B.21人，650元　　C.20人，900元　　D.22人，850元

74. 某场羽毛球单打比赛采取三局两胜制。假设甲选手在每局都有80%的概率赢乙选手，那么这场单打比赛甲有多大的概率战胜乙选手？(　　)

A.0.768　　B.0.800　　C.0.896　　D.0.924

75. 如图，某三角形展览馆由36个正三角形展室组成，每两个相邻展室(指有公共边的小三角形)都有门相通，若某参观者不愿返回已参观过的展室，那么他至多能参观多少个展室？(　　)

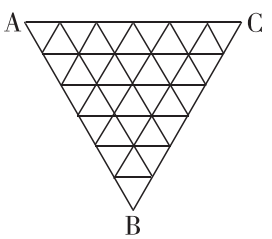

A.33个　　B.32个　　C.31个　　D.30个

第四部分　判断推理

（共35题，参考时限35分钟）

本部分包括四种类型的试题：

一、图形推理：共8题。请按每道题的答题要求作答。

请开始答题：

76.从所给四个选项中，选择最合适的一个填入问号处，使之呈现一定的规律性。

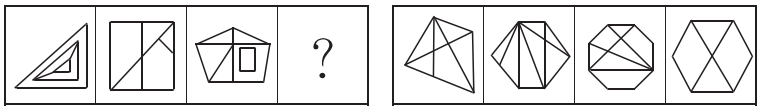

77.从所给的四个选项中，选择最合适的一个填入问号处，使之呈现一定的规律性。

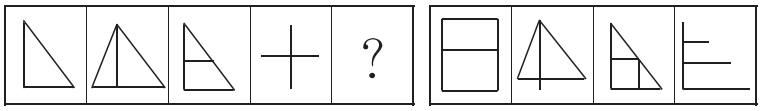

78.从所给的四个选项中，选择最合适的一个填入问号处，使之呈现一定的规律性。

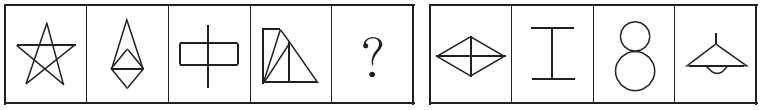

79.从所给的四个选项中，选择最合适的一个填入问号处，使之呈现一定的规律性。

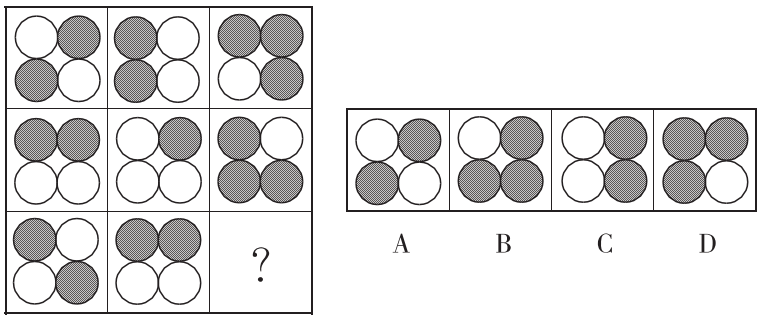

80.从所给的四个选项中，选择最合适的一个填入问号处，使之呈现一定的规律性。

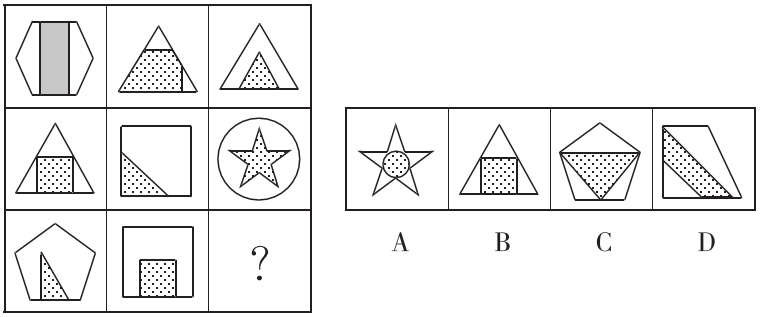

81.把下面的六个图形分为两类，使每一类图形都有各自的共同特征或规律，分类正确的一项是(　　)。

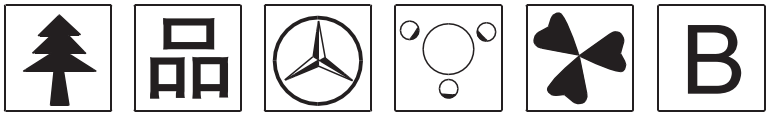

A.①②⑥；③④⑤　　B.①④⑤；②③⑥

C.①②⑤；③④⑥　　D.①②③；④⑤⑥

82.把下面的六个图形分为两类，使每一类图形都有各自的共同特征或规律，分类正确的一项是(　　)。

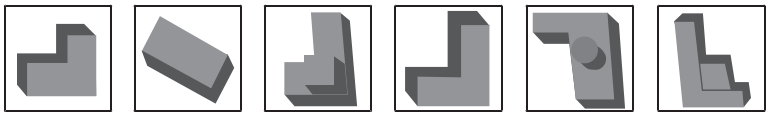

A.①②③；④⑤⑥　　B.①④⑤；②③⑥

C.①⑤⑥；②③④　　D.①④⑥；②③⑤

83.左边给定的是纸盒的外表面，下列哪一项能由它折叠而成？(　　)

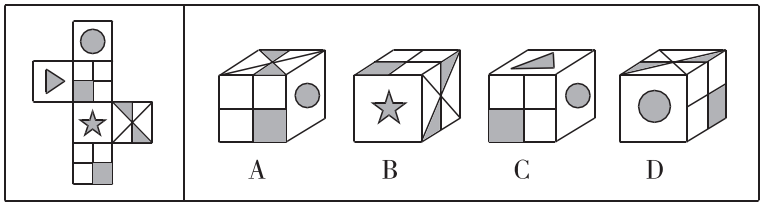

二、定义判断：共7题。每道题先给出定义，然后列出四种情况，要求你严格依据定义，从中选出一个最符合或最不符合该定义的答案。注意：假设这个定义是正确的，不容置疑的。

请开始答题：

84.行政不作为是行政机关对于公民、法人和其他组织的符合条件的申请依法应该实施某种行为或履行某种法定职责却无正当理由拒绝履行或拖延履行的行政违法行为。

下列选项中行政机关行为不属于行政不作为的是(　　)。

A.王某要求所在地交通局告知有关汽车养路费收费标准，三个月未答复

B.陈某在某市建设局工作多年，符合职称评定申请，申请职称评定被拒绝

C.林某投诉某市医药公司贩卖假药，某市药监局以不属于主管范围而拒绝

D.何某因制止违章建筑施工被打伤，公安机关以违章建筑无权处理不理睬

85.反社会人格犯罪是行为人基于反社会型变态人格而实施的犯罪行为。行为人的特点是：①智力和精神上并无明显缺陷，没有妄想或其他思维障碍；②多数有劣迹前科，有多次、多类型的违纪、违法、犯罪行为；③行为冲动、缺乏深思熟虑和明确的动机；④没有悔过和自责的心理，在接受教养或服刑以后仍然照旧违法犯罪，难以自控。

下列选项中行为人精神智力正常，其中最符合反社会人格犯罪特征的是(　　)。

A.陈某经常怀疑有人跟踪自己，某天下班后将走在自己后面的李某刺伤

B.林某多次上班迟到被领导当众呵斥，林某感觉受辱，将领导打成重伤

C.吴某有偷窥前科，某天下班遭遇抢劫，与劫匪搏斗中将劫匪打成残疾

D.王某街上闲逛，突然将陌生人郭某连刺两刀，随后将停在路边的汽车砸毁

86.近因原则是保险人对于承保范围的保险事故作为直接的、最接近的原因引起的损失，承担保险责任，而对于承保范围以外的原因造成的损失不负赔偿责任。按照该原则，承担责任并不取决于时间上或空间上的接近，而是取决于导致保险标的损失的风险事故是否在承保范围内，如果存在多个原因导致保险损失，其中最直接、最有效、起决定作用的原因，以及不可避免会产生事故作用的原因就是近因。

下列原因不属于近因的是(　　)。

A.张某夜间打猎不慎摔伤，在等待救援时受凉感冒引发肺炎导致死亡，其死亡原因是摔伤

B.王某的保险车辆遭受暴雨浸泡气缸进水，他强行启动车辆时发动机受损，受损原因为暴雨

C.暴风雨致电线杆倒塌，电线短路引起火花引燃仓库，库存商品燃烧殆尽，损失原因是暴风雨

D.船舶进水，所载皮革进水腐烂，腐烂恶臭致使邻舱的烟草变质，烟草受损原因是船舶进水

87.“公众参与”是一种有计划的行动。它通过政府部门与公众之间双向交流，使公民们能参加行政决策过程并且阻止和化解公民和政府机构与开发单位之间，公民与公民之间的冲突。

下列选项与上述定义最不符合的是(　　)。

A.某市宣传部发布倡议书，号召全体市民“绿色出行”，十万人回应支持

B.某市政府公开新建垃圾填埋选址方案，收到10万条反对意见而缓行

C.某县政府拟在工业园区内引进两条茶籽油生产线，组织附近村民座谈

D.居民多次向某市人大投诉规划局违规审批项目，该项目在实施前被叫停

88.贫困的要素不仅包括物质和收入水平指标，还包括能力指标，即人类基本能力和权利的剥夺。权利贫困就是缺乏政治、经济、文化和社会基本人权的一种贫困状态。权利贫困是贫困的核心，物质贫困是贫困的具体表现，权利贫困是造成物质贫困的根本原因。

下列选项不属于权利贫困的是(　　)。

A.张某大学毕业在京成为“蚁族”一员，收入低下，蜗居城乡结合部多年

B.辛某房屋被强拆，致使一家人居无定所，其申诉上访过程中多次被拘留

C.李某在深圳私企打工多年，因工伤丧失劳动能力，却得不到任何赔偿

D.王某好心救人却被讹诈，因无证据证明无辜，被判令承担全部医疗费用

89.交易成本是指在协商、谈判和履行协议等交易性活动中，为达成合作所需要支付的各种资源的总和。只要存在交易活动就存在交易成本，它已经成为人类社会中不可分割的组成部分。

下列选项不属于交易成本的是(　　)。

A.某公司为了搜索交易信息消耗了两天时间

B.老王在购房中为履行契约向中介支付了五千元

C.某工厂为了开拓生产花费五十万元购买专利

D.某企业因违反合同而支付五百万元的违约金

90.沉锚效应，指的是人们在对某事做出判断时，易受第一印象或第一信息支配，就像沉入海底的锚一样把人们的思想固定在某处。第一印象和先入为主是其在社会生活中的表现形式。

下列选项没有应用到沉锚效应的是(　　)。

A.一家粥店服务员为客人盛粥后总问：“加一个鸡蛋还是两个？”另一家服务员：“加不加鸡蛋？”头一家店日销售额总高于后一家

B.男孩邀请心仪女生说：“出去玩好吗？”女孩觉得拒绝好像很自然，答应是太主动，所以就说：“下次吧。”男孩认为女孩无意与他交往

C.邻居偷走华盛顿的马被发现拒不承认，华盛顿捂住马的双眼问邻居：“马的哪只眼是瞎的？”邻居说：“右眼。”事实上，马的两只眼睛都没毛病

D.你去商场闲逛,导购小姐诱导说:“反正今天是出来买鞋的,甲或者乙都符合你的气质,请选一双吧。”然后你就挑选了其中一双

三、类比推理:共10题。每道题先给出一组相关的词,要求你在备选项中找出一组与之在逻辑关系上最为贴近、相似或者匹配的词。

请开始答题:

91.港湾:停泊

A.基因:遗传　　B.法庭:诉讼

C.电缆:发电　　D.公路:运输

92.谎言:欺骗

A.谣言:抱怨　　B.谗言:无知

C.佯言:委婉　　D.诤言:劝诫

93.爆胎:事故:保险

A.论坛:交流:学术　　B.前卫:时尚:流行

C.能源:电力:生产　　D.旱灾:减产:补贴

94.舅舅:外甥

A.祖父:父亲　　B.姑父:姑姑

C.丈人:女婿　　D.媳妇:儿子

95.树根:根雕:工艺品

A.纸张:风筝:春天　　B.粘土:唐三彩:古董

C.消费:借贷:信用　　D.泥沙:混凝土:建筑

96.竞争:淘汰

A.惊吓:失色　　B.疏忽:失算

C.亏损:失信　　D.判断:失误

97.沧桑:白发

A.清纯:酒窝　　B.稚嫩:乳牙

C.鲁莽:健壮　　D.博学:眼镜

98.三顾茅庐:刘备

A.负荆请罪:蔺相如　　B.请君入瓮:周兴

C.雪中送炭:宋太宗　　D.程门立雪:程颐

99.赛事　对于　(　　)　相当于　(　　)　对于　编辑

A.哨子　文字　　B.运动　校对

C.裁判　书稿　　D.进取　精确

100.海马　对于　(　　)　相当于　(　　)　对于　珊瑚

A.海龙　海葵　　B.河马　礁石

C.木马　海螺　　D.贝壳　海带

四、逻辑判断：共10题。每道题给出一段陈述，这段陈述被假设是正确的，不容置疑的。要求你根据这段陈述，选择一个答案。注意：正确的答案应与所给的陈述相符合，不需要任何附加说明即可以从陈述中直接推出。

请开始答题：

101.蚊子可传播多种疾病，如疟疾、丝虫病、乙型脑炎等。有人担心由于蚊子叮咬了HIV感染的人而在叮咬下一位时会将存在蚊子体内的HIV在人际间传播。但研究人员指出这样的担心大可不必。

如果以下各项为真，最能支持研究人员观点的是(　　)。

A.HIV感染的人血液中并不总是拥有高水平的HIV病毒

B.蚊子叮咬HIV感染的人后不一定立即去叮咬下一个人

C.蚊子通过食管吸入血液，这种血液的吸入总是单向的

D.孩子容易被蚊子叮咬，但他们身上极少发生HIV感染

102.研究者发现细菌就像人类的简化版本，它们有自我意识，有自己的语言，群居，既交友也树敌，喜欢偷窥邻居家的隐私，还能以讹传讹，甚至杀害手足。各种细菌在自己的地盘上各司其职，相互配合，促进社会的稳定。

如果以下各项为真，最能质疑上述论断的是(　　)。

A.通过释放某种物质，细菌可召集群体成员执行各种任务

B.细菌的生活极其单调，不在单独进食，就在自我繁殖

C.新型研制的阻断细菌交流的药物可以替代普通的抗菌素

D.霍乱、肺炎和食物中毒，实际就是各种细菌聚集的后果

103.研究发现，大西洋、太平洋海面水温的微小变化与南美洲亚马逊热带雨林地区火灾的面积具有密切联系，将这种联系建立数学模型，可以用来预测亚马逊热带雨林地区来年的火灾情况。

以下哪项如果为真，最能支持上述观点？(　　)

A.大西洋海水温度升高0.2℃，亚马逊雨林次年火灾发生面积增加11%

B.海水温度增高会引起水分蒸发，导致降水减少，发生干旱或致火灾

C.海水温度变化虽然微小，但可能对热带雨林生态系统造成重要影响

D.北冰洋等海面水温可预测其附近的西伯利亚雨林火灾发生率和面积

104.科学就是不断接近真理的过程，我们深信不疑的事情中很大部分是会过期的，所有理解这一点的人都明白在发展过程中不断更新知识才是科学进步的正道，然而这个过程有时会令人困惑和不安。

如果以下各项为真，最能质疑上述论断的是(　　)。

A.婴儿该仰睡还是趴着睡，孕妇抽烟喝酒是否安全，答案一代和一代不同

B.医学院的老师会告诉学生，五年内他们所学的知识里有一半都不会适用

C.我一直以为“雷龙”这个名字正确无误，但后来才发现根本没有雷龙

D.吸烟有害健康被大量科学研究和事实所证实，这一结论至今难以改变

105.英国肯特大学的研究人员让两组志愿者分别玩益智游戏和观看关于跑车的纪录片，然后再让他们进行室内自行车耐力测试。结果，自认为筋疲力尽的第一组成员比第二组更容易放弃。然而，研究者却发现，两组志愿者的血压、耗氧量及心排血量之间并没有差异。

由此可以推出(　　)。

A.脑力活动影响体力只是一种感觉偏差　　B.两组志愿者之间的体能素质十分相近

C.益智游戏与看电视消耗的体能相同　　D.体力劳动可以激发脑力劳动者的潜能

106.矿产勘探人员观察发现，不同颜色和形状的矿物结晶体虽然有各自不同的名称和表象，但可能是化学组成相同的物质在不同的物理化学条件下结晶成不同结构的晶体，而且一般都有着不同的物理特征。所以说，不同的矿物种类可以有相同的化学成分。

以下选项最能支持上述论断的是(　　)。

A.二氧化碳和干冰名称不同而且表象也不同

B.不同颜色的矿物晶体暴露在空气里会变色

C.分析仪器能快速判断矿物晶体的化学成分

D.二氧化硅可以有12种不同的矿物结晶体

107.研究人员将人体标本低温冰冻后，用工业铣床逐层铣切，逐层照相，输入计算机获取人体连续横断面图像，然后进行人体结构的三维重建。通过计算机技术将采集的数据编辑成可解剖的数字人体，其断面与可解剖的整体人相结合，并且所有结构可以单独显示和旋转，实现了可视化虚拟人体解剖。有了这项技术，各国医学院学生再也不需要去做人体解剖实验了。

以下哪项如果为真最能质疑上述论断？(　　)

A.该技术涵盖了绝大部分人体的解剖结构

B.虚拟人体解剖对计算机操作的要求很高

C.可视虚拟人体试验系统的售价很高

D.所有的解剖学专业术语都只有英文提示

108.有甲、乙、丙、丁、戊五个人坐在一张圆桌上吃饭，其中有两个人是法律专业，有两个人是文学专业，有一个人是历史专业。已知两个法律专业的人和两个文学专业的人都坐在相邻位置，甲与丁同一个专业，丙坐在乙和一个文学专业的人之间，戊和乙不相邻，丙和甲不相邻。

则下列推断正确的是(　　)。

A.甲是文学专业　　B.乙是法律专业

C.丙是文学专业　　D.戊是历史专业

109.国外的心理学研究表明,当遇到有人冒犯你时,如果你选择原谅冒犯者,冒犯者会更有可能在心理上感到悔恨而产生内在的愧疚。因此,类似的冒犯行为再次发生的可能性会大大降低。

根据以上观点,可以推出(　　)。

A.被冒犯者原谅冒犯者,将可能有助于感化冒犯者

B.如果你不原谅冒犯者,类似的冒犯行为必然会增加

C.经常原谅冒犯者,就可能减少自己被冒犯的可能性

D.遇到冒犯者,原谅是唯一避免再次发生冒犯的方法

110.有关研究表明,手机比电脑更伤人,因为手机屏幕小,玩手机时注意力更投入,目不转睛,因此更伤眼。使用电脑时,人们的肢体还能活动活动,可是“手机控”往往很少活动,这对身心健康更为不利。

如果以下各项为真,最能削弱上述论断的是(　　)。

A.电脑在使用过程中,显示屏会发出电磁、电离辐射

B.电脑背景光比手机更容易引起使用者视力下降和头痛

C.科学研究表明使用手机与脑瘤和癌症的发病率无关

D.长期使用电脑人群容易患鼠标手、颈椎病等“电脑病”

第五部分　资料分析

（共15题，参考时限15分钟）

所给出的图、表、文字或综合性资料均有若干个问题要你回答。你应根据资料提供的信息进行分析、比较、计算和判断处理。

请开始答题：

一、根据下列资料，回答111～115题。

2013年二季度，我国税收月收入同比增速逐步提高，分别为7.9%、8.3%和12.9%。截至2013年6月，全国税收总收入完成59260.61亿元，同比增长7.9%，较上年同期回落1.9个百分点。其中，国内增值税、企业所得税同比分别增长6.6%和14.2%，较上年同期增速分别回落1.5和3.1个百分点；房产税同比增长11%，比上年同期增速回落19.1个百分点；进口货物增值税消费税和关税同比分别下降17.1%和16%，比上年同期增速分别回落24.5和22.9个百分点。

2013年1～6月全国主要税种收入表　　（单位：亿元）

税　目	收　入	比上年同期增收
企业所得税	14963.38	1857.07
国内增值税	14319.5	887.11
营业税	8845.14	1007.2
进口货物增值税消费税	6382.82	-1313.78
国内消费税	4353.49	150.93
个人所得税	3630.79	359.1
契　税	1946.04	554.07
车辆购置税	1236.7	150.03
关　税	1212.1	-230.9
城镇土地使用税	910.66	67.44
房产税	822.3	81.7
证券交易印花税	223.39	47.6
出口货物退增值税消费税	-5300.86	15.5

111.2012年1～6月全国税收总收入约完成（　　）。

A.52973.28亿元　　B.54921.79亿元　　C.56938.68亿元　　D.63942.19亿元

112.2013年上半年，房产税、城镇土地使用税及契税等三项增收之和占全国税收增收比重约为（　　）。

A.1.2%　　B.6.2%　　C.11.2%　　D.16.2%

113.2011年1～6月全国关税收入约为（　　）。

A.1300亿元　　B.1350亿元　　C.1380亿元　　D.1540亿元

114.2013年上半年与上年同期相比，下面四个税种中增速最快的税种是(　　)。

A.企业所得税　　B.国内增值税

C.出口货物退增值税消费税　　D.契税

115.下列说法与资料相符合的有几个？(　　)

①2013年第一季度我国税收总收入同比增速低于7.9%

②2013年我国税收总收入预计可以达到118520亿元

③若2013年上半年进口货物增值税消费税维持上年同期水平，那么2013年上半年我国税收总收入同比增长将比2012年提高约0.5个百分点

④2013年我国上半年企业所得税、国内增值税两项之和超过同期税收总收入的50%

A.0个　　B.1个　　C.2个　　D.3个

二、根据下列资料，回答116～120题。

2012年，全国国内旅游人数29.57亿次，比上年增长12.0%。其中，城镇居民19.33亿人次。2012年，全国国内旅游收入22706.22亿元人民币，比上年增长17.6%。2012年全国入境外国游客人数比上年增长0.3%，其中，亚洲市场入境人数1664.88万人次，与上年基本持平，占入境外国游客人数的61.2%；欧洲市场入境人数593.16万人次，增长0.2%；美洲市场入境人数317.95万人次，减少0.7%；大洋洲市场入境人数91.49万人次，增长6.5%；非洲市场入境人数52.49万人次，增长7.4%。

2012年主要客源国入境旅游情况

国　家	入境旅游人数(万人次)	与上年比较(%)
美　国	211.81	0.1
日　本	351.82	-3.8
俄罗斯	242.62	-4.3
韩　国	406.99	-2.8
英　国	61.84	3.8
德　国	65.96	3.5
马来西亚	123.55	-0.8
越　南	113.72	13.0
澳大利亚	77.43	6.6
蒙　古	101.05	1.6
菲律宾	96.20	7.6
新加坡	102.77	-3.3
加拿大	70.83	-5.3
意大利	25.20	7.2
印　尼	62.20	2.2
哈萨克斯坦	49.14	-2.9
缅　甸	20.59	7.8

泰　国	64.76	6.5
印　度	61.02	0.6
法　国	52.48	6.4

116.2011年，全国国内的旅游收入约为(　　)。

A.15247.11亿元人民币　　B.17354.03亿元人民币

C.18642.37亿元人民币　　D.19308.01亿元人民币

117.2012年，农村居民国内旅游人数占全国国内旅游人数的比例约为(　　)。

A.30.53%　　B.32.43%　　C.34.63%　　D.38.83%

118.2012年，欧洲各国入境游客量占欧洲入境游客总量比例超过11%的国家有(　　)。

A.1个　　B.2个　　C.3个　　D.4个

119.2011年，除美国、加拿大以外的美洲国家游客入境旅游人数约为(　　)。

A.13.8万人次　　B.23.8万人次　　C.33.8万人次　　D.43.8万人次

120.根据上述资料，不能推出的是(　　)。

A.2012年，韩国为我国第一大入境客源国

B.2012年，在20个主要客源国中，六成来自亚洲

C.2012年，非洲市场入境游客量占入境外国游客总量的2.1%

D.2012年，越南是入境旅游人数增长最快的客源国

三、根据下列资料，回答121～125题。

经过50多年的发展，我国台湾地区资本市场建立起由“证券交易所集中市场-上柜市场-兴柜市场”构成的完善成熟的多层次资本市场体系。近年由于金融海啸、欧债危机等因素影响，台湾多层次资本市场总体成交值从2010至2012年连续3年下降，2012年较2011年衰退23.38%。周转率也呈现逐年下降趋势，2012年证券交易所集中市场周转率为97%，上柜市场周转率为175%，兴柜市场周转率为27%。

2012年台湾多层次资本市场一览表　　(单位：10亿新台币)

项　目	证交所集中市场	上柜市场	兴柜市场
挂牌公司数(家)	809	638	285
资本额	6384	667	335
总市值	21352	1737	538
挂牌公司营收	20083	1384	497
总成交值	20789	2987	154

台湾资本市场第一层次是证券交易所集中市场。在准入门槛方面，台湾证交所要求上市企业实收资本6亿新台币以上：从设立年限来看，要求上市企业设立满3年以上：从获利能力来看，要求上市企业最近1个会计年度无累计亏损，且税前利润占财务报表中的比

率最近5个年度达到3%以上，或最近2个年度都达6%。至2012年底止，上市公司有809家，资本额6.384兆新台币，台湾证券交易所总市值在世界交易所联合会（WFE）会员中排名与前一年份相同，为第22名，所占比重仍为1.34%；成交值排名第15名，排名不变，所占比重由1.41%略微降至1.39%；周转率排名为第9名，较2011年下降2名。

台湾资本市场第二层次是上柜市场。在准入门槛方面，上柜市场要求公司实收资本额必须在新台币5000万元以上；从获利能力来看，上柜公司要求个别及合并财务报表获利能力最近年度达4%以上，且其最近一个会计年度结算无累积亏损，或最近二个年度获利能力均达2%以上。至2012年底，上柜公司有638家，资本额0.667兆新台币，总市值1.737兆新台币。

台湾资本市场第三层次是兴柜市场。在准入门槛方面，兴柜市场没有营业利润、资本额、设立年限的限制，只须符合已经申报上市或上柜辅导且有两家以上证券商书面推荐。至2012年底，兴柜公司有285家，资本额0.335兆新台币，总币值0.538兆新台币。

121.2012年，台湾某企业家实收资本为2亿新台币，该企业最近2个年度财务报表获利能力均为3%，该企业最适合进入台湾哪个资本市场？（　　）

A.证券交易所集中市场　　B.上柜市场

C.兴柜市场　　D.无法进入

122.2012年世界交易所联合会（WFE）会员总市值为（　　）。

A.894.73兆新台币　　B.1593.43兆新台币

C.1799.73兆新台币　　D.2135.22兆新台币

123.2012年台湾证券交易所集中市场平均每家公司成交值约是兴柜市场平均每家公司成交值的（　　）。

A.17.6倍　　B.27.6倍　　C.37.6倍　　D.47.6倍

124.2011年台湾三个层次资本市场的总成交值约为（　　）。

A.15.441兆新台币　　B.23.931兆新台币

C.31.232兆新台币　　D.45.023兆新台币

125.同2011年相比，2012年台湾证券交易所在世界交易所联合会（WFE）中，发生变化的是（　　）。

A.总市值排名　　B.总市值比重　　C.成交值比重　　D.成交值排名

准考证号

姓名

2015年浙江省公务员录用考试试卷

《申　论》

重要提示：

为维护您的个人权益，确保公务员考试的公平公正，请您协助我们监督考试实施工作。

本场考试规定：监考老师要向本考场全体考生展示题本密封情况，并邀请2名考生代表验封签字后，方能开启试卷袋。

条形码粘贴处

请将此条形码揭下，
贴在答题卡指定位置

注意事项

1.申论考试与传统的作文考试不同，是分析驾驭材料的能力与表达能力并重的考试。

2.作答参考时限：阅读资料40分钟，作答110分钟。

3.仔细阅读给定的资料，按照后面提出的“作答要求”依次作答在答题纸指定位置。

4.答题时请认准题号，避免答错位置影响考试成绩。

5.作答时必须使用黑色钢笔或签字笔，在答题纸有效区域内作答，超出答题区域的作答无效。

停！请不要往下翻！
听候监考老师的指示。
否则，会影响你的成绩。

给定资料

资料1

创客是指利用开源硬件和互联网将各种创意变为实际产品的人，他们将制造业搬到了自己桌面上，电子服装、健康手环、智能手表、食物烹饪器等等，创客在带有加工车间和工作室功能的软硬件开放实验室（创客空间）将创意变成产品原型，实现从0到1。

对于很多中国人而言，“创客”还是个比较陌生的概念，但凭借蓬勃生命力和强劲发展势头，创客正在悄然影响着传统制造业。许多创客空间在产品设计和原型创造的基础上，还延伸了兼具产品孵化和企业孵化的功能，在这里不仅可以实现从0到1再到100，即从创意而到产品原型再到小批量产品，还能给创客提供创业场地、管理咨询、投融资、渠道销售等服务，在用户体验和互联网推动下，创客产品成为热门的个性化定制商品；也有小部分创客产品经过市场检验获得大众需求的认可，成为工业化生产的大众商品。无论哪种形式，都完成了从创意向创业的转化过程，这种转化也正是创客文化繁荣发展的本质。

创客运动在中国的兴起时间虽短却发展迅猛，国内强大的制造业生态体系，丰富的人力资源，雄厚的资本和艺术沉淀是创客扎根成长的肥沃土地，它所迸发出的潜力是未来工业体系和经济发展的重要机遇。深圳是国内创客产业链最完整的城市，被誉为创客天堂。创客在这里可以找到齐全的电子元件，各类加工厂和技术工程人员，快速完成从创意到产品原型再到小批量生产的全过程；与深圳的务实高效相比，上海的创客显得气定神闲、回归本质，具有国外兴趣使然的创新氛围；北京的创客则更具跨界协同创新及创业精神，因为北京是顶尖技术人才，文艺人才和资本机构云集的城市。

创客群体没有职业范围和身份限制，任何有创意且有激情将创意变为现实的人都能成为创客。在创客空间既看不到高精端的大型仪器设备，也看不到众多发明专利和成果，创客空间里有的是热爱创造的人，他们以兴趣为导向、以创意为起点，以体验为动力，通过自我满足的创业方式将大众群体中蕴藏的巨大创新力挖掘和释放出来。

传统制造业以满足大众基本需求为目标，规模化生产出利润丰厚的热门产品。但随着热门产品的同质化发展和激烈竞争，大众需求会逐渐向个性化需求分解，这是经济发展给消费者选择产品带来的必然趋势。创客在这种趋势利导下产生，引领制造业从中心化和大规模形态朝着个体式和去中心化的方向发展，根据个性化需求来生产小众商品，给个体式制造业带来机遇。

2013年11月30日，英国《经济学家》杂志刊发的一篇题为《中国制造》的文章让中国“创客”成为焦点。该文章指出，中国创客的力量不可小觑，其潜在优势就是他们与所谓的山寨制造体系密切联系。企业之所以山寨是因为没有设计和创意，依靠模仿他人产品来生产制造，而创客恰恰是设计和创意的源泉和载体，在互联网时代，软件开源和硬件开源给中国企业提供了难得的平等创新机会，若能将创客的设计和创意嫁接于低端仿造业，让创客的

巨大创造性和制造需求与山寨企业完备的供应链资源和制造能力优势互补，或许能迸发出惊人的能量，这未必不是山寨企业转型的一条出路。

2013年11月4日，清华大学启动创客驻校园计划，计划每年聘请国内外知名创客进驻学校创客空间，鼓励学生主动参与创新实践，提升跨学科的技术与创意交流。此外，多所大学甚至一部分中学和职业院校也积极推动创客教育，各具特色、充满活力的教育创客空间盘活了院校科技资源，加强了教学与实践、教育与产业之间联动，培养出具有创新创业精神的一流人才。国内每年毕业的几百万大学生是创客运动的最佳人选，他们能将学业中萌发的创意思想和积累的研究成果衍变为创客项目，用自主创业的方式实现就业。这些创客项目转化为创业公司以后，会吸引更多不同层次的社会人才加入其中。麦肯锡2013年研究报告指出，由于机器人和网络技术的突飞猛进，过去10年大型制造企业的雇佣人数持续减少，因为规模制造对自动化生产系统的紧密依赖逐步取代了人工参与。而创客运动引领的个体式制造业根据用户个性化需求来定制生产商品，对技术、工程、艺术等各行各业人工劳动力的需求巨大，必然创造出大量新的就业岗位。

有人感叹：创客啊，耗费了多少绞尽脑汁，颠覆了多少司空见惯，收获了多少意外惊喜，蕴藏了多少令人期待？真让人“爱也难，不爱更难！”

资料2

互联网的日益普及和开发利用，不断为人们的工作和生活提供方便，网上购物、网上预约、网上咨询等等风靡中国。尤其对年轻人来说，他们更习惯于依靠网络解决各种困难，24岁的小茜对此深有体会。以前逢年过节要回家探亲，买火车票是最让她头疼的事。裹着大衣在寒冷的夜里排队购票、托关系找人购票、买“黄牛党”高价票等等，这些都曾亲身经历过。现在有了网络购票，别提多方便省事了。前不久，小茜和母亲通电话，听说母亲想到当地一家医院看“专家门诊”，可是排队很长时间还不一定能挂上号。小茜立刻到网上替母亲挂上了专家号。

贾先生一直为儿子小学毕业上哪所初中犯愁。同事给他支招，赶紧找人托关系打招呼，该花钱就花钱。贾先生知道，这是多年来老百姓为孩子上学求人的“惯例”。即使心里一万个不乐意，可是为了孩子，求人花钱，也是正常。谁知今年区里实行了“新政”，学区内八成小学生通过电脑派位的形式进入学区初中校学习。学生可填报两次志愿，学生在第一批次可填报不少于4所学校，第二批次可填报不少于5所学校。第一批次志愿面对全区所有学生，不设身份限制，全区所有优质资源品牌学校将拿出15%的比例用于第一批次派位。第二批次志愿学生只可填报自己所在学区内的中学，电脑根据志愿随机分配。结果，贾先生的儿子顺利进入一所理想的中学。

小林买了一套装修好的二手房，准备利用国庆假期搬家。他的父母特地从老家赶来，还带了舅舅、表哥等三四个人来帮忙。谁知小林早已请好了搬家公司，总共花了800元，半天时间东西全部搬上楼安置妥当。小林在楼下饭店请父母舅舅们吃饭，舅舅说：“没帮上忙，

还害你花钱请吃饭。早知道这样我们就不来了。”表哥说:“你们长辈的老习惯今后可以改改了。找亲友帮忙搬家,人累得够呛不说,钱也不少花,光是一顿饭加上烟酒钱,就够付人家搬家费了。”父亲说:“搬新家是喜事,找人帮忙是老习惯,请人吃饭感谢感谢,也是人之常情嘛。不过,要是光算经济账,看来还真不如请搬家公司。”

小辉父母家里的一台老式电视机坏了,要买台新的。早已养成办事“找关系”习惯的小辉父亲,有个经常一起钓鱼的好朋友,儿子在家电商场工作。小辉父亲不知打哪儿听说商场职工买东西可以打九折,就打算请这位朋友吃顿饭,请他的儿子帮忙,能便宜一二百块钱。小辉听说后连忙阻止了父亲。他上网一查,同样一款电视机,网上价格比商场便宜300多块。他从网上订购了一台,第三天电视机就送到了家里,父母非常高兴。小辉跟父亲说:“现在不比从前了,像电视机这样的东西,市场供应那么充足,还用得着找关系吗?”

资料3

南方某城市环保志愿者小黄觉得自己每天都生活在苦恼中。他和其他志愿者每个月都会上门向小区居民发放垃圾袋并现场进行分类投放指导。“有督导的时候,分类效果明显就好,但往往过一段时间,乱丢混丢的又多起来。”

厨余垃圾处理是道中国特色的垃圾难题。小黄说,中国菜中汤汤水水的厨余垃圾占垃圾总量的2/3,其中的有机物会使其变臭,而且会污染垃圾中的可回收物。为分出厨余垃圾,试点城市鼓励居民家庭把垃圾分干湿两类。可是即便只分出湿垃圾,准确投放率也不到30%。小黄看过一则简报,其中提到呼和浩特年降雨量400毫米,年蒸发量却可达2000毫米,湿垃圾没等处理就干了。“唉,可惜我们市不是呼和浩特啊!”

小黄的母亲从老家来暂住,她把小黄家里阳台上一半的空间都堆放了废纸箱和废瓶子。“前段时间攒了一箱矿泉水瓶才卖1块多钱,卖废品现在太不划算,价格低还占地儿!”

据估算,目前我国每年再生资源回收量有1.6亿吨,其中约8000万吨来源于生活垃圾,而我国每年产生的生活垃圾有2.5亿吨,生活垃圾的资源回收率达到30%以上。作为垃圾分类的重要环节,废品回收却一直没有被重视。

小黄认为,居民把家中可回收利用的物品卖掉,是良好的生活习惯。但目前可回收物的价格较低,而又常常不能马上处理,居民无处存放,这影响了他们的积极性。由于干湿分类没有做好,被弃置的垃圾当中有很多可利用的资源被湿垃圾污染了,若再进行人工分类分拣,成本很高。

邻居张大妈刚刚把垃圾分类丢好,就看到收垃圾的环卫工人将“可回收”与“不可回收”两箱垃圾混倒进运输车。“分好了又被混运,还不如不分。”她对小黄说。

目前,多数地方对垃圾分类的投入很少,就连投入相对多的北京、上海、广州、杭州等地也难以满足需求。小黄以广州为例算了一笔账,“如果这样持续3至4年,仅垃圾袋就需14亿元,以200人配1名指导员计算,广州市1800万人,每年需花费40亿元。这样的投入显然不可持续。”小黄感叹,“唉,中国的垃圾分类到底有没有出路啊?”

资料4

大学生小丽来自苏北农村，今年放暑假回家，发现家里跟其他村民一样将地里的秸秆放火烧了，跟父母争吵起来。

小丽：烧秸秆浪费资源，污染空气，又会破坏土壤结构，造成农田质量下降，你们不知道吗？

母亲：知道啊。县里乡里年年宣传，村里年年广播，怎么不知道呢？

小丽：那你们为什么明知故犯？

父亲：你这孩子，说的轻巧。不烧，你能怎样？每年农忙忙死人，哪有时间来捯饬那么多的秸秆？

小丽：不是有企业要回收秸秆吗？

母亲：那都是广播里说说的，到现在也没见有人来回收过。我们这里不沤沼气，又不养牛，那么多秸秆怎么办？现在搬进楼房住，家家户户也不烧锅灶了，当柴禾都没人要。

小丽：政府不是有专门补贴，用于秸秆加工还田吗？

父亲：要粉碎，买腐化剂，请人帮工，一亩地只补贴10元钱，够吗？

小丽沉默了。她感到很苦恼，在博客中写到，看来光埋怨农民是不能解决问题的，焚烧秸秆是农民多年的习惯做法，省时省力又省心，一时很难改掉。随着PM2.5环境检测的升级，焚烧对空气的负面影响日益显著，田间秸秆的出路究竟在哪里呢？

资料5

以下是根据一位资深广告人在某会议上的发言记录整理出的内容：

现在是一个大数据的时代，我们被逼跟着数据在走，我们在继续往前走的时候，要倒退到原点回顾一下你当初为什么要做这件事情，这是世界各地尤其是国内比较欠缺的东西。很多中国的企业都在扮演“我跟随”的角色，别的行业有这个东西，我也就要做。

我们都在寻找我们能做什么，其实我们都忽略了很重要的一点，我们更要知道你不能做什么，你不要做什么。我们常常看到很多广告和传播说你要做你自己，这是废话，你除了做你自己还做谁呀，你不能做周杰伦，周杰伦给周杰伦做了，刘德华也不行，你只有做你自己，但你要做得比周杰伦和刘德华还好。

这几年我号称自己是一个下岗的广告民工，我反而看到很多当时我身在广告业中看不到的东西，因为越来越平民化，越来越农民化，我看到的东西都是很小的东西，但这些东西都很可能举足轻重，能够改变很多东西。广告中，一些数据会引导我们，但我们会本着数据做很多东西，但千万不要把数据变成一个依据，你要在数据中找到有什么东西可以挑战，而不是变成一个护身符，数据说这样，我们就这样，这个时代，创意的思维方式可能超过以往任何时候。

做任何事情，大到做人、做行业，小到你要做的事情、要找的东西，你应该考虑，到底有

没有挑战？不能因为别的企业做了这样的东西，你就也要去做。你要想一想，你做的东西有没有挑战你的企业，会不会挑战你的员工，最主要有没有挑战你本身？尤其现今社会，人类基本上没有自信心。因为我们没有狼牙虎爪，我们连乌龟壳也没有，所以，我们需要包装，我们需要洋房、汽车、美容，再不行把面孔也改了，手机的美化软件就是应此而生。现在的手机我真的试过45度拍，脸真的尖了，现在的手机还可以让你美白，眼睛变大，大家可能也看过那种手机美女和真人对比，把你吓死。

国外一个电视台访问过很多最近新兴的小企业家，你会发现他们有一个共同点，他们都在新的尝试中找到挑战，基本上他做的不是他原来做的东西。所以，一定希望在你做的东西中找出你的挑战……不然的话，你如果只是想，尤其在中国大陆只是想明天过得比今天好一点，那太没有意思了。我估计在场每个人的学历和资历都会比我高，在下只有中学的学历，现在再把我送去高考，我还是会考不上，但我有自知之明，我读书少，我不会的东西多，从第一天开始，我到现在仍然有这个习惯，从零开始。在座各位可能觉得这个理论大家常听说，这个东西可能是任何行业最难做的东西——从零开始，人性的习惯会使你习惯于从你前一个案例，尤其是成功的案例去借鉴，你希望做得更好，但是，以我冷眼旁观，这里面有很多问题。最近我被邀请回新加坡，我现在被收录到新加坡档案局里，是以一个非典型而被记录，因为以我的背景我不可能有这一天，但是因为这个“零”有很多的意义，因为我什么都不懂，什么都不会，结果这变成我最擅长的一个行业。

所以，各位如果有机会的话，能否像我一样，我每天都逼着让自己客户归零，归零后一般人想出来的东西都和立场不一样。

我常常鼓励学生，我也会鼓励任何人不要怕犯错误，错误是一个很大的动力，当你不怕错误的时候，你差不多什么都敢做。我的能量来自什么？我学历不够，我甚至没有修过广告学。不要怕失败，我们常说失败是成功之母。所以，敢于去犯错误，我们有很多成语故事教过我们这样做，但我们是否真的从中学到过任何东西呢？

作答要求

第一题：阅读“资料1”中划线部分，请指出创客令人“爱也难，不爱更难”的主要原因。（20分）

要求：结合资料，全面、深刻、准确。字数不超过300字。

第二题：在“资料3～4”中，小黄和小丽的“苦恼”反映了基层管理工作面临的某种困境。请指出这种“困境”并提出改变这种困境的建议。（30分）

要求：概括准确，建议合理、可行，针对性强。字数不超过350字。

第三题：“资料5”中的“归零”说法，耐人寻味。请你结合实际，自选角度，自拟题目，写一篇议论性文章。（50分）

要求：1.主旨明确，内容充实。2.结构完整，论述深刻。3.条理清晰，语言流畅。4.字数在1000～1200字。